Заняття № 26 «Число і цифра 8. Піраміда»

Назвіть дні тижня

З якої казки ці герої?

Скільки днів тижня?
А скільки козенят у казці?

Утворення числа 8

6 Яка це цифра? Зафарбуйте трикутників червоним кольором на один більше

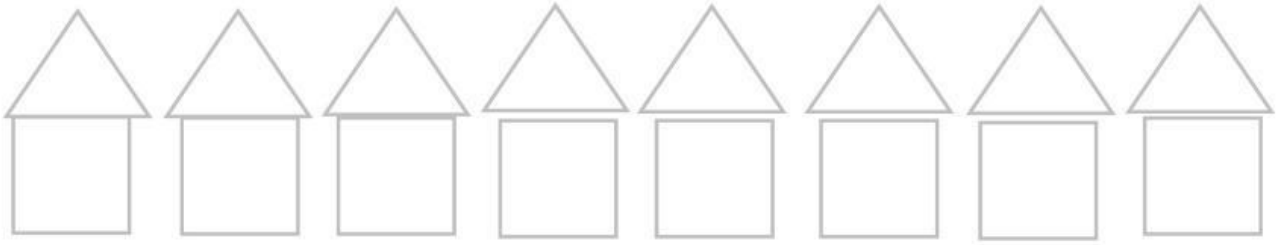

Зафарбуйте всі квадрати блакитним кольором
Чи вийшли у вас будиночки?
Що ви помітили?
Скільки квадратів? На скільки їх більше, ніж трикутників?
Що треба зробити, щоб була однакова кількість квадратів і трикутників?
Скільки квадратів? Трикутників? Як одержали число 8?

LIVEWORKSHEETS

Обведи першу цифру кольоровими олівцями
В рамочці впізнай цифру за контуром, та наведи її
А рибки підказують як її писати

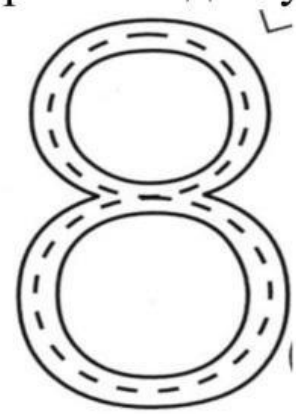

Напиши її спочатку по крапочкам

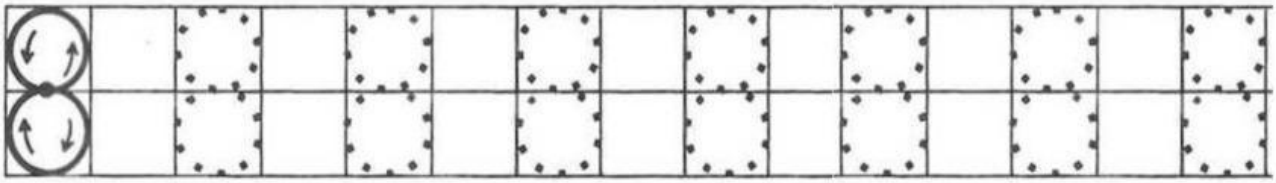

Спробуй самостійно написати через клітиночку

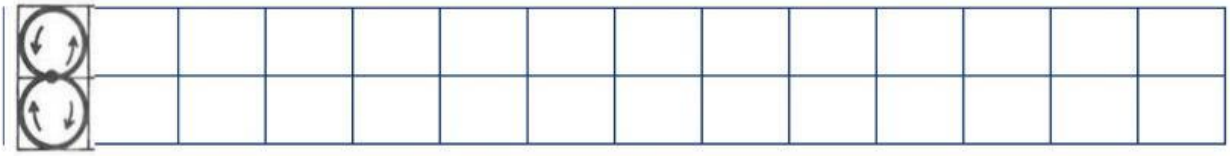

Допоможи песику добратися до кісточки по цифрам 8

LIVEWORKSHEETS