KHOA HỌC
TỰ NHIÊN 7

NHIỆM VỤ 1

Nhóm:

Bài 5: Phân tử - Đơn chất - Hợp chất

1. Hãy tìm kiếm và lắp ráp các nguyên tử thành các phân tử sau:

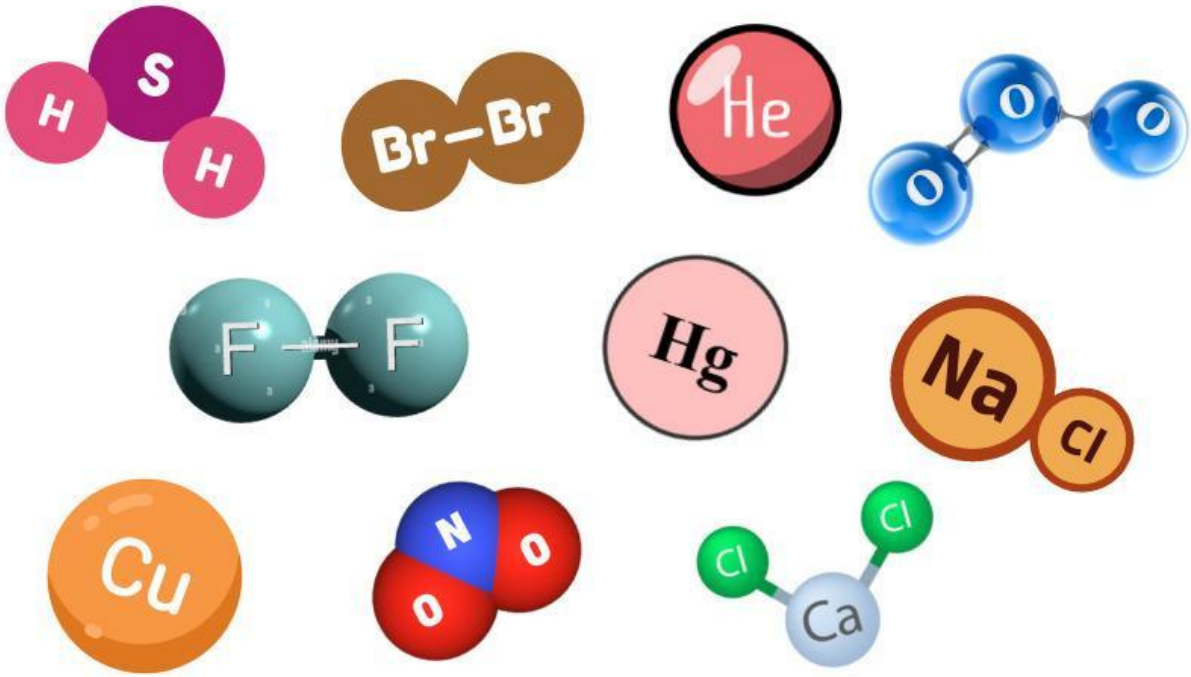

Lưu ý:

- *Màu sắc của các nguyên tử trong bộ mô hình có thể khác so với hình ảnh trong phiếu nhiệm vụ.*
- *Chú ý đến kí hiệu nguyên tố ghi trên bóng để lắp ráp.*
- *Các nguyên tử giống nhau trong một phân tử sẽ có **màu sắc như nhau**.*

2. Hãy gắn bảng tên các dạng phân tử lên hộp, sau đó phân loại các phân tử vào các hộp tương ứng:

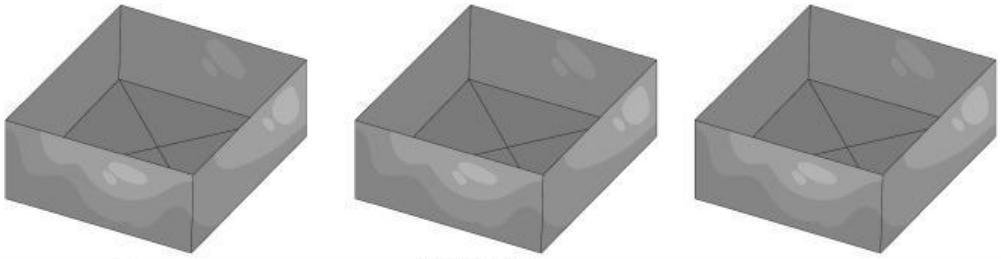

LIVEWORKSHEETS

KHOA HỌC
TỰ NHIÊN 7

NHIỆM VỤ 2

Nhóm:

Bài 5: Phân tử - Đơn chất - Hợp chất

Khối lượng các nguyên tử (amu):

H = 1

S = 32

Br = 80

He = 4

O = 16

F = 19

Hg = 201

Na = 23

Cl = 35.5

Cu = 64

N = 14

Ca = 40

Từ khóa điền thêm:

100 **A** **B** **C** **D**

LIVEWORKSHEETS

KHOA HỌC
TỰ NHIÊN 7

Nhóm:

NHIỆM VỤ 1

Bài 5: Phân tử - Đơn chất - Hợp chất

1. Hãy tìm kiếm và lắp ráp các nguyên tử thành các phân tử sau:

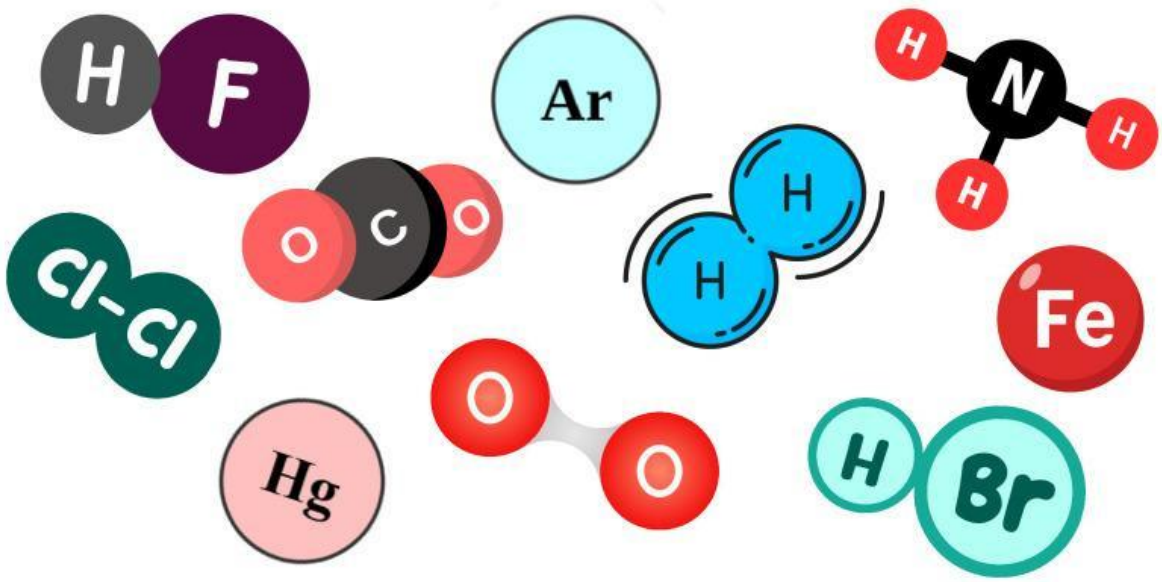

Lưu ý:

- *Màu sắc của các nguyên tử trong bộ mô hình có thể khác so với hình ảnh trong phiếu nhiệm vụ.*
- *Chú ý đến kí hiệu nguyên tố ghi trên bóng để lắp ráp.*
- *Các nguyên tử giống nhau trong một phân tử sẽ có **màu sắc như nhau**.*

2. Hãy gắn bảng tên các dạng phân tử lên hộp, sau đó phân loại các phân tử vào các hộp tương ứng:

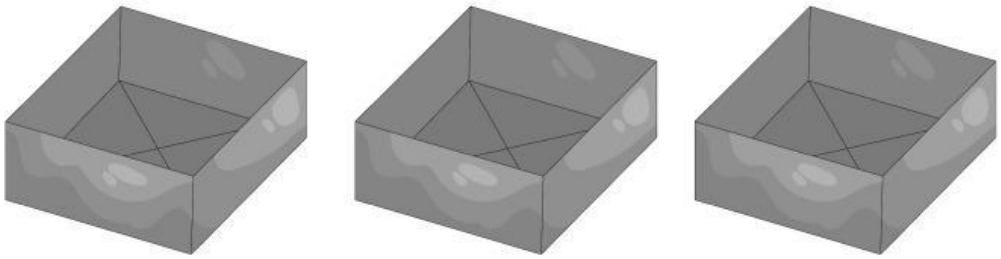

LIVEWORKSHEETS

KHOA HỌC
TỰ NHIÊN 7

NHIỆM VỤ 2

Nhóm:

Bài 5: Phân tử - Đơn chất - Hợp chất

Khối lượng các nguyên tử (amu):

H = 1

F = 19

Ar = 40

N = 14

Cl = 35.5

C = 12

O = 16

Fe = 56

Hg = 201

Br = 80

Ca = 40

Từ khóa điền thêm:

100 **A** **B** **C** **D**

LIVEWORKSHEETS

KHOA HỌC
TỰ NHIÊN 7

Nhóm:

NHIỆM VỤ 1

Bài 5: Phân tử - Đơn chất - Hợp chất

1. Hãy tìm kiếm và lắp ráp các nguyên tử thành các phân tử sau:

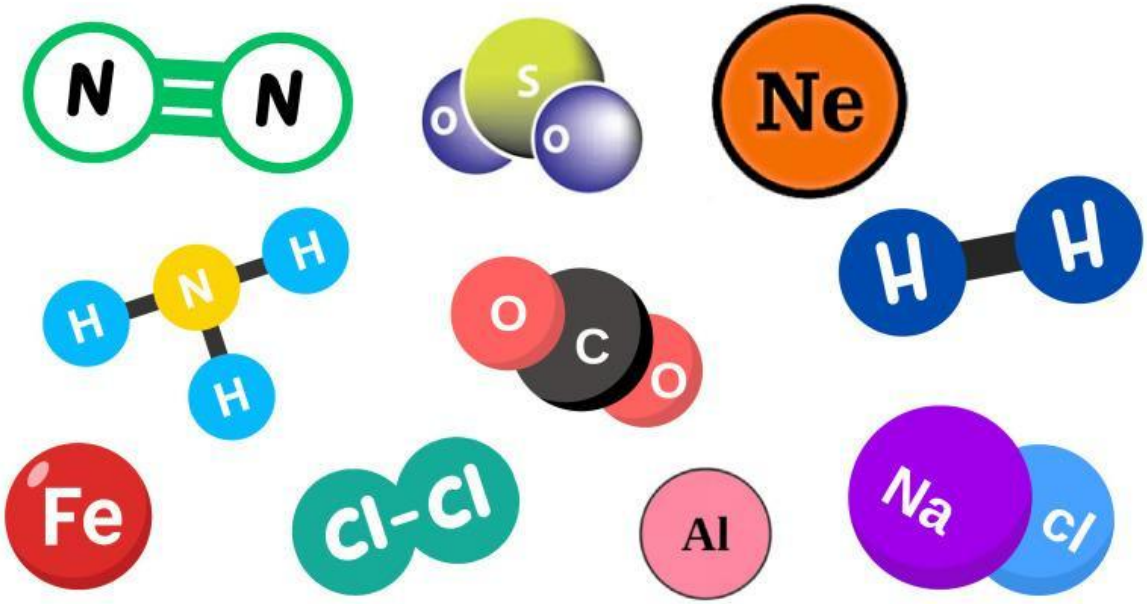

Lưu ý:

- *Màu sắc của các nguyên tử trong bộ mô hình có thể khác so với hình ảnh trong phiếu nhiệm vụ.*
- *Chú ý đến kí hiệu nguyên tố ghi trên bóng để lắp ráp.*
- *Các nguyên tử giống nhau trong một phân tử sẽ có **màu sắc như nhau**.*

2. Hãy gắn bảng tên các dạng phân tử lên hộp, sau đó phân loại các phân tử vào các hộp tương ứng:

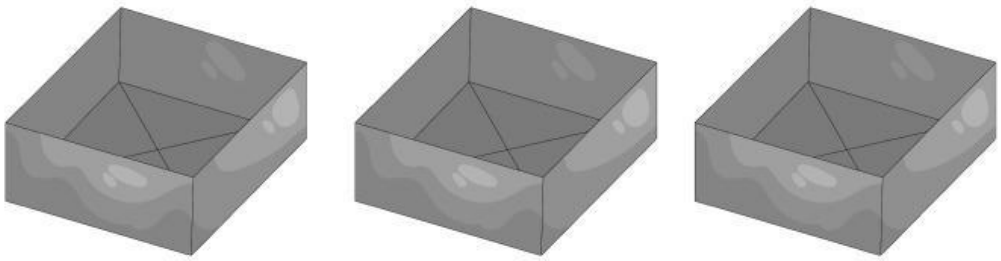

LIVEWORKSHEETS

KHOA HỌC
TỰ NHIÊN 7

NHIỆM VỤ 2

Nhóm:

Bài 5: Phân tử - Đơn chất - Hợp chất

Khối lượng các nguyên tử (amu):

N = 14

S = 32

O = 16

Ne = 20

H = 1

C = 12

Cl = 35,5

Al = 27

Na = 23

Fe = 56

Ca = 40

Từ khóa điền thêm:

100 **A** **B** **C** **D**

LIVEWORKSHEETS

KHOA HỌC
TỰ NHIÊN 7

Nhóm:

NHIỆM VỤ 1

Bài 5: Phân tử - Đơn chất - Hợp chất

1. Hãy tìm kiếm và lắp ráp các nguyên tử thành các phân tử sau:

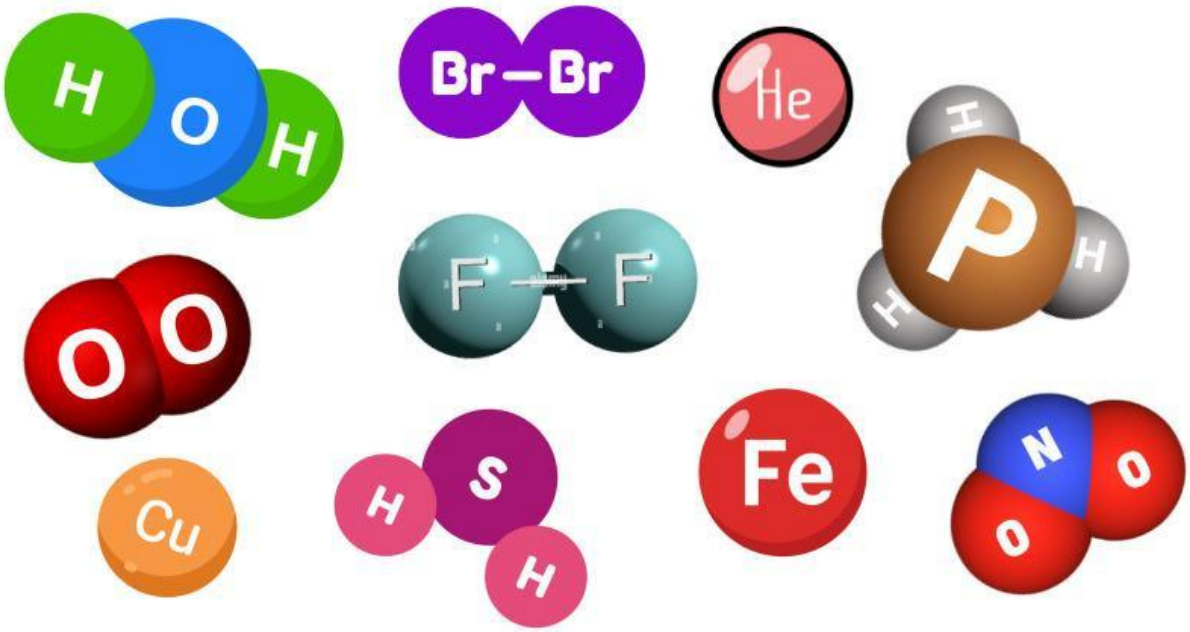

Lưu ý:

- *Màu sắc của các nguyên tử trong bộ mô hình có thể khác so với hình ảnh trong phiếu nhiệm vụ.*
- *Chú ý đến kí hiệu nguyên tố ghi trên bóng để lắp ráp.*
- *Các nguyên tử giống nhau trong một phân tử sẽ có **màu sắc như nhau**.*

2. Hãy gắn bảng tên các dạng phân tử lên hộp, sau đó phân loại các phân tử vào các hộp tương ứng:

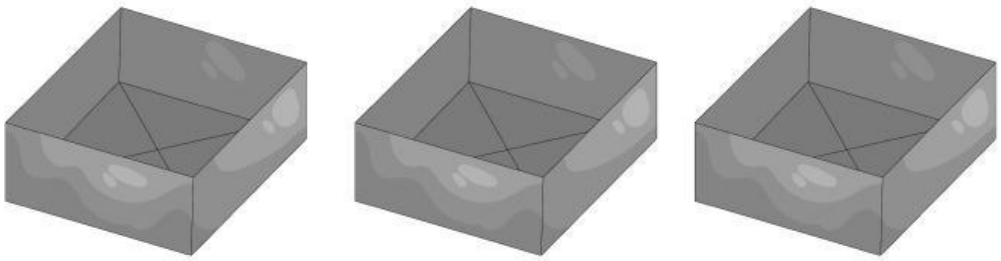

LIVEWORKSHEETS

KHOA HỌC
TỰ NHIÊN 7

Nhóm:

NHIỆM VỤ 2

Bài 5: Phân tử - Đơn chất - Hợp chất

Khối lượng các nguyên tử (amu):

H = 1

O = 16

Br = 80

He = 4

P = 31

S = 32

Cu = 64

Fe = 56

F = 19

N = 14

Ca = 40

Từ khóa điền thêm:

100 **A** **B** **C** **D**

LIVEWORKSHEETS

KHOA HỌC
TỰ NHIÊN 7

Nhóm:

NHIỆM VỤ 1

Bài 5: Phân tử - Đơn chất - Hợp chất

1. Hãy tìm kiếm và lắp ráp các nguyên tử thành các phân tử sau:

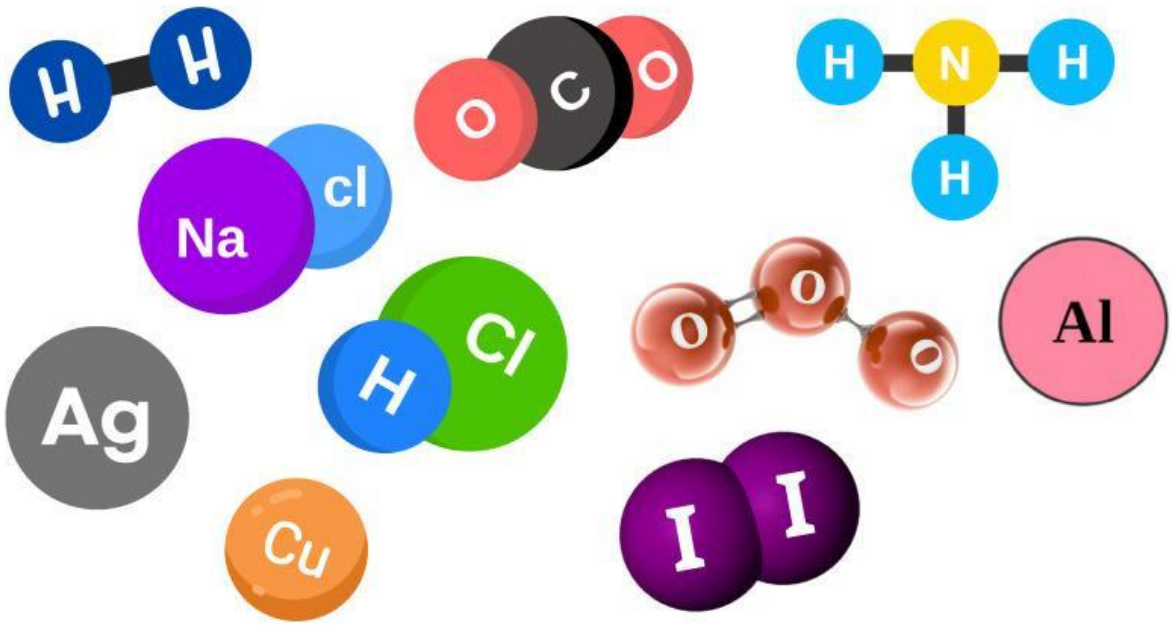

Lưu ý:

- *Màu sắc của các nguyên tử trong bộ mô hình có thể khác so với hình ảnh trong phiếu nhiệm vụ.*
- *Chú ý đến kí hiệu nguyên tố ghi trên bóng để lắp ráp.*
- *Các nguyên tử giống nhau trong một phân tử sẽ có **màu sắc như nhau**.*

2. Hãy gắn bảng tên các dạng phân tử lên hộp, sau đó phân loại các phân tử vào các hộp tương ứng:

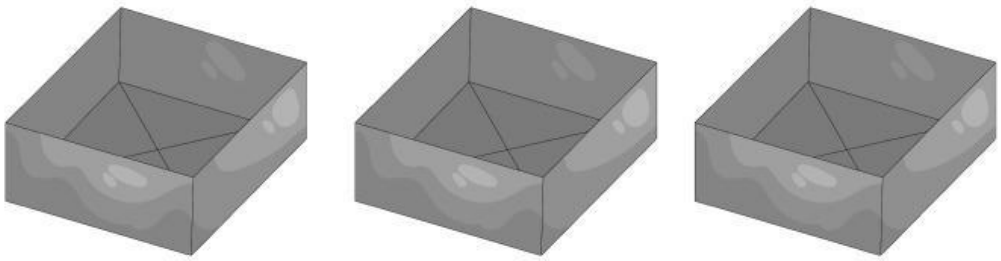

LIVEWORKSHEETS

KHOA HỌC
TỰ NHIÊN 7

Nhóm:

NHIỆM VỤ 2

Bài 5: Phân tử - Đơn chất - Hợp chất

Khối lượng các nguyên tử (amu):

H = 1

C = 12

O = 16

N = 14

Na = 23

Cl = 35.5

Ag = 108

I = 127

Cu = 64

Al = 27

Ca = 40

Từ khóa điền thêm:

100 **A** **B** **C** **D**

LIVEWORKSHEETS

KHOA HỌC
TỰ NHIÊN 7

Nhóm:

NHIỆM VỤ 1

Bài 5: Phân tử - Đơn chất - Hợp chất

1. Hãy tìm kiếm và lắp ráp các nguyên tử thành các phân tử sau:

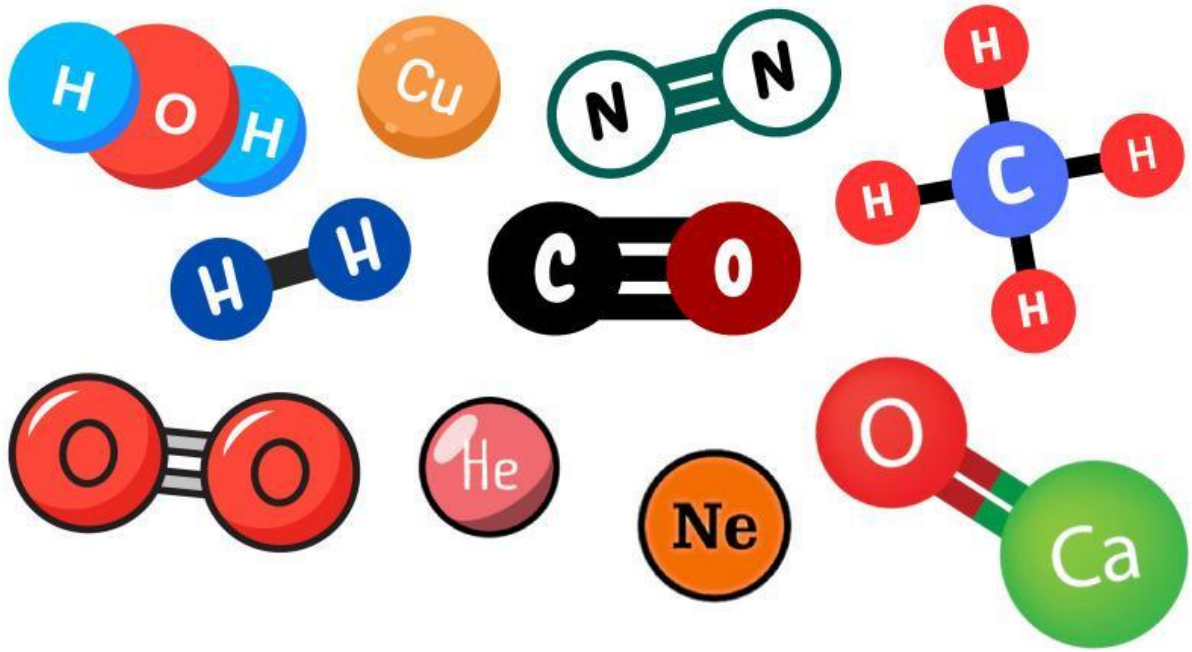

Lưu ý:

- *Màu sắc của các nguyên tử trong bộ mô hình có thể khác so với hình ảnh trong phiếu nhiệm vụ.*
- *Chú ý đến kí hiệu nguyên tố ghi trên bóng để lắp ráp.*
- *Các nguyên tử giống nhau trong một phân tử sẽ có **màu sắc như nhau**.*

2. Hãy gắn bảng tên các dạng phân tử lên hộp, sau đó phân loại các phân tử vào các hộp tương ứng:

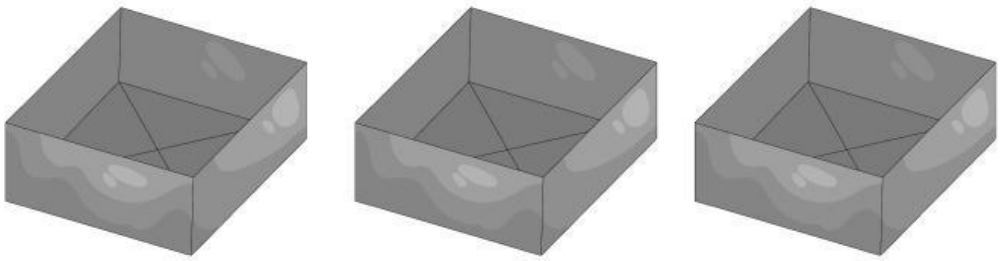

LIVEWORKSHEETS

KHOA HỌC
TỰ NHIÊN 7

Nhóm:

NHIỆM VỤ 2

Bài 5: Phân tử - Đơn chất - Hợp chất

Khối lượng các nguyên tử (amu):

H = 1

O = 16

Cu = 64

N = 14

C = 12

He = 4

Ne = 20

Ca = 40

Từ khóa điền thêm:

100 **A** **B** **C** **D**

LIVEWORKSHEETS