ورقة عمل تفاعلية: معالم الصخور الرسوبية

اسم الطالب .....الصف: ..... التاريخ : .....

س1. صل بين المفهوم والوصف المناسب له:

التطبق	علامات تتشكل عندما تترسب الرسوبيات في تموجات صغيرة تكونت بفعل الرياح أو الأمواج أو التيارات النهرية.
علامات النيم	معلم ترسيبي للصخور الرسوبية ويعد المعلم الرئيس. وهو وجودها على هيئة طبقات أفقية
تطبق متدرج	تموجات تتكوّن نتيجة حركة الأمواج على الشاطئ ذهابًا وإيابًا تدفع بالرمل وتوزعه على جانبي قمم التلال بانتظام.
علامات نيم غير متناظرة	مظهر آخر مميز للصخور الرسوبية ينشأ عندما تترسب طبقات مائلة نسبة الى بعضها البعض.
تطبق متقاطع	نوع من التطبّق تترتب فيه الحبيبات الأثقل والأكبر حجماً نحو الأسفل.
علامات نيم متناظرة	تموجات تتكوّن نتيجة حركة تيارات الماء في اتجاه واحد بحيث يكون الجانب المعاكس لاتجاه التيار أكثر انحدارًا ويحوي الرسوبيات الأخشن.

س2. قم بسحب الكلمة المناسبة ووضعها في الفراغ الصحيح:

تطبق متدرج | علامات نيم غير متناظرة | علامات نيم متناظرة | تطبق متقاطع

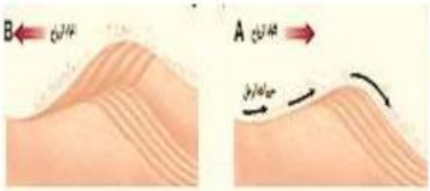

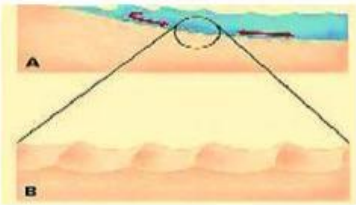

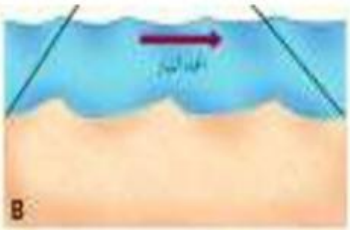

LIVEWORKSHEETS