وزارة المعارف والثقافة
משרד החינוך והתרבות
ביה"ס אל ספראא לבנים

مدرسة السفراء

بلدية اورشليم القدس
עיריית ירושלים

الاسم : ---------- مهمة تقييمة رياضيات للصف الرابع التاريخ :-------

الشعبة: ج المجال العددي – الكسور اليوم : ----------

اكتبوا يمثله الجزء المذكور في كل واحد من الأشكال التالية:

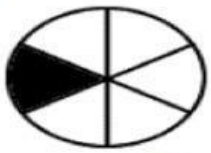

الجزء الأسود: _____

الجزء الأبيض: _____



الجزء الأسود: _____

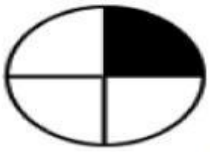

الجزء الأسود: _____

الجزء الأبيض: _____

الجزء الأبيض: _____



الجزء الأسود: _____

الجزء الأبيض: _____

تسمى الكسور السابقة بكسور _____

LIVEWORKSHEETS