الفصل 7	الدرس	تدريبات	صفحات الكتاب	التاريخ
المغناطيسية	7 – 2	المولد الكهربائي	45 - 46	/ /

C

ضع علامة (✓) امام العبارة الصحيحة وعلامة (×) امام العبارة الخاطئة:

1. في المولد الكهربائي تتحول الطاقة من حركية الى كهربائية ( ).
2. لتوليد الكهرباء نحتاج فقط لحركة ملف ( ).

B

تنتج المولدات الكهربائية تيارا كهربائيا يسري في ملف المولد، وبناءً على شكل حركة التيار يمكن تقسيمه الى أنواع.
أكمل المخطط التالي لنوعي التيار الكهربائي:

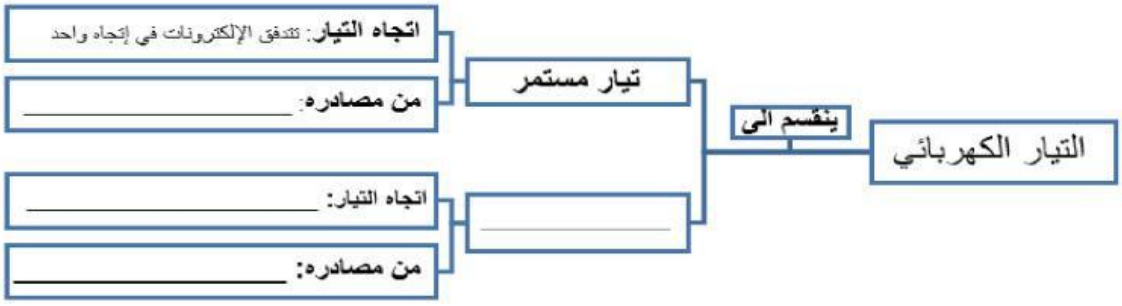

A

من أهم التطبيقات على التأثير المتبادل بين التيار والمجال المغناطيسي هما المحرك والمولد الكهربائيين. قارن بينهما:

الشكل والمكونات	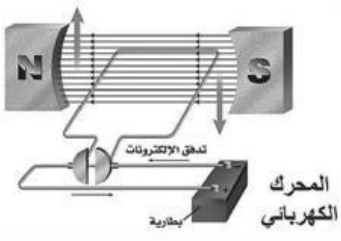 المحرك الكهربائي	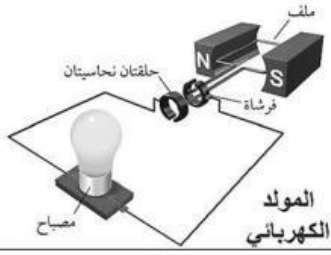 المولد الكهربائي
a. نوع الطاقة التي يحتاجها		
b. نوع الطاقة الناتجة		

LIVEWORKSHEETS