Діагностувальна робота 5
з теми «Усне додавання і віднімання круглих трицифрових чисел з переходом через розряди»
Тестова робота
Варіант 1

1. Обери, на якому малюнку зображено рівносторонній трикутник?

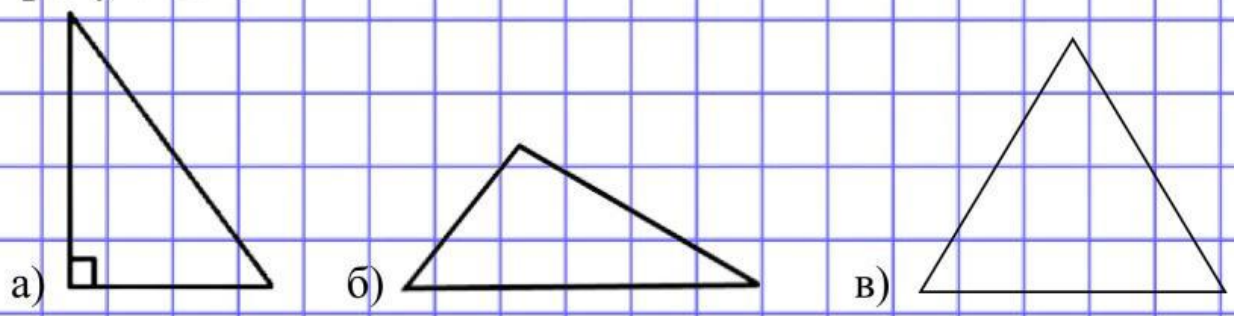

2. Познач формулу, за якою НЕ можна обчислити периметр квадрата

а) P = a + a + a б) P = a · 4 в) P = a + a + a + a

3. Обери вираз, який є розв'язком задачі

У одному класі навчається x учнів, а в іншому – y. Скільки всього учнів у обох класах?

а) $x - y$ б) $x + y$ в) $x \cdot y$

4. Познач порядок дій у виразах

51+ (97 – 91) : 3 34 + 4 · 6 – 39

LIVEWORKSHEETS

5. *Виконай обчислення*

60 м 15 см + 25 м 50 см = м см

6. Склади вираз зі змінною до задачі. Знайди значення виразу, якщо а = 90

Із першої ділянки господар зібрав 350 кг капусти, а з другої - на *а* кг менше. Скільки кілограмів капусти зібрав господар з двох ділянок?

Якщо а = 90, то ( ) =

( ) = ( )

Відповідь: капусти зібрав фермер із двох ділянок.

Оціни свою роботу. Постав цифру у відповідній клітинці.

1

2

3





Дію множення позначай зірочкою *

Дію ділення позначай двокрапкою :

LIVEWORKSHEETS