EQUIPAZO

VOLUMEN

Halla el volumen de cada cuerpo:

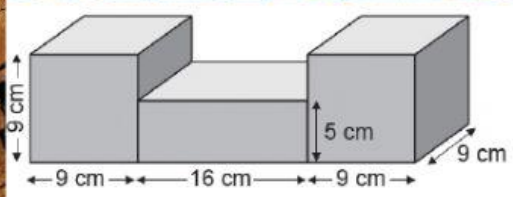

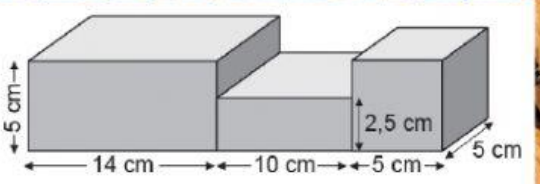

Las equivalencias entre unidades de volumen y de capacidad son:

$1\ m^3 = 1\ kl$ $\quad$ $1\ dm^3 = 1\ \ell$ $\quad$ $1\ cm^3 = 1\ ml$

Expresa en la unidad que se indica.

En mililitros	En litros	En kilolitros
• $1\ cm^3 =$	• $1\ dm^3 =$	• $1\ m^3 =$
• $4\ cm^3 =$	• $5\ dm^3 =$	• $8{,}3\ m^3 =$
• $8{,}5\ dm^3 =$	• $7{,}3\ m^3 =$	• $9{,}6\ dam^3 =$

3 **¿Cuál es la capacidad en litros de cada depósito? Observa el dibujo y calcula.**

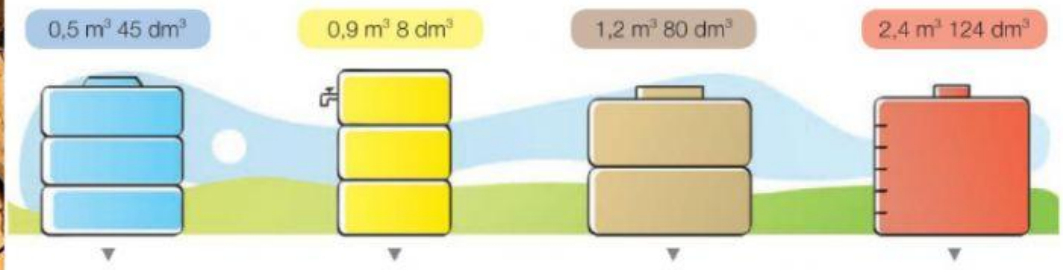

Observa las medidas y calcula su volumen.

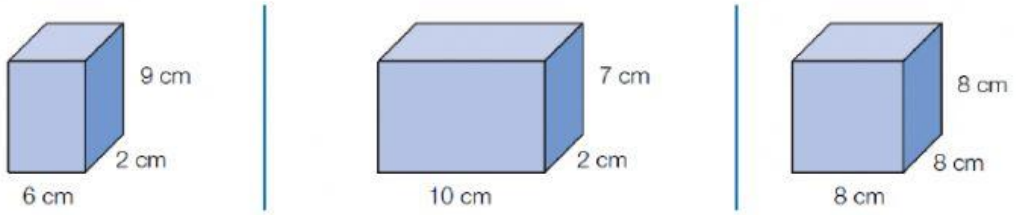

LIVEWORKSHEETS