BILANGAN PECAHAN KELAS VII

NAMA GURU : HERY SUTRISNO, S.Pd
INSTANSI : SMP NEGERI 06 PARINDU

NAMA SISWA :

KELAS :

A. PERHATIKAN VIDIO BERIKUT

B. DENGARKAN MP3 BERIKUT



LIVEWORKSHEETS

C. OPEN ANSWER

D. DROP DOWN

JAWABAN GAMBAR
DISAMPING BENAR ATAU SALAH?

$$\frac{2}{3} + \frac{1}{6} = \frac{5}{6}$$

LIVEWORKSHEETS

E. PILIHAN GANDA

$$Hasil\ \frac{4}{5} - \frac{1}{10}\ adalah\ ....$$

- $\frac{7}{10}$
- $\frac{4}{10}$
- $\frac{3}{10}$
- $\frac{3}{5}$

F. KOTAK CENTANG

Berilah tanda centang yang senilai dengan pecahan

$\frac{2}{3}$

- [ ] $\frac{4}{6}$
- [ ] $\frac{6}{9}$
- [ ] $\frac{1}{3}$

LIVEWORKSHEETS

G. MENJODOHKAN DENGAN GARIS

Pasangkan pecahan berikut dengan pecahan senilainya



H. DRAG & DROP

Urutkan pecahan berikut dari yang terkecil



LIVEWORKSHEETS