# แบบฝึกทักษะที่ 2

## เรื่อง ความยาวรอบรูปของวงกลม

คำชี้แจง จงหาความยาวรอบรูปของวงกลมให้ถูกต้อง

1 หาความยาวของเส้นรอบวงของวงกลม (กำหนด $\pi = 3.14$)

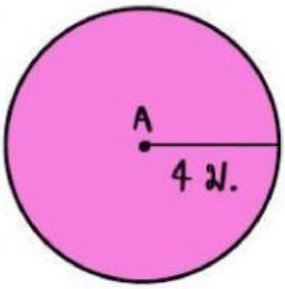


เมตร

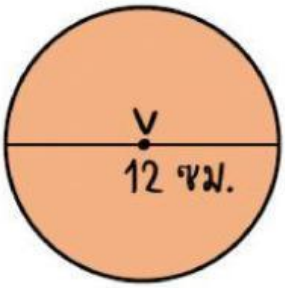


เซนติเมตร

2 หาความยาวของเส้นรอบวงของวงกลม (กำหนด $\pi = \frac{22}{7}$)

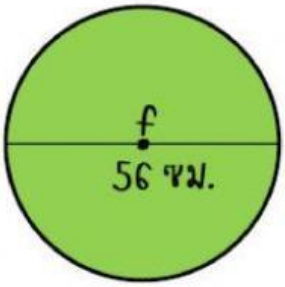


เซนติเมตร

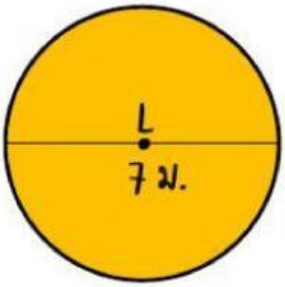


เมตร

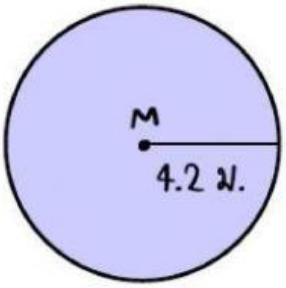


เมตร

ชื่อ-นามสกุล.....ชั้น.....เลขที่.....

LIVEWORKSHEETS
LIVEWORKSHEETS