SEKOLAH DASAR / MADRASAH

LEMBAR JAWABAN KOMPUTER

Contoh Cara Menyilang

A B C ✖ BENAR A B ✔ D SALAH

A ▬ C D SALAH A ✎ C D SALAH

PETUNJUK :

1. Isilah hanya dengan pensil 2B.
2. Lembar Jawaban ini tidak boleh kotor, basah, robek atau terlipat.
3. Jawablah dengan memberi Tanda Silang (X) pada salah satu kotak pilihan jawaban yang benar.
4. Tulislah Nama Peserta pada kotak yang disediakan, lalu silanglah (X) kotak di bawahnya sesuai dengan huruf di atasnya.
5. Tulislah Nomor Peserta dan Tanggal Lahir pada kolom yang disediakan, lalu silanglah (X) kotak di bawahnya sesuai dengan angka di atasnya.
6. Silanglah (X) kotak pada kolom Mata Pelajaran yang sedang diujikan.
7. Tulislah Nama Sekolah, Tanggal Ujian dan Bubuhkan Tanda Tangan pada kotak yang disediakan.
8. Jika salah, hapus sebersih mungkin dengan karet penghapus kemudian silanglah (X) kotak yang benar.

NAMA PESERTA

NOMOR PESERTA

Tanggal Lahir

Tgl | Bln | Thn

Mata Pelajaran *(Silanglah salah satu)*

- ☐ Bahasa Indonesia
- ☐ Matematika
- ☐ IPA
- ☐ P. Ag. Islam
- ☐ P. Ag. Kristen
- ☐ P. Ag. Buddha
- ☐ P. Ag. Katolik
- ☐ P. Ag. Hindu

SD / MI :

Tanggal : .....

Tanda Tangan Peserta

JAWABAN

Berilah tanda (X) pada salah satu pilihan jawaban yang benar

1. A B C D	11. A B C D	21. A B C D	31. A B C D	41. A B C D
2. A B C D	12. A B C D	22. A B C D	32. A B C D	42. A B C D
3. A B C D	13. A B C D	23. A B C D	33. A B C D	43. A B C D
4. A B C D	14. A B C D	24. A B C D	34. A B C D	44. A B C D
5. A B C D	15. A B C D	25. A B C D	35. A B C D	45. A B C D
6. A B C D	16. A B C D	26. A B C D	36. A B C D	46. A B C D
7. A B C D	17. A B C D	27. A B C D	37. A B C D	47. A B C D
8. A B C D	18. A B C D	28. A B C D	38. A B C D	48. A B C D
9. A B C D	19. A B C D	29. A B C D	39. A B C D	49. A B C D
10. A B C D	20. A B C D	30. A B C D	40. A B C D	50. A B C D

LIVEWORKSHEETS

DOKUMEN NEGARA

SANGAT RAHASIA

PAKET 2

LEMBAR SOAL

LATIHAN UJIAN SEKOLAH SD/MI

TAHUN PELAJARAN 2020/2021

ILMU PENGETAHUAN ALAM

PEMERINTAH KABUPATEN SLEMAN

DINAS PENDIDIKAN

©Hak Cipta pada Dinas Pendidikan Kabupaten Sleman

LIVEWORKSHEETS

PEMERINTAH KABUPATEN SLEMAN
DINAS PENDIDIKAN
LATIHAN UJIAN SEKOLAH DASAR/MADRASAH
TAHUN PELAJARAN 2020/2021

Satuan Pendidikan	: **SD/MI**
Mata Pelajaran	: **ILMU PENGETAHUAN ALAM**
Hari/tanggal	: **Rabu, 17 Februari 2021**
Waktu	: **08.00 – 10.00 (120 menit)**

PETUNJUK UMUM

1. Tuliskan identitas Anda dengan memberi tanda silang (X) pada huruf-huruf yang tersedia dengan menggunakan pensil 2B.
2. Waktu yang disediakan 120 menit untuk mengerjakan soal ujian ini.
3. Jumlah soal sebanyak 50 butir, terdiri dari 50 butir soal pilihan ganda.
4. Pada setiap butir soal pilihan ganda terdapat 4 (empat) pilihan jawaban.
5. Berilah tanda silang (X) pada huruf A, B, C, atau D yang Anda anggap benar pada lembar jawaban yang tersedia.
6. Periksa kelengkapan naskah soal ujian dan bacalah soal-soal sebelum anda menjawabnya.
7. Laporkan kepada pengawas ujian apabila terdapat lembar soal yang kurang jelas, rusak, atau tidak lengkap.
8. Tidak diizinkan menggunakan kalkulator, HP, tabel matematika atau alat bantu hitung lainnya.
9. Periksalah pekerjaan Anda sebelum diserahkan kepada pengawas ujian!

 ©Hak Cipta pada Dinas Pendidikan Kabupaten Sleman

LIVEWORKSHEETS

1. Rantai makanan yang sesuai pada ekosistem sungai adalah ....
   A. ganggang → ikan → katak → ular
   B. ganggang → ikan → bangau → elang
   C. ganggang → katak → bangau → elang
   D. ganggang → katak → ular → bangau

2. Hubungan antar makhluk hidup yang membentuk simbiosis parasitisme adalah ....
   A. ikan remora dengan ikan hiu
   B. anemon laut dengan ikan badut
   C. burung jalak hinggap pada kerbau
   D. kutu yang bersarang pada tubuh kucing

3. Penyebab berkurangnya populasi Elang Jawa di lereng Gunung Merapi adalah ....
   A. pemindahan populasi ke kebun binatang
   B. reboisasi di lereng Gunung Merapi
   C. kelangkaan predator Elang Jawa
   D. perburuan liar oleh manusia

4. Perhatikan rantai makanan berikut!

   rumput → X → ular → elang

   Organisme yang tepat untuk melengkapi rantai makanan adalah ....
   A. ulat
   B. tikus
   C. kelinci
   D. belalang

5. Perhatikan gambar berikut!

   Kesamaan adaptasi yang dimiliki kedua hewan seperti pada gambar adalah ....
   A. memiliki kemampuan ekolokasi
   B. kemampuan terbang lambat
   C. pendengaran yang tajam
   D. penglihatan yang tajam

 ©Hak Cipta pada Dinas Pendidikan Kabupaten Sleman

LIVEWORKSHEETS

6. Perhatikan gambar berikut!



1 2 3 4

Tumbuhan yang memiliki kesamaan adaptasi dengan mawar adalah ....

A. 1 dan 2
B. 1 dan 3
C. 2 dan 4
D. 3 dan 4

7. Perhatikan tabel berikut!

No	Hewan	Cara perkembangbiakan
1.	kadal	ovovivipar
2.	buaya	ovipar
3.	platypus	vivipar
4.	amoeba	tunas
5.	cacing pipih	fragmentasi

Cara perkembangbiakan hewan yang benar ditunjukkan nomor ....

A. 1, 2, dan 3
B. 1, 2, dan 5
C. 2, 3, dan 4
D. 3, 4, dan 5

8. Sistem ladang berpindah yang dilakukan oleh perambah hutan menciptakan area terbuka yang tandus. Hal tersebut menimbulkan bencana banjir maupun kekeringan. Upaya yang tepat untuk menjaga keseimbangan lingkungan pada kondisi tersebut adalah dengan melakukan ....

A. reboisasi
B. tumpang sari
C. alih fungsi lahan
D. rotasi tanaman

 ©Hak Cipta pada Dinas Pendidikan Kabupaten Sleman

LIVEWORKSHEETS

9. Persamaan dampak negatif penangkapan ikan menggunakan racun dan pukat harimau adalah ....
   A. air laut tercemar
   B. habitat ikan hilang
   C. populasi ikan berkurang
   D. hilangnya terumbu karang

10. Pada ekosistem sawah terdapat tikus, ular, elang, dan padi. Ular banyak diburu oleh manusia. Kemungkinan yang terjadi pada ekosistem tersebut adalah ....
   A. hasil panen padi menurun sedangkan populasi tikus meningkat
   B. hasil panen padi meningkat sedangkan populasi tikus menurun
   C. populasi tikus menurun sedangkan populasi elang meningkat
   D. populasi tikus dan elang meningkat

11. Perhatikan gambar berikut!

   Fungsi bagian tubuh hewan yang ditunjuk huruf X adalah ....
   A. penghisap dan penggigit
   B. pengunyah dan penghisap
   C. penusuk dan penghisap
   D. penggigit dan pengunyah

12. Perhatikan gambar berikut!

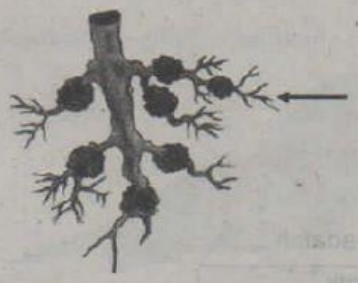

   Bagian tubuh tumbuhan kacang-kacangan yang ditunjuk anak panah berfungsi untuk ....
   A. menyerap karbondioksida
   B. mengikat oksigen
   C. menyerap unsur hara
   D. mengikat nitrogen

 ©Hak Cipta pada Dinas Pendidikan Kabupaten Sleman

LIVEWORKSHEETS

13. Perhatikan gambar berikut!

Hewan lain yang memiliki kesamaan daur hidup seperti gambar adalah ....

A. kepik dan laron
B. kecoak dan lalat
C. rayap dan semut
D. capung dan ngengat

14. Ani tidak berangkat sekolah karena sakit demam berdarah. Tahapan daur hidup nyamuk yang menyebarkan penyakit tersebut adalah ....

A. pupa
B. larva
C. tempayak
D. imago

15. Perhatikan gambar berikut!



Jenis dan arah gerak sendi yang ditunjukkan huruf X adalah ....

	Jenis sendi	Arah gerak
A.	pelana	dua arah
B.	peluru	segala arah
C.	engsel	satu arah
D.	putar	memutar

 ©Hak Cipta pada Dinas Pendidikan Kabupaten Sleman

LIVEWORKSHEETS

16. Perhatikan tabel berikut!

No.	Ciri perkembangan
1.	tumbuh jakun
2.	suara menjadi nyaring
3.	dada membidang
4.	panggul membesar
5.	tumbuh rambut di bagian tertentu

Ciri perkembangan fisik laki-laki pada masa puber ditunjukkan nomor ....

A. 1, 2, dan 3
B. 1, 2, dan 4
C. 1, 3, dan 5
D. 3, 4, dan 5

17. Perhatikan gambar berikut!

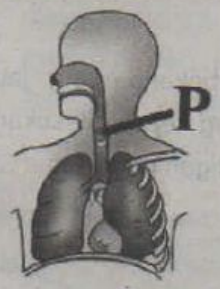

Fungsi bagian yang ditunjuk huruf P adalah untuk ....

A. menyaring udara kotor yang lolos dari hidung
B. tempat pertukaran oksigen dengan karbondioksida
C. membagi udara ke paru-paru kanan dan kiri
D. penyesuaian kelembapan udara

18. Perhatikan gambar berikut!

Fungsi bagian organ yang ditunjuk huruf X adalah ....

A. cadangan udara saat terbang
B. melepaskan udara pernapasan
C. pengikatan karbondioksida
D. pertukaran udara

 ©Hak Cipta pada Dinas Pendidikan Kabupaten Sleman

LIVEWORKSHEETS

19. Perhatikan gambar berikut!

Organ yang ditunjukkan huruf Y menghasilkan enzim yang berfungsi untuk ....

A. mengubah protein menjadi pepton
B. mencerna protein menjadi asam amino
C. membunuh kuman yang terbawa makanan
D. mengasamkan makanan

20. Pak Rahmad mengendarai sepeda motor menuju tempat bekerja yang jauh dari rumahnya. Di perjalanan banyak debu dan asap. Upaya yang tepat dilakukan untuk mencegah gangguan kesehatan yang mungkin terjadi adalah dengan pemakaian ....

A. helm tanpa kaca pelindung
B. pakaian yang rapat
C. jaket yang tebal
D. masker

21. Perhatikan gambar berikut!

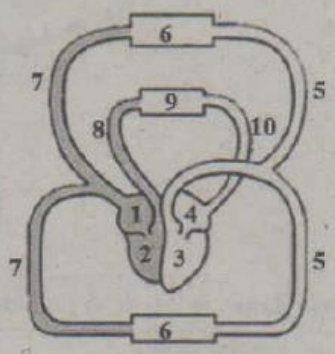

Urutan peredaran darah besar yang tepat ditunjukkan oleh nomor ....

A. 10 – 4 – 3 – 5 – 6
B. 2 – 8 – 9 – 10 – 4
C. 7 – 1 – 2 – 8 – 9
D. 3 – 5 – 6 – 7 – 1

 ©Hak Cipta pada Dinas Pendidikan Kabupaten Sleman

LIVEWORKSHEETS