Lembar Kerja Peserta Didik

LKPD

BANGUN DATAR LINGKARAN

Nama: Rindu Kusumaningtyas

Nim: 34302400145

LIVEWORKSHEETS

Nama :

Kelas :

MENGENAL LINGKARAN

Pasangkanlah gambar lingkaran dengan nama yang tepat dengan menarik garis!

Garis yang menghubungkan titik pusat dengan titik pada lingkaran	Juring
Titik yang terletak tepat di tengah-tengah lingkaran	Tembereng
Daerah di dalam lingkaran yang dibatasi oleh dua jari-jari dan sebuah busur	Jari-jari
Daerah dalam lingkaran yang dibatasi oleh busur dan tali busur	Diameter
Garis lurus yang menghubungkan dua titik pada lingkaran dan melalui titik pusat	Titik pusat

LIVEWORKSHEETS

Nama :

Kelas :

LUAS DAN KELILING LINGKARAN

Hitung luas dan keliling bangun datar di bawah ini menggunakan 22/7!

Rumus Lingkaran

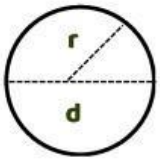

L = phi x r x r

K = phi x d

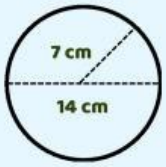

L = ☐ x ☐ x ☐

= ☐ cm^2

K = ☐ x ☐

= ☐ cm

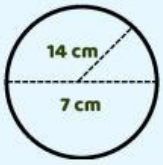

L = ☐ x ☐ x ☐

= ☐ cm^2

K = ☐ x ☐

= ☐ cm

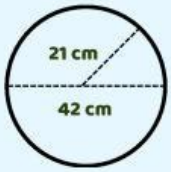

L = ☐ x ☐ x ☐

= ☐ cm^2

K = ☐ x ☐

= ☐ cm

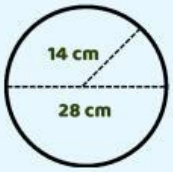

L = ☐ x ☐ x ☐

= ☐ cm^2

K = ☐ x ☐

= ☐ cm

LIVEWORKSHEETS