1. Обчисли суму кутів опуклого многокутника.

1) П'ятикутник
2) Семикутник
3) Восьмикутник
4) Дванадцятикутник
5) П'ятнадцятикутник
6) Двадцятикутник

2. Визнач кількість сторін опуклого многокутника, якщо відома сума його кутів.

1) 720°
2) 900°
3) 1 080°
4) 1 260°
5) 1 620°
6) 4 500°

Обчисли площу фігури.

1)
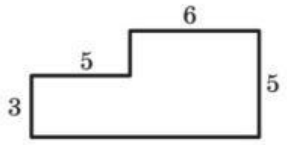

$S =$

2)
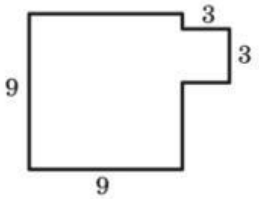

$S =$

3)
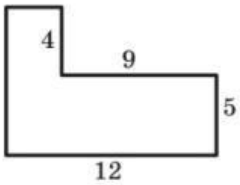

$S =$

4)
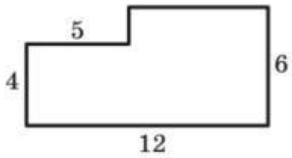

$S =$

5)
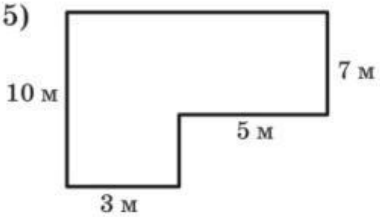

$S =$

6)
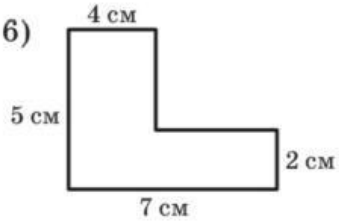

$S =$

7)
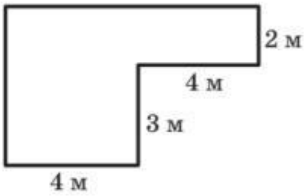

$S =$

8)
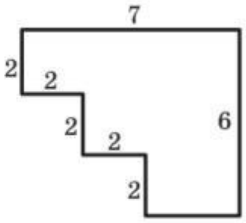

$S =$

LIVEWORKSHEETS