7 клас
Частина 5

**ГЕОГРАФІЯ**

Дата _____

Варіант 1

Прізвище, ім'я _____

## Самостійна робота 10

## Завдання на здійснення пошуку та опрацювання інформації (ГР 2)

*Обери варіант відповіді із чотирьох запропонованих*
*(1 б. за кожне правильно виконане завдання 1–4).*

1. **Якою течією, що проходить уздовж Антарктиди, можна здійснити навколосвітню подорож?**
   - **А** Перуанською;
   - **Б** Антарктичною;
   - **В** Західних Вітрів;
   - **Г** Фолклендською.
2. **Яким морем дісталися до узбережжя Антарктиди Р. Амундсен та Р. Скотт?**
   - **А** Ведделла;
   - **Б** Беллінсгаузена;
   - **В** Співдружності;
   - **Г** Росса.
3. **Який тип клімату не поширений на території Антарктиди?**
   - **А** Помірний;
   - **Б** арктичний;
   - **В** антарктичний;
   - **Г** субантарктичний.
4. **Найвища точка Антарктиди розташована...**
   - **А** в горах Вернадського;
   - **Б** в горах Елсуерта;
   - **В** в Трансантарктичних горах;
   - **Г** на Полярному плато.

## Завдання на усвідомлення закономірностей природи (ГР 3)

*Виконай завдання*
*(4 б. за кожне правильно виконане завдання 5, 6).*

5. **Укажи унікальні природні особливості (4–5) Антарктиди, які відрізняють її від інших материків.** _____

LIVEWORKSHEETS

6. Познач на контурній карті Антарктиди такі географічні об'єкти: моря Співдружності, Ведделла, Беллінсгаузена, Лазарева, Амундсена; Антарктичний півострів. Проклади стрілками маршрути подорожей Руала Амундсена та Роберта Скотта.

## Контурна карта Антарктиди

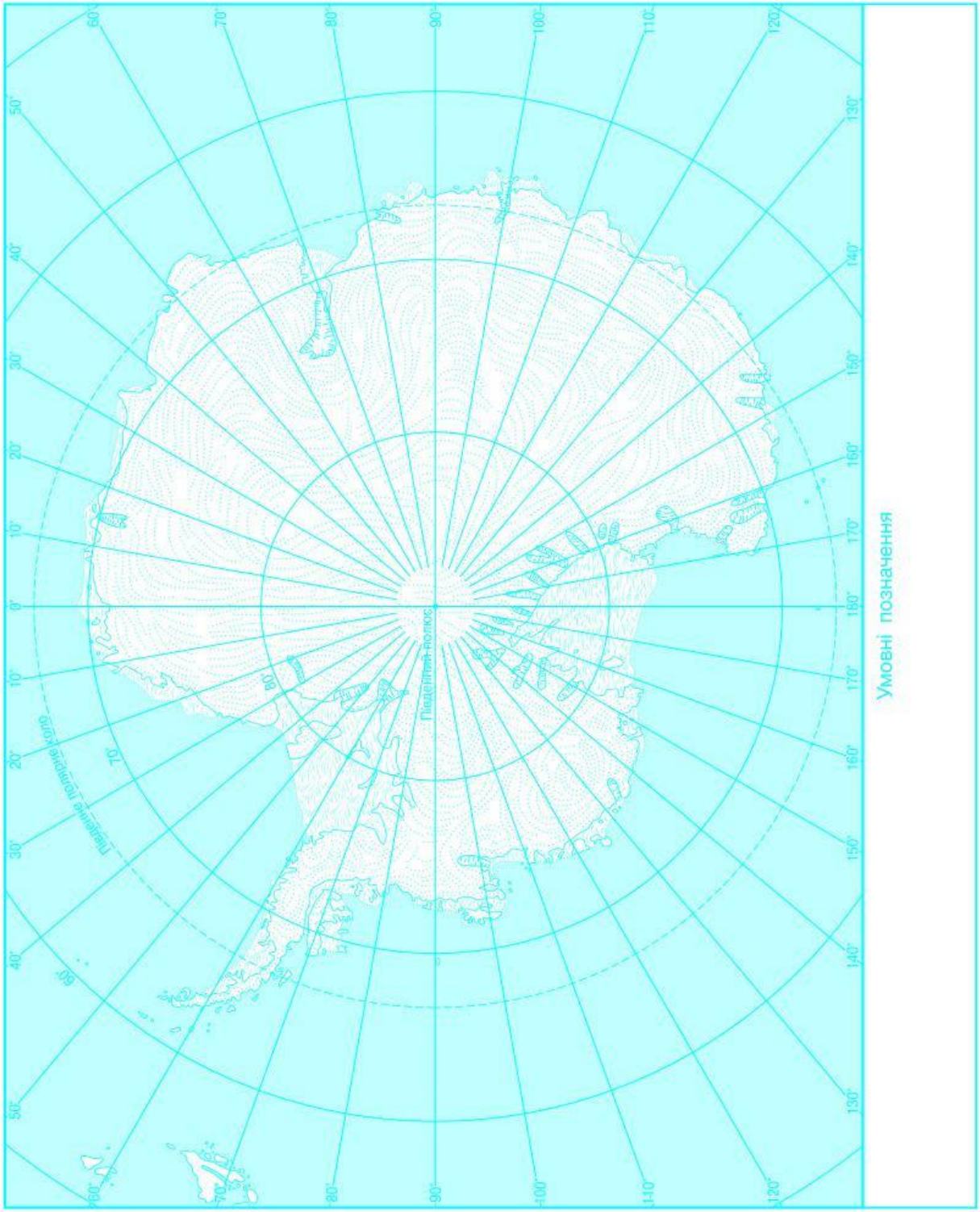


LIVEWORKSHEETS

| 7 клас<br>Частина 5 |
|---|

**ГЕОГРАФІЯ**

Дата _____

**Варіант 2**

Прізвище, ім'я _____

## Самостійна робота 10

### Завдання на здійснення пошуку та опрацювання інформації (ГР 2)

*Обери варіант відповіді із чотирьох запропонованих*
*(1 б. за кожне правильно виконане завдання 1–4).*

1. Географічний полюс, розташований у межах Антарктиди, має координати:
   - **А** 90° пн. ш. 0° д.;
   - **Б** 90° пд. ш. 0° д.;
   - **В** 0° ш. 90° зх. д.;
   - **Г** 0° ш. 90° сх. д.
2. Більшу частину Антарктиди займає...
   - **А** молода складчаста область;
   - **Б** давня складчаста область;
   - **В** молода платформа;
   - **Г** давня (докембрійська) платформа.
3. У якій з навколосвітніх експедицій Дж. Кук ставив за мету досягти узбережжя Антарктиди?
   - **А** У першій;
   - **Б** у другій;
   - **В** у третій;
   - **Г** у четвертій.
4. Антарктиду та Південну Америку розмежовує...
   - **А** Берингова протока;
   - **Б** Магелланова протока;
   - **В** протока Дрейка;
   - **Г** протока Кука.

### Завдання на усвідомлення закономірностей природи (ГР 3)

*Виконай завдання*
*(4 б. за кожне правильно виконане завдання 5, 6).*

5. Укажи унікальні природні особливості (4–5) Антарктиди, які відрізняють її від інших материків. _____

LIVEWORKSHEETS

6. Познач на контурній карті Антарктиди такі географічні об'єкти: море Росса; гори Елсуерта, Вернадського, Трансантарктичні; вулкан Еребус, а також наукові станції «Амундсен — Скотт», «Академік Вернадський».

## Контурна карта Антарктиди

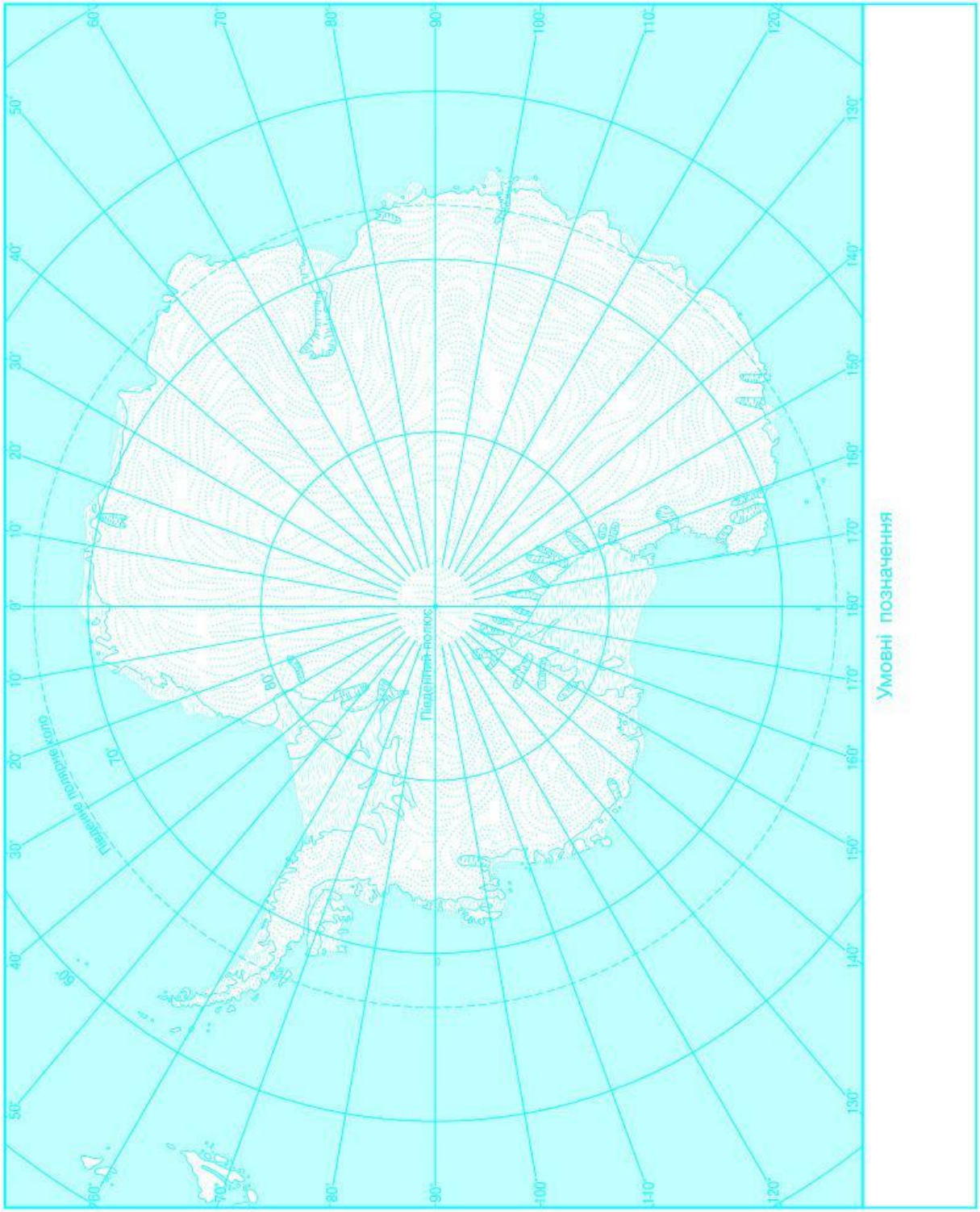


LIVEWORKSHEETS

**7 клас**
**Частина 5**

# ГЕОГРАФІЯ

**Варіант 1**

Дата _____

Прізвище, ім'я _____

## Самостійна робота 11

## Завдання на здійснення пошуку та опрацювання інформації (ГР 2)

*Обери варіант відповіді із чотирьох запропонованих*
*(1 б. за кожне правильно виконане завдання 1–6).*

1. Який океан не омиває берегів Північної Америки?
   - **А** Тихий;
   - **Б** Атлантичний;
   - **В** Північний Льодовитий;
   - **Г** Індійський.
2. «Море без берегів» біля Північної Америки:
   - **А** Карибське;
   - **Б** Берингове;
   - **В** Саргасове;
   - **Г** Бофорта.
3. Гори Кордильєри утворилися на межі двох літосферних плит: Північноамериканської та...
   - **А** Африканської;
   - **Б** Тихоокеанської;
   - **В** Наска;
   - **Г** Дрейка.
4. Давніми горами є...
   - **А** Кордильєри;
   - **Б** Скелясті гори;
   - **В** Берегові хребти;
   - **Г** Аппалачі.
5. Профіль, що характеризує особливості рельєфу Північної Америки:
   - **А** 1;
   - **Б** 2;
   - **В** 3;
   - **Г** 4.

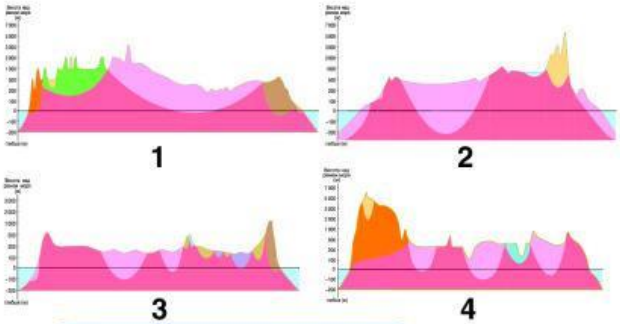


6. На світлині зображено...
   - **А** гору Маккінлі;
   - **Б** вулкан Орисаба;
   - **В** Великий каньйон;
   - **Г** Великі рівнини.

LIVEWORKSHEETS

*Виконай завдання*
*(2 б. за правильно виконане завдання 7,*
*4 б. за правильно виконане завдання 8).*

7. **Установи відповідність між іменами дослідників Північної Америки та їхніми досягненнями.**

**1** Васко Нуньєс де Бальбоа
**2** Джон Дейвіс
**3** Джон Кабот
**4** Александр Маккензі

**А** досліджував Алеутські острови
**Б** один із першовідкривачів Північної Америки
**В** перетнув Панамський перешийок
**Г** перетнув Північну Америку зі сходу на захід
**Д** відкрив протоки між островами Гренландія та Баффінова Земля

| 1 | 2 | 3 | 4 |
|---|---|---|---|
| | | | |

8. **Познач на контурній карті Північної Америки такі географічні об'єкти: низовини Примексиканська, Приатлантична; рівнини Центральні та Великі; Лаврентійська височина; гори Кордильєри, Скелясті, Аппалачі.**

**Контурна карта Північної Америки**

LIVEWORKSHEETS

**7 клас**
**Частина 5**

Дата _____

# ГЕОГРАФІЯ

**Варіант 2**

Прізвище, ім'я _____

## Самостійна робота 11

## Завдання на здійснення пошуку та опрацювання інформації (ГР 2)

*Обери варіант відповіді із чотирьох запропонованих*
*(1 б. за кожне правильно виконане завдання 1–6).*

1. Яка крайня точка Північної Америки розміщена на території Панами?
   - **А** Мерчисон;
   - **Б** Мар'ято;
   - **В** Принца Уельського;
   - **Г** Сент-Чарльз.
2. Затока, яку називають *льодяним мішком*:
   - **А** Гудзонова;
   - **Б** Аляска;
   - **В** Каліфорнійська;
   - **Г** Мексиканська.
3. У якій частині Північної Америки розташована її найвища точка?
   - **А** У північній;
   - **Б** у південній;
   - **В** у західній;
   - **Г** у східній.
4. Яка рівнина / які рівнини Північної Америки утворена / утворені переважно річковими наносами?
   - **А** Лаврентійська височина;
   - **Б** Центральні рівнини;
   - **В** Великі рівнини;
   - **Г** Міссісіпська низовина.
5. Профіль, що характеризує особливості рельєфу Північної Америки:
   - **А** 1;
   - **Б** 2;
   - **В** 3;
   - **Г** 4.

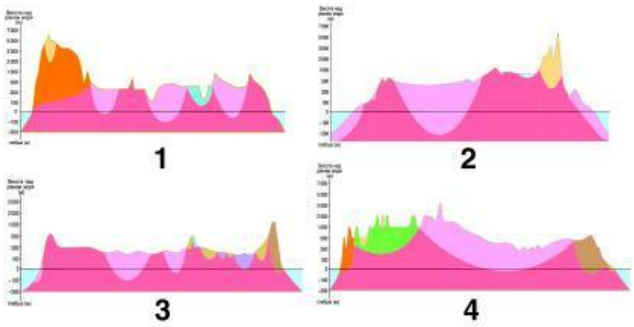


6. На космічному знімку зображено острів...
   - **А** Гренландія;
   - **Б** Ньюфаундленд;
   - **В** Гаїті;
   - **Г** Куба.

LIVEWORKSHEETS

*Виконай завдання*
*(2 б. за правильно виконане завдання 7,*
*4 б. за правильно виконане завдання 8).*

7. **Установи відповідність між іменами дослідників Північної Америки та їхніми досягненнями.**

**1** Вільям Баффін
**2** Жак Картьє
**3** Генрі Гудзон
**4** Васко Нуньєс де Бальбоа

**А** відкриття протоки між островами Гренландія та Баффінова Земля
**Б** нанесення на карту річки Святого Лаврентія
**В** дослідження великої субарктичної затоки
**Г** перетин Панамського перешийка
**Д** пошук північно-західного проходу з Атлантичного океану до Тихого

| 1 | 2 | 3 | 4 |
|---|---|---|---|
| | | | |

8. **Познач на контурній карті Північної Америки такі географічні об'єкти: затоки Гудзонова, Мексиканська, Каліфорнійська; півострови Лабрадор, Флорида, Аляска; острови Ньюфаундленд, Канадський Арктичний архіпелаг.**

**Контурна карта Північної Америки**

LIVEWORKSHEETS