LKPD

Ilmu Pengetahuan Alam

Memakan dan Dimakan

Nama: _____ No. Absen: _____

LIVEWORKSHEETS

KERJAKAN SOAL-SOAL DI BAWAH INI DENGAN BENAR !

Kerjakan menggunakan huruf kecil semua!

1. Apa yang dimaksud dengan rantai makanan?
   - O Hubungan antar makhluk hidup
   - O Proses makan dan dimakan
   - O Cara tumbuhan berkembang biak
   - O Perpindahan tempat

2. Sekumpulan rantai makanan yang saling berhubungan disebut?
   - O Ekosistem
   - O Jaring-jaring makanan
   - O Rantai energi
   - O Daur hidup

3. 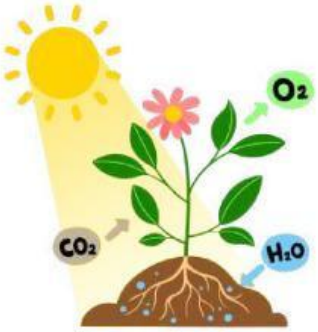

   Saat tumbuhan hijau terkena sinar matahari, tumbuhan dapat membuat makanan melalui proses

   _____

4.

   Organisme yang mendapatkan energi dengan cara memakan sisa-sisa makhluk hidup disebut

   _____

LIVEWORKSHEETS

5. Pilihlah semua jawaban yang benar !
Hewan yang termasuk dalam kelompok omnivora ...

☐ ☐ ☐

6. Pilihlah semua jawaban yang benar !
Hewan yang memakan tikus berdasarkan jaring-jaring makanan tersebut adalah ...

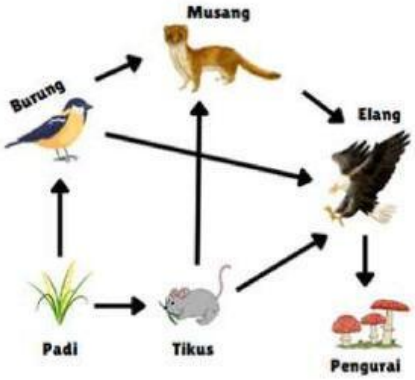

- Musang
- Burung
- Elang
- Pengurai

7. Temukan semua kata kunci dalam daftar di bawah ini pada kotak huruf acak !

D	P	E	K	A	E	D	A	U	S
G	P	R	O	D	U	S	E	N	U
A	T	U	N	S	Z	A	F	A	O
J	G	R	S	V	I	T	A	S	I
A	A	H	U	M	U	S	H	I	W
H	Y	S	M	V	R	T	A	G	O
A	A	P	E	N	G	U	R	A	I
N	A	H	N	A	S	E	P	S	O
T	E	S	A	G	N	E	T	E	T
D	E	T	R	I	T	I	V	O	R

Kata Kunci :
1. Produsen
2. Konsumen
3. Pengurai
4. Detritivor
5. Humus

LIVEWORKSHEETS

8. Tekan ikon 🎙 lalu ucapkan jawabanmu dengan suara yang jelas !

Di hutan, jamur menguraikan sisa-sisa tumbuhan dan hewan yang telah mati. Jamur dalam rantai makanan disebut sebagai ...

9. Tekan ikon 🔊 lalu dengarkan pertanyaan yang disebutkan. Setelah itu tuliskan jawaban pada tempat yang telah disediakan !

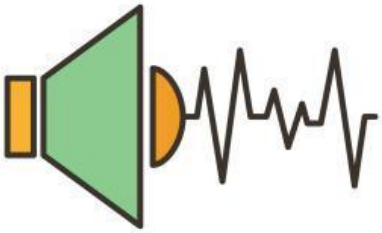

10. Cocokkan setiap gambar hewan dengan kelompok makanan yang tepat dengan cara menarik kotak jawaban ke tempatnya!

Herbivora | Karnivora | Omnivora

LIVEWORKSHEETS

11. Hubungkan gambar makhluk hidup sesuai dengan perannya!

- Pengurai
- Detritivor
- Konsumen
- Herbivora
- Produsen

12. Tuliskan tiga contoh rantai makanan yang ada di sekitarmu, lalu jelaskan peran setiap makhluk hidup di dalamnya!

Rantai Makanan	Peran

LIVEWORKSHEETS

Setelah Mengerjakan LKPD Ini, Apakah Kamu Sudah Memahami Materi Memakan dan Dimakan?

☐ Paham ☐ Sebagian ☐ Belum

Tuliskan Bagian Mana yang Belum Kamu Pahami !

LIVEWORKSHEETS