نام ..... نام خانوادگی .....

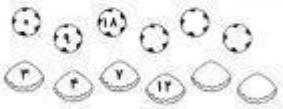
کاربرگ مهر ماه (هفته سوم)

کلاس سوم ابتدایی

تاریخ ..... نام آموزگار .....

ریاضی: فصل ۱ (حل مسئله، الگو یابی، شمارش چند تا چند تا)
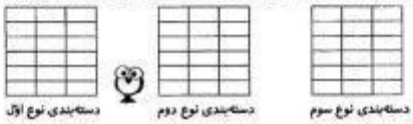
۱- الگوهای زیر را ادامه بده و رابطه‌ی بین عددها را بنویس.



.....

.....

۲- شکل زیر را چند نوع دسته‌بندی کن و با توجه به دسته‌بندی، برای هر کدام جمع بنویس.



دسته‌بندی نوع سوم ..... دسته‌بندی نوع دوم ..... دسته‌بندی نوع اول .....

۳- در الگوی مقابل، تعداد ستاره‌های الگوی پنجم چند تا است؟



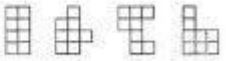
....

۴- حاصل جمع‌ها را ذهنی به دست آور.

۱۳ + ۲ + ۷ + ۵ = ☐ ۷ + ۳ + ۳ + ۵ = ☐

۱۴ + ۳ + ۶ + ۵ = ☐ ۶ + ۴ + ۸ + ۱۰ = ☐

۵- تعدادی کاشی به شکل  داریم. چند تا از شکل‌های زیر را می‌توان با چسباندن دو تا از این کاشی‌ها ساخت؟ (کانگورو ۲۰۱۲)



الف) ۰ ☐ ب) ۱ ☐

ج) ۲ ☐ د) ۳ ☐

هـ) ۴ ☐

LIVEWORKSHEETS