ĐỀ KIỂM TRA CUỐI KỲ 1 G1 – ĐỀ 9

Họ và tên: _____ Ngày:

I. TRẮC NGHIỆM: Khoanh vào chữ trước câu trả lời đúng

Câu 1. (1 điểm) **Có mấy quả cà chua**

a. 9 quả b. 8 quả c. 7 quả

Câu 2:(1 điểm)**Các số cần điền vào chỗ trống là**

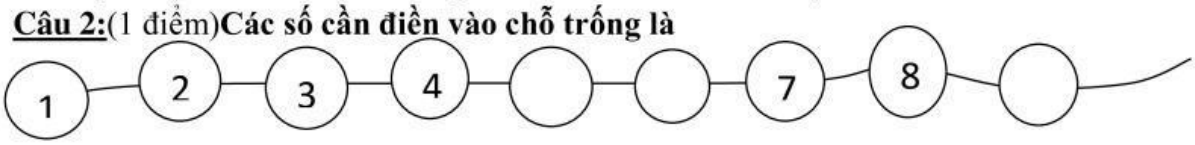

a. 6 và 5 b. 9, 6 và 5 c. 5, 6 và 9

Câu 3. (1 điểm) **Dấu cần điền vào chỗ chấm là: 10 ..... 7**

a. < b. = c. >

Câu 4: (1 điểm) Hình bên có mấy hình tròn?

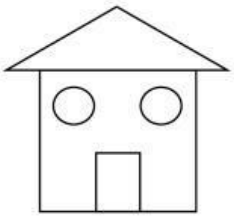

a. 1 hình tròn
b. 2 hình tròn
c. 3 hình tròn

Câu 5: Số 7 được viết là:

A. bảy B. bải C.bẫy

Câu 6: Kết quả của phép tính 6 + 3 = ?

A. 6 B. 9 C. 8

Câu 7 . (1 đ) **(M 2)**

a. Số điền vào chỗ chấm : **.....** - 4= 6

A. 8 B. 2 C. 10

II. Tự luận

Bài 1 (2 điểm): Khoanh vào số thích hợp:

6 7 8 9

7 8 9 10



6 7 8 9

7 8 9 10



2 3 4 5

3 4 5 6

3 4 5 6

7 8 9 10

LIVEWORKSHEETS

Bài 2 (2 điểm): Tính nhẩm:

3 + 1 = …	7 – 5 = …	7 + 3 = …
2 + 6 = …	4 – 2 = …	10 – 6 = …

Bài 3 (2 điểm): Điền số thích hợp vào chỗ chấm:

Hình đã cho có:

…… hình tam giác

…… hình tròn

…… hình vuông

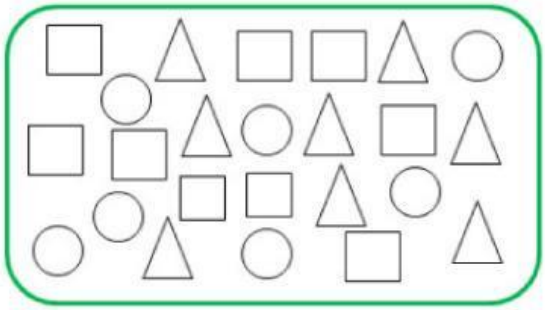

Bài 4 (2 điểm): Điền số và dấu <, >, = thích hợp vào ô trống:

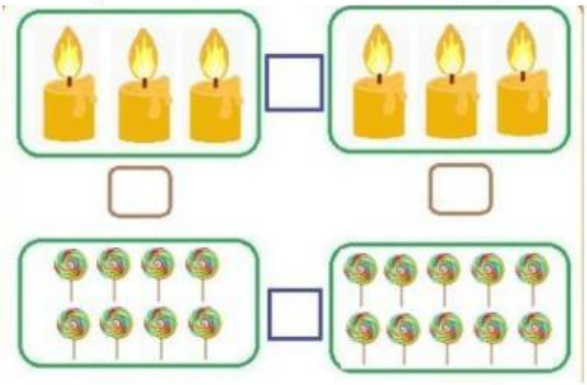

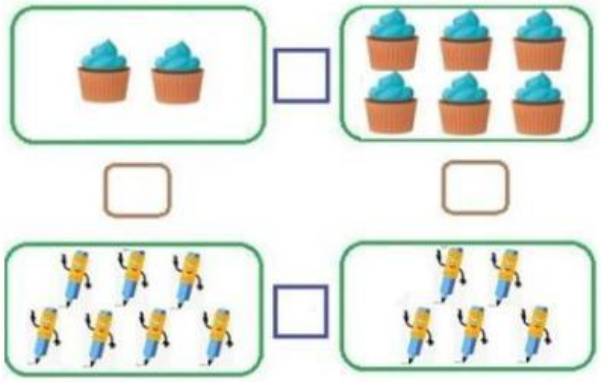

Bài 5: Viết phép tính thích hợp



Bài 6.(1 điểm) Gạch 3 cái bánh và viết phép tính thích hợp:

LIVEWORKSHEETS