Lembar Kerja Peserta Didik

LKPD

PENJUMLAHAN

KELAS 2

Nama: _____

Absen: _____

Penyusun

Isnaeni Kumala Septia Sari

34302400022

LIVEWORKSHEETS

Nama : _____

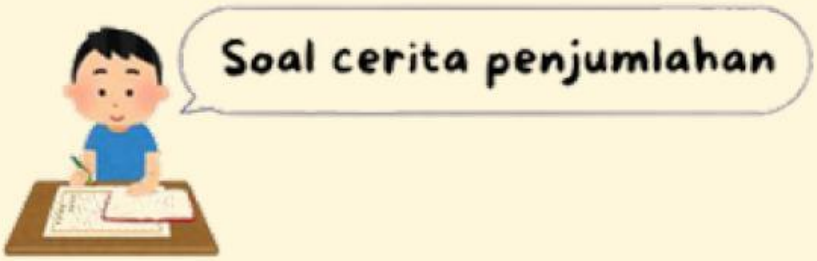

1. Rani membeli 10 pensil, Beni membeli 12 pensil.
Jika pensil mereka di gabung, berapa jumlah pensil Rani dan Beni? ..... + ... = ...

2. Lisa mempunyai 7 kucing. Kemudian Lisa diberi 5 kucing lagi oleh Dodi.
Berapa seluruh kucing Lisa sekarang? ..... + ...= .....

3. Ayah memetik 7 buah apel. Aku memetik 7 buah apel.
Berapa seluruh apel yang kami petik? ..... + ... = ...

4. Reza melihat di atas meja ada 9 buku, dan di bawah meja ada 7 buku. Berapa semua buku yang di lihat oleh Reza? ..... + ... = ...

LIVEWORKSHEETS

PETUNJUK!

Tulis dan Hitunglah jumlah sesuai contoh !

1.		Balqis ada 5 biji durian. Iris ada 3 biji durian. Berapa biji durian yang ada? 5 + 3 = 8
2.	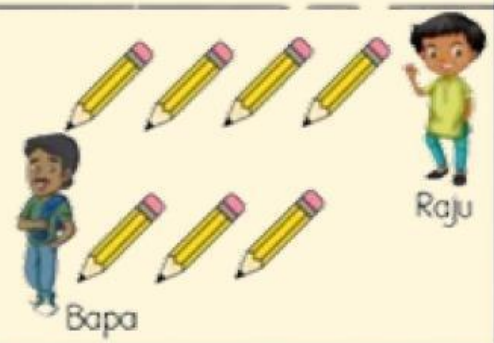	Raju ada ☐ batang pensel. Bapa beri ☐ batang pensel lagi. Berapa jumlah pensel yang ada? ☐ + ☐ = ☐
3.		Ibu beli ☐ biji epal. Abang beli ☐ biji epal lagi. Berapa biji epal yang ada? ☐ + ☐ = ☐
4.		Hakim ada ☐ batang aiskrim. Aliff juga ada ☐ batang aiskrim. Berapa batang aiskrim yang ada? ☐ + ☐ = ☐
5.		Aulia ada ☐ biji gula-gula. Lydia bagi Aulia ☐ biji gula-gula. Berapa biji gula-gula yang ada? ☐ + ☐ = ☐

LIVEWORKSHEETS

Soal cerita.

1. Udin memiliki 20 kelereng.

   Beni memberinya 11 kelereng.

   Berapa jumlah seluruh kelereng Udin?

   Jawab: ☐ + ☐ = ☐

2. Siti membawa 15 potong singkong goreng.

   Namun, 8 potong jatuh di jalan.

   Berapa sisa singkong goreng yang di bawa Siti?

   ☐ - ☐ = ☐

3. Lani menyiapkan 30 balon untuk perayaan ulangtahunnya.

   10 balon pecah sebelum di pasang.

   Berapa balon yang masih dapat digunakan?

   ☐ - ☐ = ☐

4. Edo dan Udin membuat jalinan karet, untuk bermain lompat tali.

   Edo mengumpulkan 21 karet dan

   Udin mengumpulkan 12 karet

   Berapa jumlah karet yang mereka miliki?

   ☐ + ☐ = ☐

5. Lani dan teman-teman mengumpulkan bola plastik.

   Tim perempuan mengumpulkan 14 bola.

   Tim laki-laki mengumpulkan 16 bola.

   Berapa banyak bola yang mereka kumpulkan?

   ☐ + ☐ = ☐

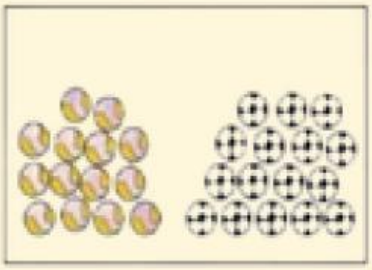

LIVEWORKSHEETS