Завдання 1. Додавання ➕ (вибір відповіді)

Подивись на малюнок і обери правильну відповідь



Скільки всього яблук?

а) 2

б) 3

в) 4

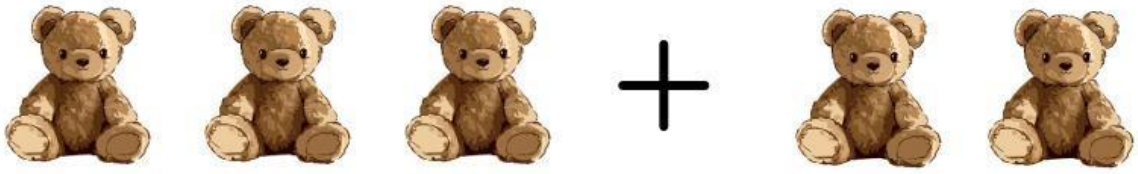

Скільки всього ведмедиків?

а) 5

б) 3

в) 4

Завдання 2. Віднімання ➖ (вибір відповіді)

Подивись на малюнок і порахуй

Скільки печива залишилось?

LIVEWORKSHEETS

а) 1

б) 2

в) 3

Скільки машинок залишилось?

а) 5

б) 2

в) 3

Завдання 3. З’єднай 🔗

З’єднай приклад з правильною відповіддю

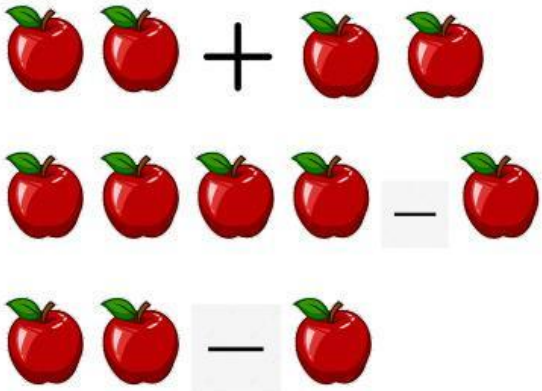



LIVEWORKSHEETS