LKPD
Matematika

Tema: Penyajian Data dalam Tabel

Nama: _____ Kelas: _____



LIVEWORKSHEETS

Mengurutkan dan Membandingkan Data

Perhatikan tabel berikut, hitunglah jumlahnya dan jawab pertanyaan di bawah ini.

Alat Tulis	Jumlah
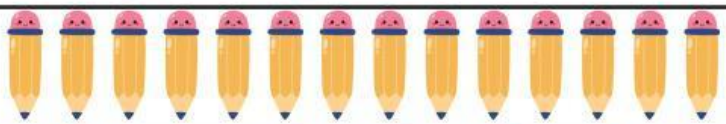	
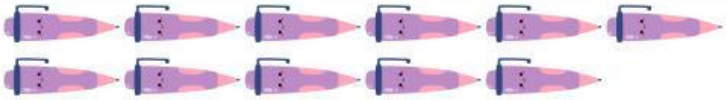	

Pertanyaan:

1. Apa alat tulis yang memiliki jumlah paling sedikit?
   Jawab: _____
2. Apa alat tulis yang memiliki jumlah paling banyak?
   Jawab: _____
3. Apa alat tulis yang memiliki jumlah berada di tengah-tengah?
   Jawab: _____
4. Berapa banyak jumlah seluruh alat tulis?
   Jawab: _____
5. Hitunglah perbandingan antara alat tulis yang paling banyak dan yang paling sedikit jumlahnya!
   Jawab: _____

LIVEWORKSHEETS

Menghitung Data dengan Turus

Perhatikan data berikut, hitunglah dan tulis dalam bentuk turus tabel di bawah ini.

Benda	Turus	Jumlah
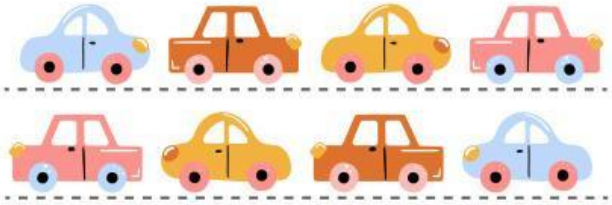		

LIVEWORKSHEETS

Menyajikan Data dalam Bentuk Tabel

Perhatikan gambar berikut, sajikan data dalam bentuk tabel di bawah ini.



No.	Buah	Jumlah

LIVEWORKSHEETS