Câu hỏi 1

Chọn đáp án đúng.

Số nào xuất hiện nhiều nhất?

- A. 5
- B. 2
- C. 3
- D. 4

LIVEWORKSHEETS

Câu hỏi 2

Chọn số thích hợp để điền vào dấu hỏi chấm.

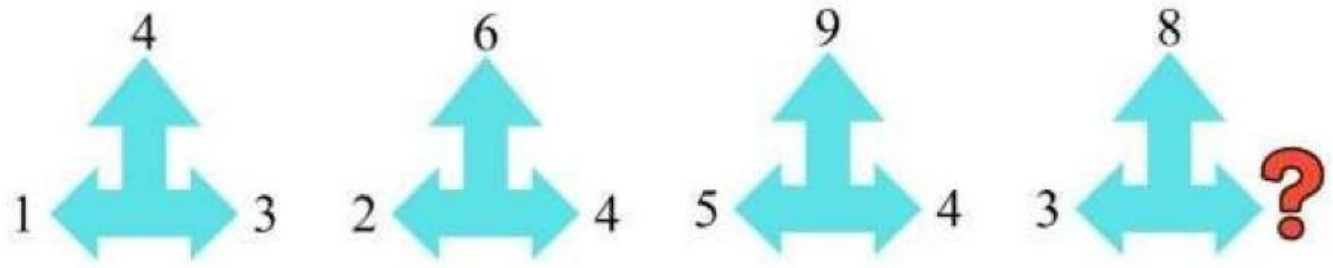

- A. 5
- B. 7
- C.4
- D. 6

Câu hỏi 3

Chọn dấu so sánh thích hợp điền vào vị trí ( ):

6+5( )8+3

- A. >
- B. =
- C.<
- D. Không đáp án nào đúng

Câu hỏi 4.

Chọn đáp án đúng.

Có 10 học sinh xếp thành một hàng ngang. Nhìn từ bên trái, bạn Hoa đứng thứ 5. Hỏi nhìn từ bên phải, bạn Hoa đứng thứ bao nhiêu?

- A. 6
- B. 3
- C. 4
- D. 5

LIVEWORKSHEETS

Câu hỏi 5

Chọn đáp án đúng.

Hình sau có bao nhiêu khối lập phương?

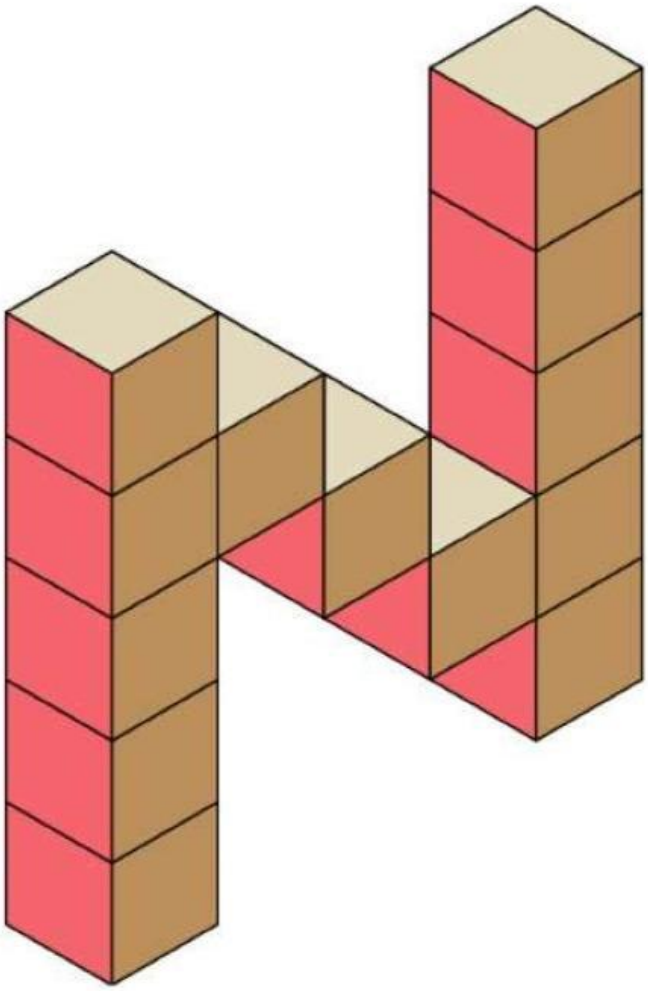

- A. 14
- B. 13
- C. 12
- D. 15

LIVEWORKSHEETS

Câu hỏi 6

Chọn số thích hợp để điền vào ô trống.

- A. 4
- B. 5
- C. 3
- D. 6

Câu hỏi 7

Chọn đáp án đúng.

Số cần điền ở tô màu xanh dương cộng với số cần điền ở ô màu đỏ bằng bao nhiêu?

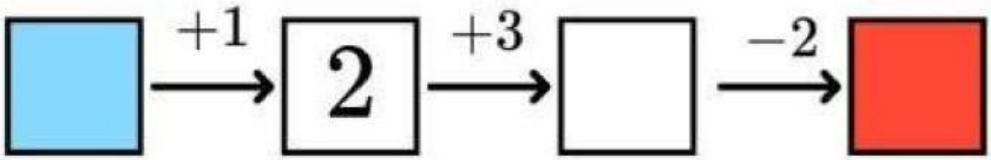

- A. 4
- B. 1
- C. 3
- D. 2

Câu hỏi 8

Chọn đáp án đúng.

Các số 1, 2, 3 cần điền vào các ô trống của bảng sau sao cho mỗi hàng, mỗi cột đều có ba số khác nhau. Số nào sẽ được điền vào ô được đánh dấu chấm hỏi?

LIVEWORKSHEETS



○ A. 3
○ B. Câu trả lời khác
○ C. 2
○ D. 1

Câu hỏi 9

Chọn đáp án đúng.

Anh có 9 quả táo, em có 6 quả táo. Anh ăn hết 2 quả táo. Hỏi khi đó anh có nhiều hơn em mấy quả táo?

○ A. 0
○ B. 3
○ C. 2
○ D. 1

Câu hỏi 10

Chọn đáp án đúng.

Em trai tôi năm nay 13 tuổi. Em gái tôi kém em trai tôi 3 tuổi. Chị gái tôi hơn em gái tôi 5 tuổi. Hỏi chị gái của tôi năm nay bao nhiêu tuổi?

○ A. 12
○ B. 13
○ C. 14
○ D. 15

LIVEWORKSHEETS

Câu hỏi 11
Chọn đáp án đúng.

Trong hình sau có bao nhiêu que diêm?

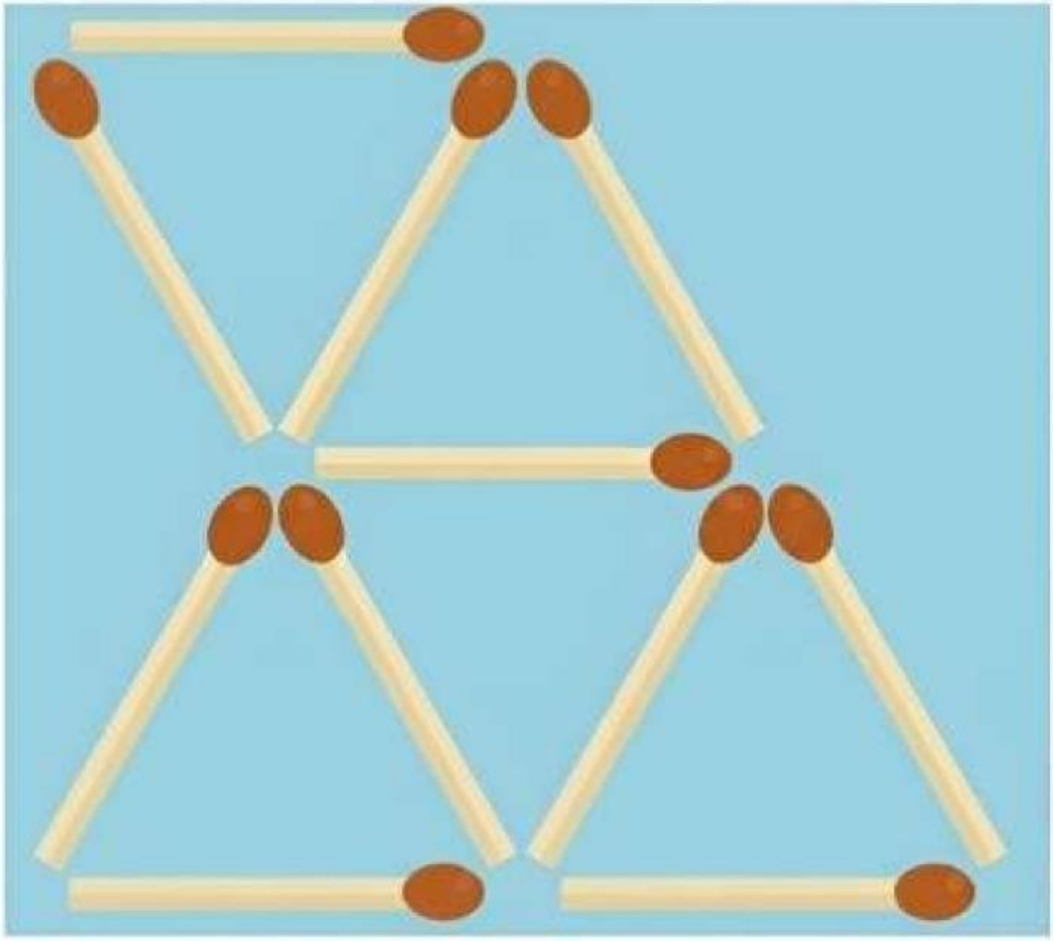

A. 12

B. 11

C. 10

D. 13

LIVEWORKSHEETS

Câu hỏi 12

Chọn đáp án đúng.

Bạn Tùng cắt sợi dây thành các đoạn dây ngắn hơn. Nếu không gập sợi dây khi cắt thì sau 10 lần cắt, Tùng cắt được bao nhiêu đoạn dây?

- A. 10
- B. 9
- C. 11
- D. 12

Câu hỏi 13

Chọn đáp án đúng.

Lan cần điền vào mỗi ô trống một số sao cho ba số trong ba ô liên tiếp bất kỳ cộng lại đều bằng 10. Số đầu tiên trừ với số cuối cùng bằng bao nhiêu?

- A.O
- B. 3
- C.2
- D. 1

Câu hỏi 14

Chọn đáp án đúng.

Chọn số thích hợp để điền vào chỗ trống.

11 - 10 + 9 - 8 + 7 - 6 + 5 - 4 + 3 - 2 + 1 =...

- A. 5
- B. 6
- C. 3
- D. 4

Câu hỏi 15

Chọn đáp án đúng.

Một trong ba hình là hình chiếc ô nhìn từ trên xuống. Đó là hình nào?

LIVEWORKSHEETS

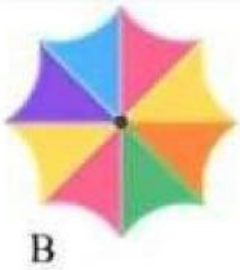

O A. Hình B

O B. Hình C

O.C. Hình A

Câu hỏi 18

Chọn đáp án đúng.

Một nhóm bạn nhỏ đi tham quan, mỗi bạn đều đội một chiếc mũ, với ba màu xanh, đỏ, vàng. Có 5 bạn không đội mũ xanh, 6 bạn không đội mũ đỏ, 7 bạn không đội mũ vàng. Hỏi có bao nhiêu bạn nhỏ đi tham quan?

Hình vẽ chỉ mang tính chất minh họa

O A. 9 bạn

O B. 18 bạn

O. C. Câu trả lời khác

O D. 15 bạn

LIVEWORKSHEETS