Soal Latihan 2

Jawablah soal – soal berikut ini dengan memilih jawaban a, b , c atau d yang paling tepat!

1. 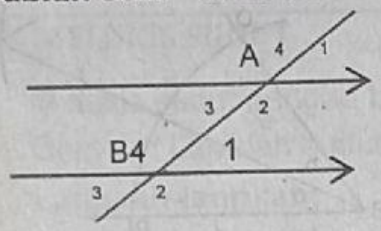

Jika $\angle A_2 = 130^\circ$ maka $\angle B_3 = \ldots$.

a. 40° c. 80°

b. 50° d. 130°

2. 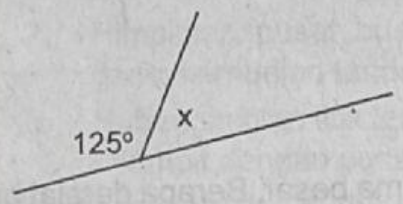

Jika x merupakan pelurus dari 125°. Nilai x adalah ....

a. 50° c. 65°

b. 55° d. 125°

Gambar berikut untuk soal no. 3 dan 4

3. 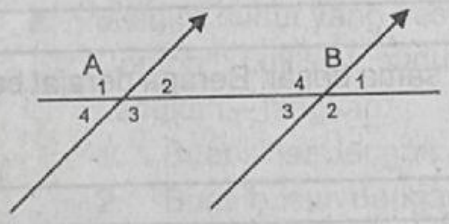

Pasangan sudut luar sepihak gambar tersebut adalah ....

a. $\angle A_1$ dengan $\angle A_4$

b. $\angle A_1$ dengan $\angle B_2$

c. $\angle A_2$ dengan $\angle B_4$

d. $\angle A_4$ dengan $\angle B_2$

4. Pasangan sudut luar berseberangan adalah ....

a. $\angle A_1$ dengan $\angle B_1$ c. $\angle A_3$ dengan $\angle B_3$

b. $\angle A_2$ dengan $\angle B_3$ d. $\angle A_1$ dengan $\angle B_2$

5. 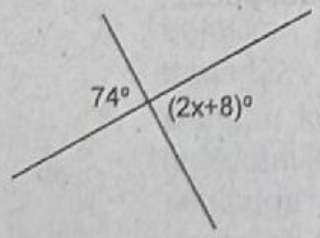

Nilai x pada gambar disamping adalah ....

a. 25°

b. 49°

c. 52°

d. 98°

6. 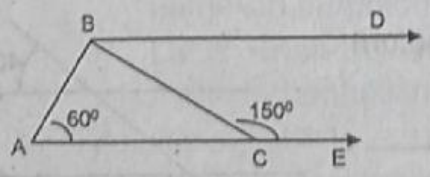

Dari gambar disamping besar $\angle CBD$ adalah ....

a. 30° c. 90°

b. 60° d. 120°

7. 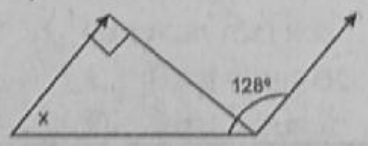

Dari gambar disamping besar sudut x adalah ....

a. 52°

b. 54°

c. 64°

d. 98°

LIVEWORKSHEETS