4. Viết tiếp vào chỗ chấm.

a)

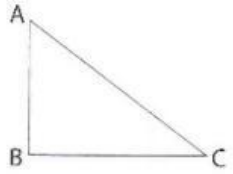

Tam giác ABC có:

+ các cạnh là: .....

+ các góc là: .....

b)

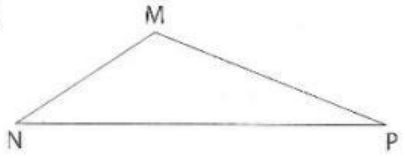

Tam giác MNP có:

+ các cạnh là: .....

+ các góc là: .....

5. Viết tiếp vào chỗ chấm.

a)

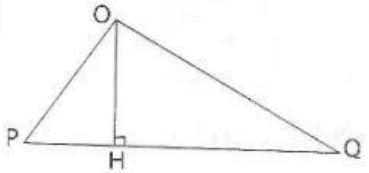

Tam giác OPQ có đường cao ..... tương ứng với cạnh đáy PQ.

b)

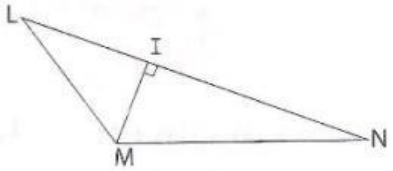

Tam giác LMN có đường cao ..... tương ứng với cạnh đáy LN.

6. Viết số thích hợp vào chỗ chấm.

Hình bên có ..... hình tam giác.

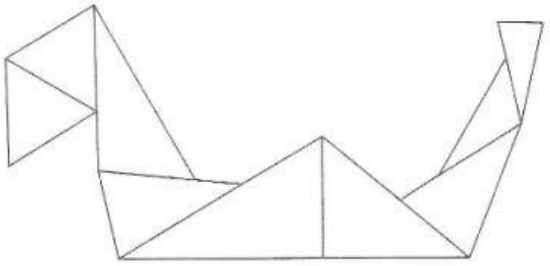

7. Viết tiếp vào chỗ chấm cho thích hợp.

a)

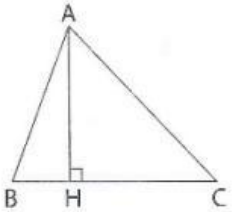

Tam giác ..... có đường cao tương ứng với đáy ..... là .....

b)

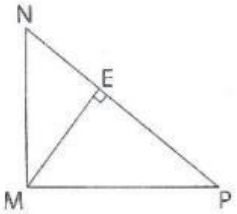

Tam giác ..... có đường cao tương ứng với đáy ..... là .....

c)

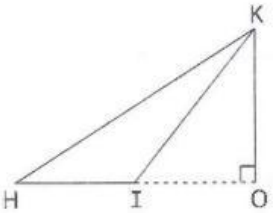

Tam giác ..... có đường cao tương ứng với đáy ..... là .....

LIVEWORKSHEETS