Nilai :

A. Soal Pilihan Ganda

Pilihlah satu jawaban yang paling tepat dengan memberi tanda silang (X) pada huruf A, B, C, atau D!

1. Bagian tanaman yang berfungsi menyerap air dan mineral dari tanah adalah...
   a. Batang
   b. Daun
   c. Akar
   d. Bunga
2. Agar tanaman dapat tumbuh dengan baik, tanaman membutuhkan...
   a. Cahaya matahari
   b. Televisi
   c. Batu
   d. Kertas
3. Proses awal pertumbuhan tanaman dari biji disebut...
   a. Berbuah
   b. Berkembang biak
   c. Perkecambahan
   d. Panen
4. Tanaman akan layu jika tidak mendapat...
   a. Air
   b. Angin
   c. Kertas
   d. Plastik

LIVEWORKSHEETS

B. Soal Isian Singkat

Nilai :

Jawablah pertanyaan berikut ini dengan benar dan tepat!

1. Mikroskop pertama kali ditemukan oleh ...

   Jawaban : _____

   _____

2. Dua jenis utama mikroskop yang digunakan dalam laboratorium adalah ... dan ...

   Jawaban : _____

   _____

3. Untuk memindahkan mikroskop, kita memegang bagian ... dan ...

   Jawaban : _____

   _____

4. Mikroskop dapat memperbesar objek hingga ... kali lipat.

   Jawaban : _____

   _____

5. Bagian mikroskop yang mengatur banyak sedikitnya cahaya adalah ...

   Jawaban : _____

   _____

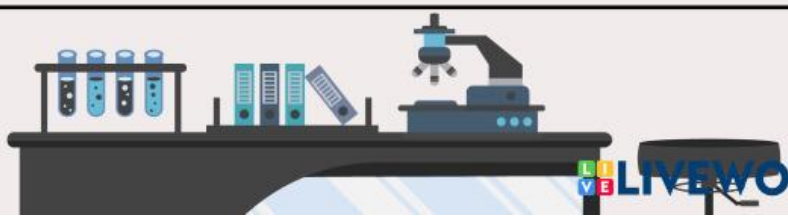

LIVEWORKSHEETS

Nama : Kelas :

Mari Mencari Kata

Cermatilah tabel di bawah ini dan carilah kata yang sesuai dengan gambar sayur!

T	I	M	U	N	K	A	P	A	T	O	R	O
M	O	T	O	W	O	R	T	E	L	P	Z	M
A	N	T	I	N	G	A	L	T	Y	A	M	T
K	M	P	A	P	R	I	K	E	W	A	T	Y
A	G	K	J	A	H	G	S	R	P	A	R	E
E	T	O	M	A	T	I	K	O	P	T	E	R
G	S	L	G	T	I	O	C	A	B	E	K	O
T	R	U	K	A	R	I	M	G	A	P	A	L

LIVEWORKSHEETS

Petinjuk: Bacalah estya pernytatan didh sakama. Lingirral ((B) (B) jjfa pernyytan itu Beniar dad daj if jjik Salah.

No.	Pernyatuan	Jawaban
1.	Air sagant dabultked tananan utuk grubvh dan makananasa sisend.	(B / S)
2.	Proses biji derbuah tunuas ssail sendlr	(B / S)
3.	Proses biji eerbuab tunus kekail seebutt fotossintetis!	(B / S)
4.	Tubulttan hanya bisa gromuh highi,	(B / S)
5.	Sinar mamatah bisa gronuh highi, hiak bisa grouh basar (meleabar):	(B / S)
4.	Sinar mamatahi urguaaarn bay tubulttan yauk mekat makanan ai llahian daun	(B / S)
5.	Akar fendksjki weryap sinar mansatan ynag beduittan tanaan	(B / S)
6.	Tansa tanah, tanalan aulaah perver bisa gromuh	(B / S)
7.	Bunga alaah bagan tanaan wlay pensusikan biji otau buah!	(B / S)
8.	Tanaman vang kekuirngan wair walh layu yad bisa mati.	(B / S)





LIVEWORKSHEETS

Fructe de toamnă



©Poveștile lui Pișcoțel

LIVEWORKSHEETS