اختبار مادة الرياضيات

الصف الخامس

الوحدة التاسعة

22 / 3 / 2021

LIVEWORKSHEETS

اضرب. اكتب في أبسط صورة.

$\frac{1}{5} \times 7 =$

$\frac{2}{5} \times 11 =$

$13 \times \frac{2}{13} =$

$24 \times \frac{3}{4} =$

قدّر ناتج ضرب كل مما يلي.

$\frac{7}{8} \times \frac{1}{9} =$

$17 \times \frac{1}{4} =$

$6\frac{4}{5} \times 5\frac{7}{8} =$

$\frac{1}{2} \times 33 =$

$2\frac{6}{7} \times 6\frac{2}{9} =$

$6\frac{4}{5} \times 5\frac{7}{8} =$

LIVEWORKSHEETS

اضرب. اكتب في أبسط صورة.

$\frac{2}{5} \times 2\frac{3}{4} =$

$2\frac{4}{5} \times 6\frac{1}{8} =$

ظلل النماذج لإيجاد ناتج ضرب كل مما يلي. اكتب في أبسط صورة.

$1\frac{1}{2} \times 2\frac{1}{2}$

اختر التظليل الصحيح

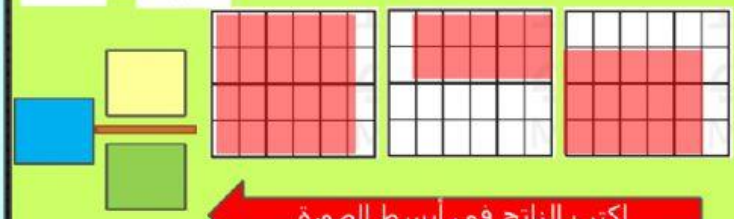

اكتب الناتج في أبسط الصورة

LIVEWORKSHEETS

اضرب. اكتب في أبسط صورة.

$\frac{1}{3} \times \frac{2}{5} =$

$\frac{2}{9} \times \frac{1}{3} =$

$\frac{5}{7} \times \frac{1}{4} =$

$\frac{4}{9} \times \frac{3}{8} =$

ظلل النماذج لإيجاد ناتج ضرب كل مما يلي. اكتب في أبسط صورة.

$\frac{5}{6} \times \frac{3}{4} =$

اختر التظليل الصحيح

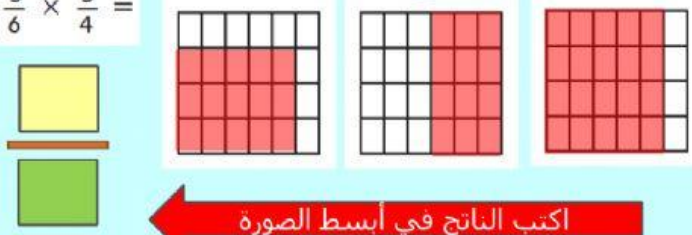

اكتب الناتج في أبسط الصورة

أوجد كل ناتج قسمة. استخدم نموذجًا. تحقق باستخدام الضرب.

$5 \div \frac{1}{4} =$

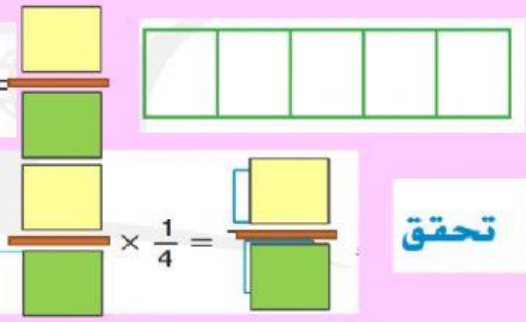

تحقق

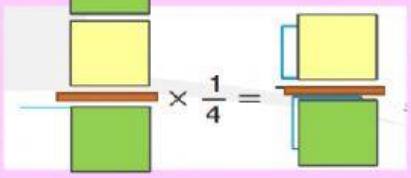

$3 \div \frac{1}{6} =$

تحقق

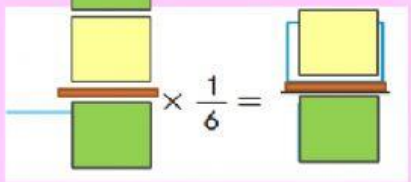

الجبر بدون الضرب،حوط ما إذا كان المجهول في كل معادلة أكبر من أو أصغر من أو يساوي العدد الكلي.

$8 \times \frac{4}{5} = h$

أكبر من

أصغر من

يساوي

$1\frac{2}{3} \times 4 = b$

أكبر من

أصغر من

يساوي

$6 \times \frac{1}{3} = n$

أكبر من

أصغر من

يساوي

$1 \times 5 = k$

أكبر من

أصغر من

يساوي

LIVEWORKSHEETS

أوجد ناتج قسمة كل مما يلي. استخدم كل نموذج. تحقق باستخدام الضرب.

$\frac{1}{2} \div 6 =$ ____

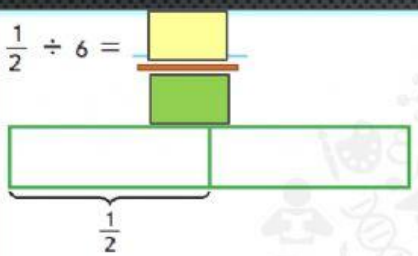

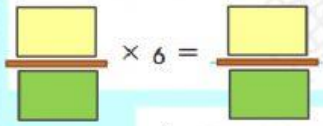

$\times 6 =$ أو **تحقق** $\frac{1}{2}$

$\frac{1}{9} \div 2 =$ ____

$\times 2 =$ أو **تحقق** $\frac{1}{9}$

فاست سمية أبعاد إطار ملصق مستطيل. فكانت $\frac{3}{4}$ m طولاً و $\frac{1}{2}$ m عرضًا. فما مساحة الإطار؟

____

تذكر مساحة المستطيل هي الطول ضرب العرض
A = LXW

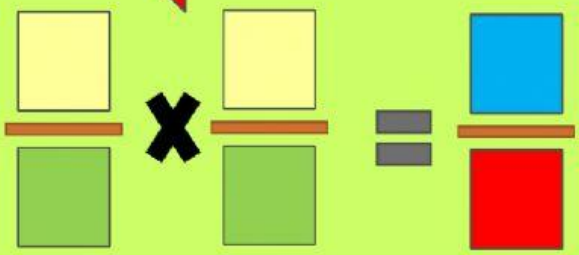

LIVEWORKSHEETS

أتمنى لكم التوفيق والنجاح

LIVEWORKSHEETS