PEMERINTAH KABUPATEN WAJO
DINAS PENDIDIKAN DAN KEBUDAYAAN
UPTD SD NEGERI 380 SAPPA
Jl. Laikki Lonra Toddang Desa Sappa Kec. Belawa Kabupaten Wajo

SUMATIF AKHIR SEMESTER (SAS)
KELAS 2 SEMESTER 1
TAHUN AJARAN 2025-2026

Mata Pelajaran : MATEMATIKA
Hari/Tanggal : ……..
Waktu : 120 Menit
Nama : ……

I. Berilah tanda silang (x) pada huruf A, B, C atau D pada jawaban yang paling benar !

1. Amati gambar berikut!

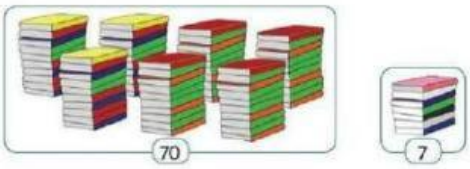

Jumlah Pensil yang ada pada gambar adalah . . . .

A. 71 B. 77 C. 75 D. 76

2.

Amati bilangan di samping !

Nilai tempat satuan pada bilangan tersebut adalah angka…

A. 4 B. 8 C. 40 D. 5

3. Perhatikan bilangan berikut ini !

Urutan bilangan dari yang terbesar ke terkecil adalah…

A. 29,25,27, 22 B. 22, 25, 27, 29 C. 22, 27, 25, 29 D. 29,27,25,22

4. Hasil dari operasi pengurangan bersusun di bawah yaitu . . .

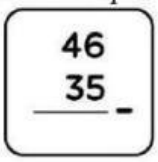

A. 10
B. 11
C. 12
D. 13

5. Amati gambar di samping !



Jumlah semua kedua sayuran di samping adalah....

A. 53 B. 54
C. 44 D. 55

LIVEWORKSHEETS

6.

Dinda dan Rini memiliki satu keranjang jeruk yang berisi 35 buah jeruk Mereka berdua memakan jeruk sebanyak 11 buah.

Sisa jeruk Dinda dan Rini sekarang adalah…

A. 22 B. 23 C. 24 D. 34

7. Bangun datar di samping adalah . .



A. segitiga

B. laying-layang

C. segilima

D. Persegi

8. Amati gambar di bawah ini!

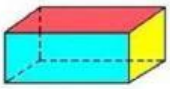

Nama bangun ruang di samping yaitu. . .

A. kubus B. balok C. bola D. kerucut

9. Perhatikan gambar berikut!

Kucing berdiri di . . . pohon pisang

A. depan B. sebelah kiri C. belakang D. atas

10. Perhatikan gambar berikut!

Pola berikutnya yaitu . . .

A. B. C. D.

11. Bilangan yang tepat untuk mengisi titik-titik di samping yaitu. . .

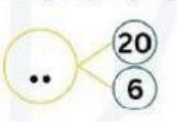

A. 26 B. 62 C. 20 D. 2

12. Bilangan yang tepat untuk melengkapi titik-titik adalah..

A. 22, 28,29 B. 26,28,29 C. 25,27,28 D. 26,27,29

13. Di kelas 2A terdapat jam dinding yang berbentuk bulat seperti gambar disamping. Bentuk jam dinding tersebut sama bentuk nya dengan salah satu bangun datar yaitu…

A. oval B. persegi

C. lingkaran D. bola

LIVEWORKSHEETS

14. Amati gambar di bawah ini !

Benda-benda di atas merupakan contoh bangun ruang dari…

A. kerucut B. balok C. tabung D. kerucut

15. Perhatikan gambar berikut!

Kucing duduk di . . . meja.

A. depan

B. belakang

C. atas

D. bawah

II. Isilah pertanyaan di bawah ini dengan jawaban yang tepat!

16.

Bilangan pada baju di samping dibaca……

17. Tanda yang tepat untuk melengkapi titik-titik di samping adalah. 76 28

18.

= ... puluhan + ... satuan.

19. Hasil operasi dari penjumlahan 30 + 27 =……..

20. 89
25 -

Hasil dari pengurangan bilangan berikut adalah ……

21. Boni membeli kelereng sebanyak 15 buah. Lalu kakak memberinya kelereng sebanyak 12 buah. Maka jumlah kelereng Boni semuanya adalah...

22. Perhatikan gambar berikut!



Jumlah sisi bangun datar di samping adalah ……

Ani

23.

11	12	13	14	15	16	17	18	19	20

Ani melompat 6 langkah ke depan, maka dia berada di. . .

24.

Amati gambar di samping ini !

Nama bangun ruang dari berbagai benda di samping adalah ……

LIVEWORKSHEETS

25. Perhatikan gambar berikut!

Kucing duduk di . . . sepeda.

III. Isilah titik-titik di bawah ini dengan jawaban yang tepat!

26. Andi memiliki 26 kelereng berwarna merah. Kakak memiliki 65 kelereng. Berapakah jumlah kelereng Andi dan kakak ?

……

……

27. Di perpustakaan ada 72 buku cerita. Sebanyak 25 buku dipinjam oleh murid. Berapa buku cerita yang masih ada di perpustakaan? kerjakan dengan cara bersusun !

……

……

28. Amati ruangan di bawah ini !

Tuliskan 2 benda yang berbentuk lingkaran !

……

……

29. Sebutkan 3 benda berbentuk kerucut yang pernah kamu temui !

……

……

30. Selesaikan pola berikut ini !

LIVEWORKSHEETS