Nama :_____ Kelas : _____

METAMORFOSIS

Lengkapi tabel di bawah ini!

NO.	TAHAP PERTUMBUHAN	KETERANGAN
1	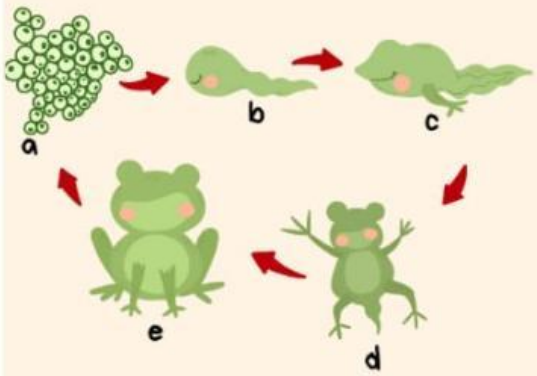 Metamorfosis Katak	Tahapan metamorfosis pada katak adalah: a. ..... b. ..... c. ..... d. ..... e. ..... Metamorfosis pada Katak termasuk metamorfosis ..... karena ....
2	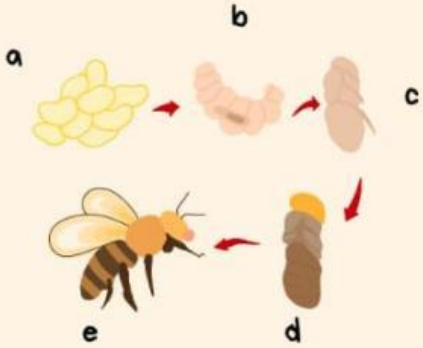 Metamorfosis Capung	Tahapan metamorfosis pada lebah adalah: a. ..... b. ..... c. ..... d. ..... e. ..... Metamorfosis pada lebah termasuk metamorfosis ..... karena ....
3	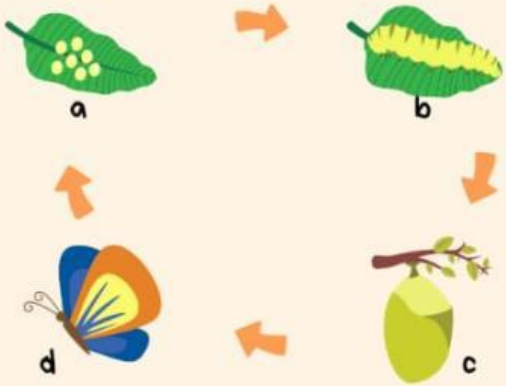 Metamorfosis Kupu-kupu	Tahapan metamorfosis pada kupu-kupu adalah: a. ..... b. ..... c. ..... d. ..... Metamorfosis pada kupu-kupu termasuk metamorfosis ..... karena ....

LIVEWORKSHEETS