# Паралельні прямі

**1.** Дві прямі називаються паралельними, якщо

- вони перетинаються під прямим кутом
- вони не перетинаються
- вони перетинаються

**2.** На якому малюнку зображено паралельні прямі?

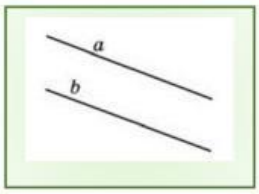


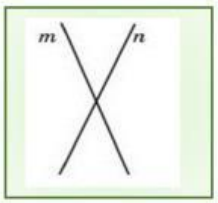


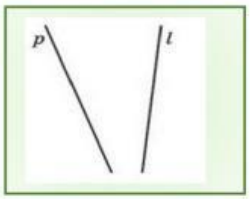


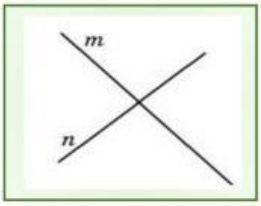


**3** Скільки прямих, паралельних прямій а, можна провести через точку А?

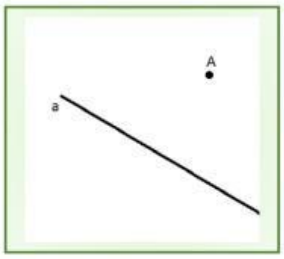


- дві
- три
- безліч
- одну

**4.** Як позначають паралельні прямі в записах?

- AB ⊥ CD
- AB ∥ CD
- AB ∟ CD

**5.** У прямокутника ABCD які сторони паралельні ?

- AB і BC
- AB і CD

**6.** У прямокутнику ABCD вкажіть пари паралельних сторін.

- AB і BC, AD і DC
- BC і AD, CD і AD
- AB і CD, BC і AD
- AC і BD, AB і CD

LIVEWORKSHEETS