NAMA: KELAS:

Latihan 1

PADANKAN BILANGAN ANGKA BERERTI YANG BETUL

1700		50.009	
8.0061		43	
0.023		808.1	
763193		0.0439	
0.00950		0.178111	

Created by : NabilahRais

LIVEWORKSHEETS

NAMA: KELAS:

Latihan 2

TUKARKAN OPERASI DI BAWAH KEPADA BENTUK PIAWAI YANG BETUL. TARIK DAN LETAKKAN JAWAPAN YANG SESUAI.

$2.47 \times 10^{-5} - 5.19 \times 10^{-7}$ ___ × ___

$2.65 \times 10^{-4} + 1.97 \times 10^{-4}$ ___ × ___

$3 \times 10^{5} \times 4 \times 10^{3}$ ___ × ___

$2.5 \times 10^{7} \times 5.6 \times 10^{9}$ ___ × ___

$6.5 \times 10^{4} \div 2.5 \times 10^{7}$ ___ × ___

10^{-3}	2.418	10^{17}	2.6	10^{-5}
10^{-4}	1.2	4.62	10^{9}	1.4

Created by : NabilahRais

LIVEWORKSHEETS

NAMA: KELAS:

Latihan 3

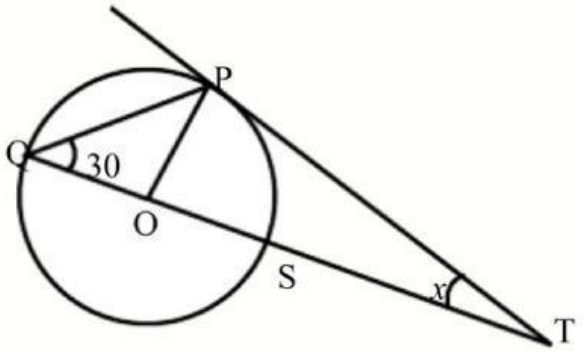

Dalam Rajah di bawah, tangen *TP* menyentuh bulatan *PQS*, yang berpusat *O* di *P*. Diberi *QOST* ialah garis lurus, carikan nilai *x*.

Jawapan :

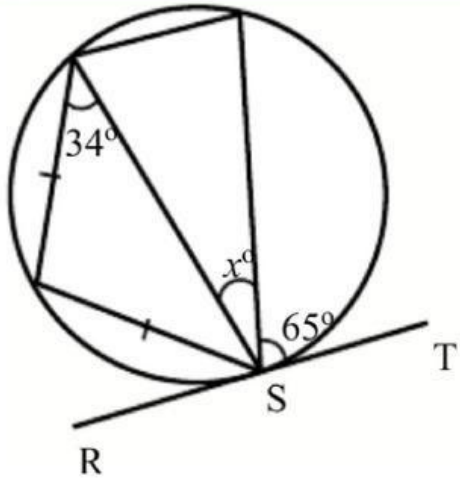

Dalam Rajah di atas, tangen *RST* menyentuh bulatan pada titik *S*. Nilai *x* ialah

Jawapan :

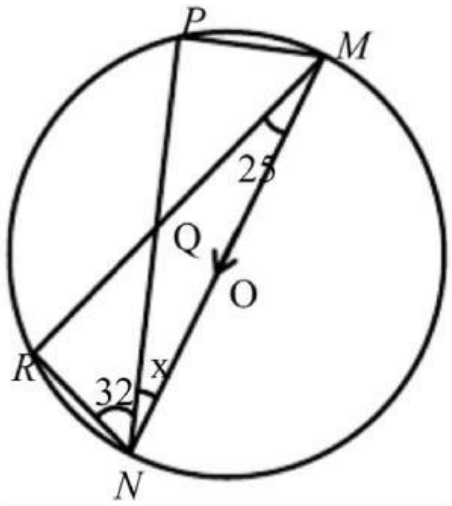

Dalam Rajah di bawah, *O* ialah pusat bulatan. *MON* dan *PQN* ialah garis lurus. Cari nilai *x*.

Jawapan:

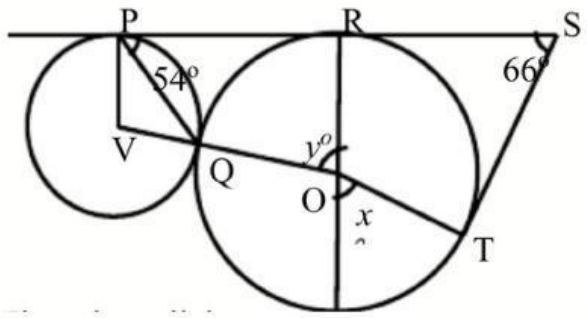

Dalam Rajah di bawah, *PRS* ialah tangen sepunya kepada bulatan yang masing-masing berpusat *V* dan *O*. *ST* ialah tangen kepada bulatan berpusat O. *ROF* dan *VQO* ialah garis lurus. Hitungkan nilai $x + y$.

Jawapan:

Created by : NabilahRais

LIVEWORKSHEETS