II.NUMERELE NATURALE DE LA O LA 10

Numerele de la 0 la 10. Recapitulare.

1.Încercuieşte cifra care corespunde numărului de elemente.

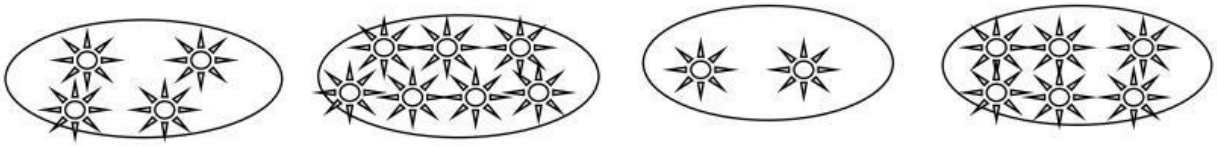

3 4 5 7 1 2 6 8

2.Scrie în ordine crescătoare, apoi descrescătoare, numerele de la **0** la **10.**

3.Completează căsuţele cu numerele corespunzătoare.

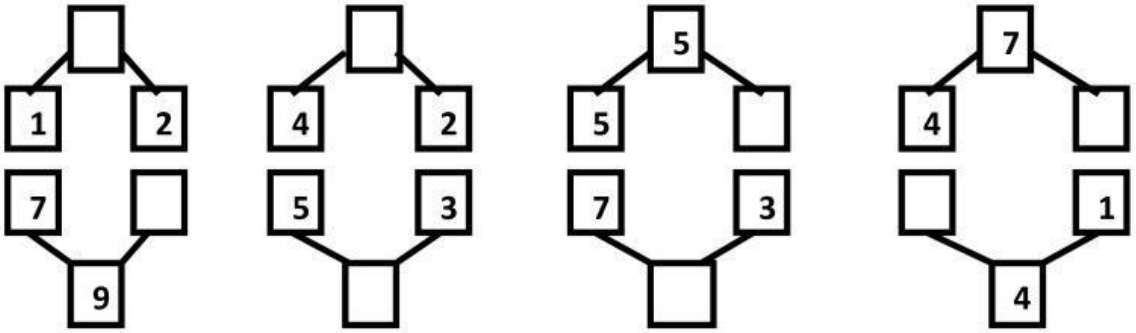

4.Compară următoarele perechi de numere şi scrie semnul **>** , **<** sau **=.**

0	☐	1	4	☐	6	9	☐	8	10	☐	8
4	☐	3	2	☐	0	6	☐	4	3	☐	1
5	☐	5	4	☐	7	3	☐	0	9	☐	7

5.Scrie numerele :

- mai mari decît 2, dar mai mici decît 7; _____
- pare cuprinse între 1 şi 8 ; _____
- impare cuprinse între 2 şi 10; _____

6.Completează cu numere potrivite.

5 < ☐ < ☐	☐ > 9 > ☐	☐ < 3 < ☐	☐ > 6 = ☐
4 > ☐ > ☐	☐ < 8 > ☐	☐ = 5 > ☐	☐ > 1 > ☐

LIVEWORKSHEETS

7.Scrie numerele învăţate în ordine crescătoare.

8.Află ce număr urmează după fiecare dintre numerele:

3, ___ , 2, ___, 5, ___, 0, ___, 3, ___, 7, ___, 4, ___, 9, ___, 6, ___ .

9.Află ce număr se află înaintea fiecăruia dintre numerele:

____, 1, ___, 4, __, 5, ___, 9, ___, 10, ___, 6, ___,2, ___,8 , ___, 3, ___,7.

10.Numără fructele şi pune numărul în căsuţă.

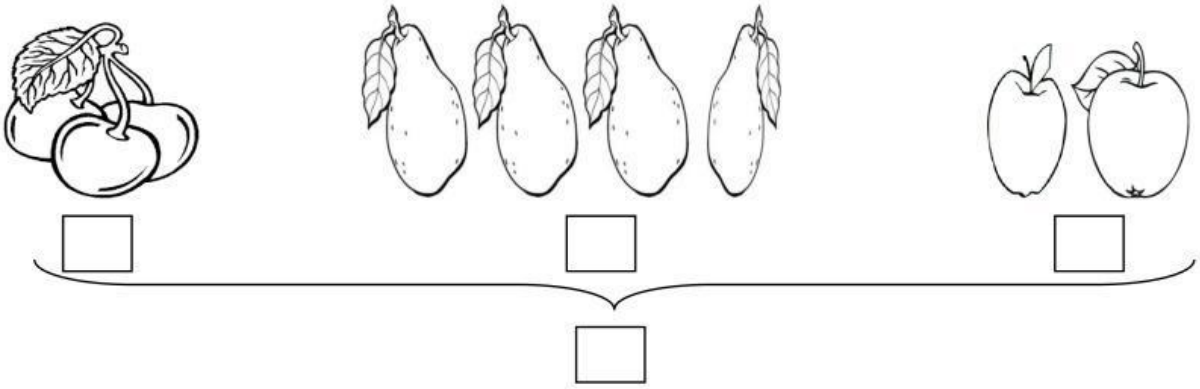

11.Numerotează părţile urmărind sensul.

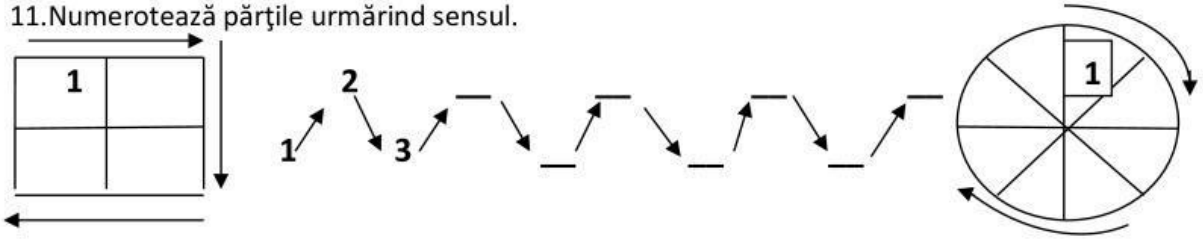

12.Scrie vecinii numerelor.

☐	4	☐	☐	8	☐	☐	7	☐	☐	1	☐
☐	9	☐	☐	6	☐	☐	5	☐	☐	3	☐

13.Scrie numerele care corespund răspunsurilor la următoarele întrebări:

- Cîte aripi are o pasăre? ☐ Dar două păsări? ☐
- Cîte degete ai la o mînă? ☐ Dar la două mîni? ☐
- Cîte zile sînt într-o săptămînă? ☐
- Cîte picioare are un cîine? ☐ Dar un cucoş ? ☐

LIVEWORKSHEETS