Họ và tên: _____ Ngày: _____

1. Đúng ghi đ, sai ghi s.



☐ Băng vải màu đỏ dài hơn băng vải màu xanh.

☐ Băng vải màu vàng ngắn hơn băng vải màu đỏ.

☐ Băng vải màu xanh ngắn hơn băng vải màu vàng nhưng dài hơn băng vải màu đỏ.

☐ Băng vải màu vàng dài nhất.

Khoanh vào chữ cái trước ý trả lời đúng (Câu 2, 3, 4, 5).

2.

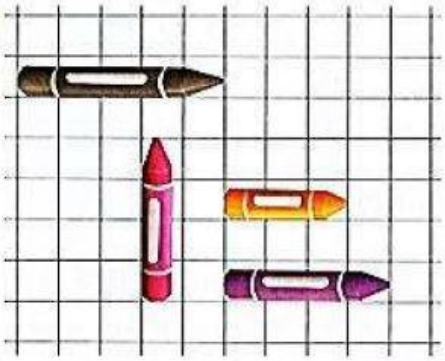

a) Bút nào dài hơn bút hồng?
A. Bút đen
B. Bút tím
C. Bút cam

b) Hai bút nào dài bằng nhau?
A. Đen và tím
B. Tím và hồng
C. Không có

3.

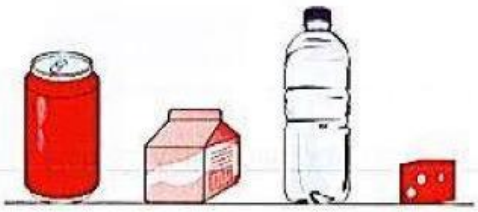

a) Vật nào thấp hơn hộp sữa?
A. Con xúc xắc
B. Chai nước tinh khiết
C. Lon nước ngọt

b) Vật nào cao nhất?
A. Lon nước ngọt
B. Chai nước tinh khiết
C. Con xúc xắc

4.

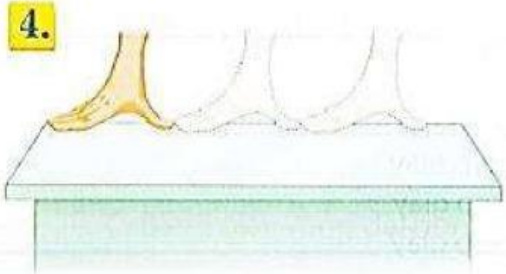

Chiều dài cái bàn khoảng
A. 3 gang tay
B. 4 gang tay
C. Dài hơn 3 gang tay nhưng ngắn hơn 4 gang tay

LIVEWORKSHEETS

5.

A. Bút chì dài 10 cm.

B. Chiều dài băng vải ngắn hơn hộp keo dán.

C. Chiều dài hộp keo dán dài hơn bút chì.



6.

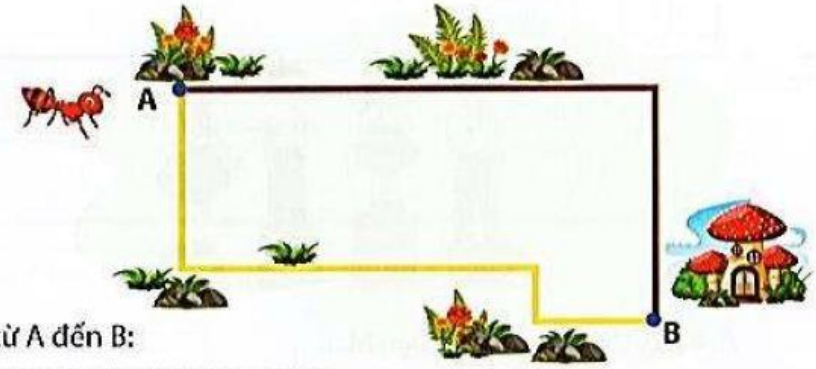

Con kiến đi từ A đến B:

A. Đi đường nâu dài hơn đường vàng.
B. Đi đường nâu ngắn hơn đường vàng.
C. Đi đường nâu dài bằng đường vàng.

7. Nối theo mẫu.

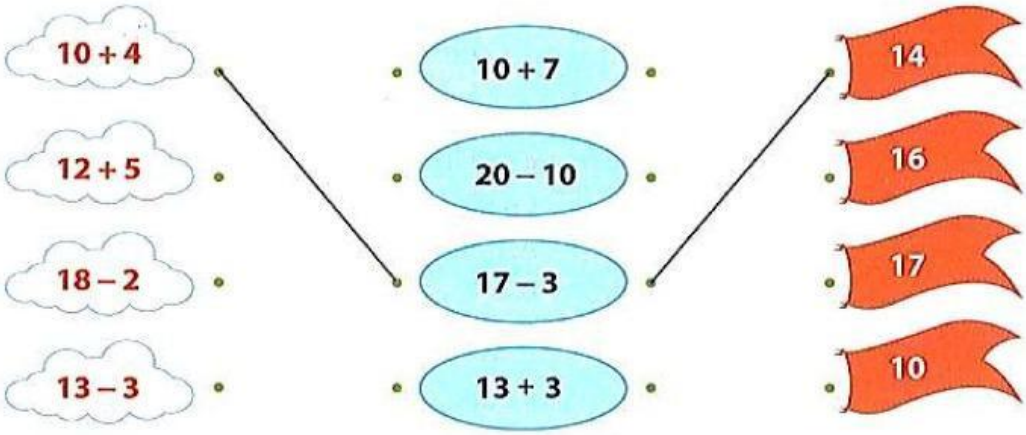

LIVEWORKSHEETS