AYO KITA MENGENAL PECAHAN!

BIODATA PESERTA PELATIHAN E-LKPD

NAMA GURU: NURHIDAYAH, S.Pd
NIP: 199105212010122011
INSTANSI: SD NEGERI 016 BALIKPAPAN TIMUR

KELAS/SEMESTER :2 (DUA)/ 2 (DUA)
TEMA : 7 KEBERSAMAAN
MATA PELAJARAN: MATEMATIKA
POKOK BAHASAN: PECAHAN SEDERHANA

NAMA SISWA : .....
KELAS / NO. ABSEN : .....
TANGGAL : .....

LIVEWORKSHEETS

SEBELUMNYA
MARI KITA BERDOA
TERLEBIH DAHULU YA!

1. SENTUH KOTAK INI UNTUK MEMULAI BERDOA

2. LALU SIMAKLAH VIDEO DI BAWAH INI

LIVEWORKSHEETS

KEGIATAN 1

BERAPAKAH NILAI PECAHAN DI BAWAH INI?

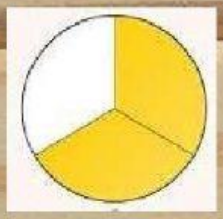

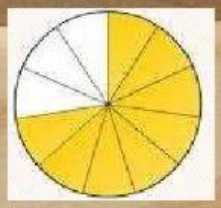

KEGIATAN 2

Tariklah garis dari gambar pecahan dengan kotak pasangannya!

TIGA PER DELAPAN

DUA PER DELAPAN

KEGIATAN 3

PILIH SALAH SATU MANA YANG TERMASUK PECAHAN $\frac{5}{8}$?

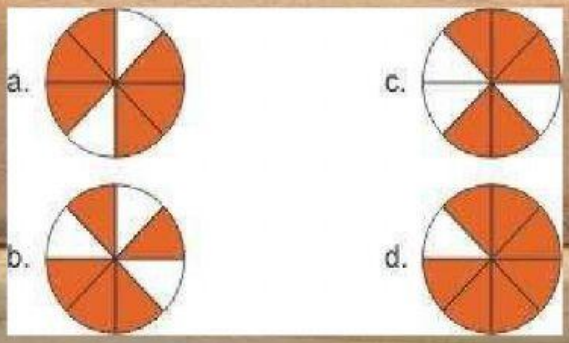

KEGIATAN 4

Klik/sentuh gambar, kemudian geser dan lepas pada kotak kosong yang tersedia, dan sesuaikan dengan lambang pecahannya!

$\frac{1}{3}$ =

$\frac{1}{2}$ =



LIVEWORKSHEETS

Berilah tanda centang setelah mengerjakan lembar kerja tentang pecahan sederhana!

Ya, saya sudah paham tentang pecahan

belum, saya belum paham tentang pecahan

JIKA SUDAH SELESAI, SILAHKAN KALIAN MEMBACA DOA . SEKIAN DAN TERIMA KASIH.

LIVEWORKSHEETS