AYO BERHITUNG

NAMA : KELAS :

PETUNJUK : Jawablah soal pilihan ganda berikut dengan benar beri tanda (×)



A. 5

B. 6

C. 7

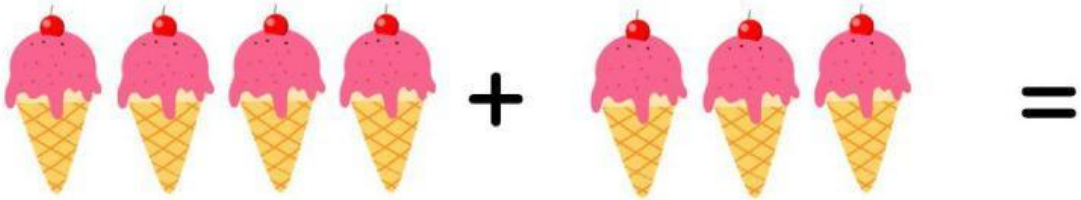

A. 9

B. 8

C. 7

LIVEWORKSHEETS

PENJUMLAHAN DENGAN GAMBAR

NAMA : KELAS :

PETUNJUK : Lihat gambar pada setiap soal. Hitung jumlah benda, lalu tuliskan hasilnya.







LIVEWORKSHEETS

Nama: _____ Kelas: _____

ADA BERAPA BANYAK?

Beri tanda centang (✔) pada kotak yang berisi 3 buah!



LIVEWORKSHEETS

AYO BERLATIH

MARI KITA BELAJAR BERHITUNG

NAMA : KELAS :

PETUNJUK : Cocokkan jumlah gambar dengan angka yang sesuai. Tarik garis dari gambar ke angka yang benar.



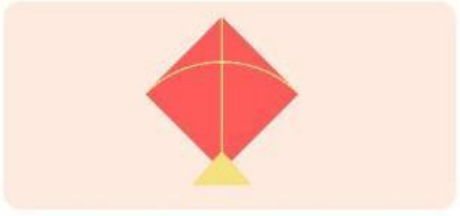

4

2

1

3

6

LIVEWORKSHEETS

MENGHITUNG BENDA

Hitung dan Lengkapi Kalimat Matematika

Nama : ..... Kelas : .....

PETUNJUK : Pasangkan tabel dengan jawaban yang benar



4

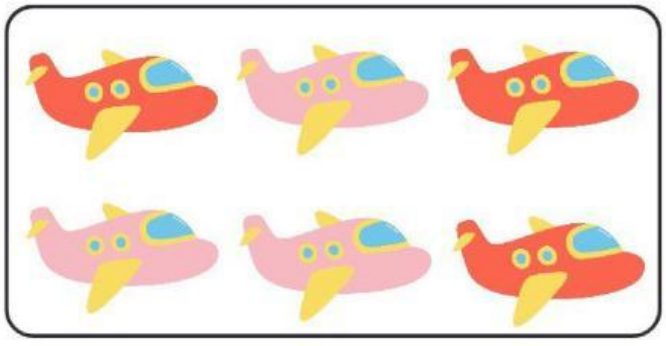

9



6

LIVEWORKSHEETS