LEMBAR KERJA PESERTA DIDIK

L K P D

Ilmu pengetahuan alam

Nama :

Kelas :

DI SUSUN OLEH

MUHAMMAD RIZQAN GHANI

LIVEWORKSHEETS

1. TULISKAN NAMA HEWAN YANG ADA PADA GAMBAR DIBAWAH INI





_____ _____

LIVEWORKSHEETS

2. HEWAN BERIKUT YANG TERMASUK PEMAKAN TUMBUHAN(HERBIVORA) ADALAH:

_____

LIVEWORKSHEETS

3. PADA GAMBAR DI BAWAH INI HEWAN APAKAH YANG HIDUP DI DALAM AIR







LIVEWORKSHEETS

4. PILIH CARA HEWAN BERGERAK PADA GAMBAR DI BAWAH INI

MELATA

TERBANG

BERJALAN

MELOMPAT

LIVEWORKSHEETS

5. SERETLAH NAMA HEWAN KE GAMBAR YANG SESUAI DI BAWAH INI



HARIMAU

SINGA

LIVEWORKSHEETS