# LEMBAR KERJA PESERTA DIDIK

# L K P D

Ilmu pengetahuan alam

Nama :

Kelas :

DI SUSUN OLEH

MUHAMMAD RIZQAN GHANI

LIVEWORKSHEETS

# 1. TULISKAN NAMA HEWAN YANG ADA PADA GAMBAR DIBAWAH INI





_____ _____

LIVEWORKSHEETS

2. HEWAN BERIKUT YANG TERMASUK PEMAKAN TUMBUHAN(HERBIVORA) ADALAH:

_____

LIVEWORKSHEETS

# 3. PADA GAMBAR DI BAWAH INI HEWAN APAKAH YANG HIDUP DI DALAM AIR







LIVEWORKSHEETS

# 4. PILIH CARA HEWAN BERGERAK PADA GAMBAR DI BAWAH INI

MELATA

TERBANG

BERJALAN

MELOMPAT

LIVEWORKSHEETS

# 5. SERETLAH NAMA HEWAN KE GAMBAR YANG SESUAI DI BAWAH INI



HARIMAU

SINGA

LIVEWORKSHEETS