Nama : _____ Kelas : _____

Perubahan Wujud Zat

Tentukanlah perubahan zat yang terjadi dengan mengisi tabel kosong di bawah ini!

Benda	Perubahan Wujud	Dari Zat Menjadi Zat
	Mencair	Padat menjadi cair

LIVEWORKSHEETS

Nama :

Kelas :

Perubahan Wujud Benda

Hubungkan gambar perubahan wujud benda di bawah ini dengan namanya!

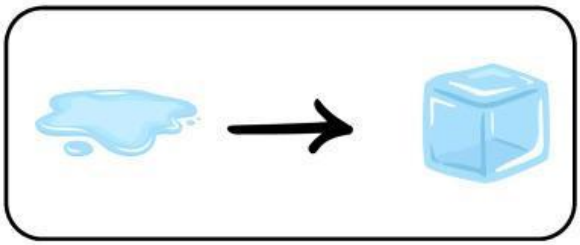

- Mengembun

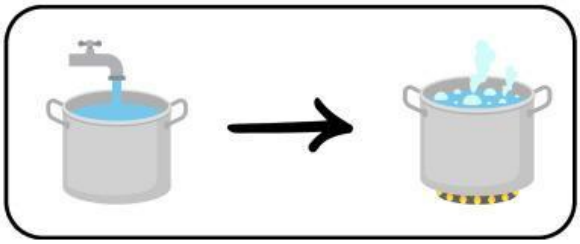

- Mencair

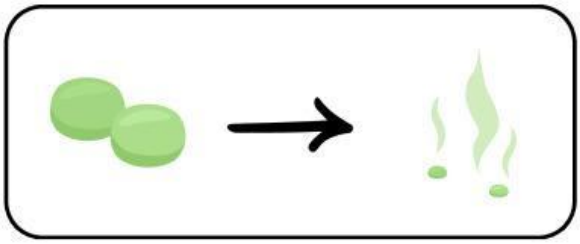

- Membeku

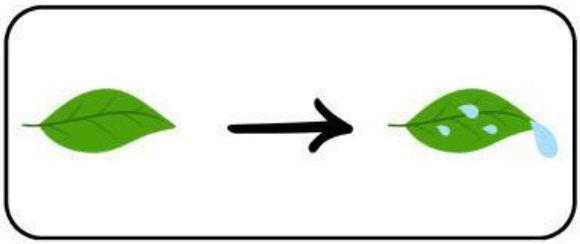

- Menyublim

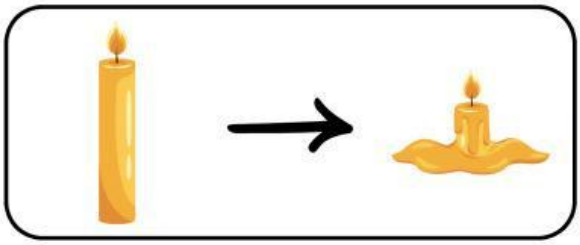

- Menguap

LIVEWORKSHEETS

A. Ayo Cocokkan!

Petunjuk : Tarik garis (atau cocokkan huruf dengan angka) antara pernyataan di Kolom A dengan jawaban yang tepat di Kolom B.

Partikel sangat rapat dan bergetar	Zat Cair
Jarak antarpartikel sangat renggang	Zat padat
Bentuk dan volume berubah-ubah	Zat gas
Partikel agak renggang dan dapat mengalir	Melebur (mencair)
Perubahan padat ke cair	Menguap

LIVEWORKSHEETS

SOAL PILIHAN GANDA

Nama ----------

Tanggal ----------

NILAI:

01 Perubahan dari zat padat menjadi zat cair disebut?

A. Membeku
B. Menguap
C. Mencair
D. Mengembun

02 Perubahan gas menjadi zat cair disebut sebagai?

A. Meleleh
B. Membeku
C. Mengembun
D. Menguap

03 Proses perubahan dari zat cair menjadi gas adalah?

A. Mengkristal
B. Mencair
C. Menguap
D. Membeku

04 Perubahan zat padat langsung menjadi gas tanpa melalui fase cair disebut?

A. Menyublim
B. Mencair
C. Mengembun
D. Membeku

05 Saat air berubah menjadi es, proses ini disebut?

A. Menguap
B. Membeku
C. Mencair
D. Menyublim

LIVEWORKSHEETS