Эволюция

1. Кто придумал первую теорию эволюции?

А) Жан Батист Ламарк

Б) Чарльз Дарвин

В) Альфред Уоллес

Г) Альберт Энштеин

2. Соотнесите фото ученого с его фамилией

Жан Батист Ламарк | Чарльз Дарвин | Карл Линей





3. Рассмотрите семена и плоды разных растений. Соотнеси с названием



Календула Горох Морковь Фасоль Хлопчатник Тыква Яблоня Огурец Дуб

Кукуруза Орешник Одуванчик Подсолнечник Рожь Вишня Клен

LIVEWORKSHEETS

4. Вставь пропущенные слова в текст

§ 46 Этапы эволюции человека

Непосредственным предшественником предков рода [ ] считаются ископаемые *обезьянолюди* — [ ] от лат. *australis*— «южный» и греч. *pithecos*— «обезьяна»), обитавшие [ ] в период от 5 до 1 млн лет назад. Изучение найденных останков показало, что [ ] занимали промежуточное положение между обезьянами и человеком. Они уже обладали способностью к [ ], имели зубы, очень сходные с человеческими. Объем их головного мозга составлял 550 cm^3 — больше, чем у [ ] но гораздо меньше, чем у [ ] (рис. 63).

Ископаемые останки более поздних [ ] (например, гиперсильного австралопитека *Australopithecus boisei),* живших примерно 2,5 млн лет назад, показали, что это были уже двуногие существа, способные стоять и передвигаться подобно человеку. Вели [ ] образ жизни.

Двуногость является выдающимся эволюционным преобразованием, возникшим вследствие обитания на равнинной местности или на краю леса.

5. Заполни таблицу «Жизнедеятельность организмов в условиях биологического прогресса и биологического регресса

Показатели жизнедеятельности	Биологический прогресс	Биологический регресс
Приспособленность особей вида к окружающей среде		
Численность вида		
Распространенность вида		
Примеры		

LIVEWORKSHEETS