Nama: _____ Kelas _____

ORGAN PERNAPASAN MANUSIA

Tuliskan bagian-bagian organ pernapasan sesuai gambar di bawah ini!

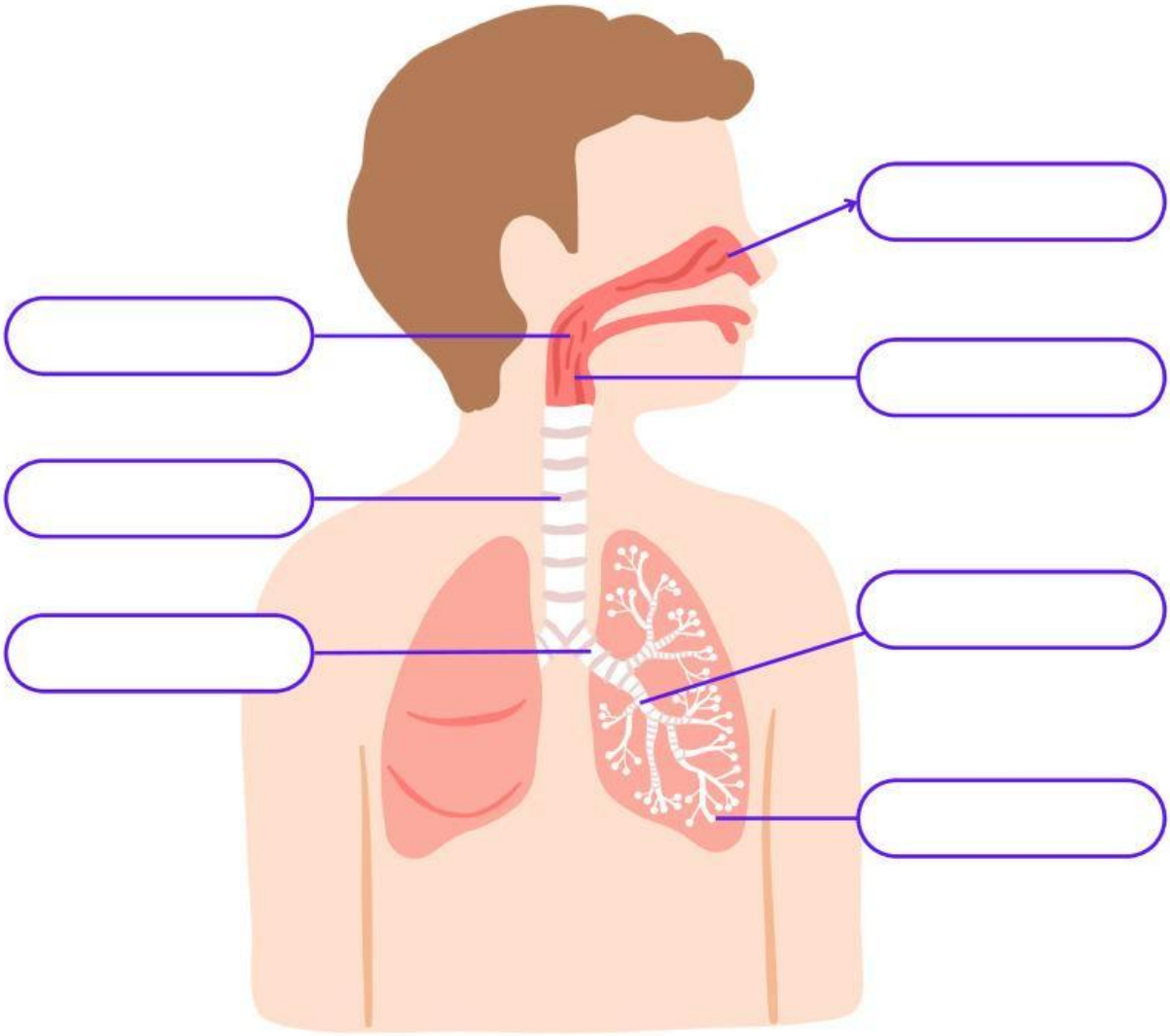

Gunakan nama organ pernapasan berikut untuk melengkapi gambar di atas

Laring | Trakea | Brokiolus

Hidung | Bronkus | Alveolus

Faring | Paru-paru

LIVEWORKSHEETS

MENCOCOKKAN
SISTEM PERNAPASAN

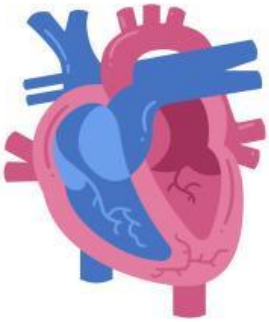

Hubungkan organ pernafasan sebelah kiri fungsi yang tepat di sebelah kanan dengan menarik garis.

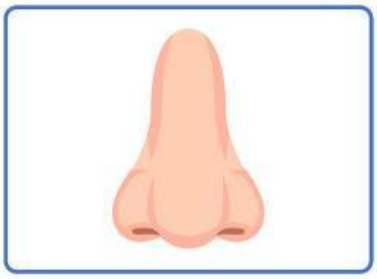

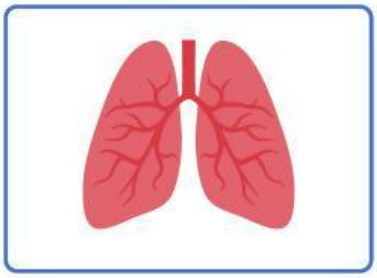

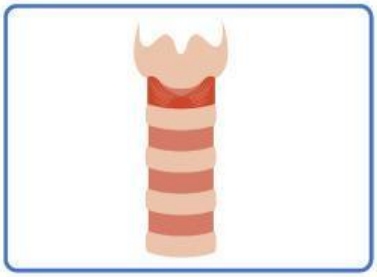

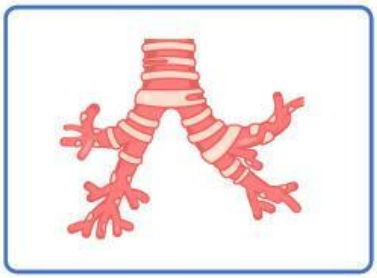

- berfungsi menyalurkan udara dari trakea ke bronkiolus
- sebagai tempat pertukaran gas antara udara dan darah
- pintu masuk utama udara ke dalam tubuh
- tabung yang menghubungkan laring dengan bronkus

LIVEWORKSHEETS

MENCARI KATA

Temukan nama organ pernapasan manusia yang terdapat pada kotak di bawah ini!

R	O	N	G	G	A	H	I	D	U	N	G	H
E	F	R	R	Y	M	F	B	I	E	S	M	I
L	A	R	I	N	G	V	R	A	A	A	P	A
S	R	I	A	D	C	H	O	N	L	E	N	T
A	I	H	F	P	G	E	N	U	V	J	C	R
G	N	S	G	Z	X	O	K	I	E	C	M	A
L	G	C	P	S	L	U	U	N	O	Q	H	K
C	A	M	L	U	R	G	S	A	L	U	A	E
A	S	T	E	A	K	T	O	N	U	L	S	A
B	R	O	N	K	I	O	L	U	S	N	G	E
I	A	T	E	R	M	E	L	O	N	D	K	C
Y	E	R	R	C	P	A	R	U	P	A	R	U

- RONGGA HIDUNG
- FARING
- LARING
- TRAKEA
- BRONKUS
- BRONKIOLUS
- ALVEOLUS
- PARU-PARU

LIVEWORKSHEETS

Pernapasan Manusia

Selesaikanlah teka-teki silang di bawah ini!

TEKA-TEKI SILANG



MENDATAR

1. Udara yang dikeluarkan oleh tubuh saat mengembuska nafas.
3. Penyakit yang terjadi akibat dari penyempitan saluran pernapasan.
5. Bagian dari tenggorokan yang terletak di belakang hidung dan mulut.
8. Yang terjadi pada paru-paru ketika kita menghirup nafas.
9. Salah satu cara untuk menjaga kesehatan organ pernapasan.

MENURUN

2. Organ utama sistem pernapasan manusia yang terletak di rongga dada.
3. Tempat pertukaran antara oksigen dan karbon dioksida.
4. Pintu masuk dan pintu keluar udara dalam sistem pernapasan kita.
6. Dalam pernapasan perut yang membantu kita dalam menghirup dan mengembuskan nafas.
7. Udara yang dibutuhkan oleh tubuh untuk bernapas agar kita dapat hidup.

LIVEWORKSHEETS