# LKPD

## ILMU PENGETAHUAN ALAM

TEMA :

## BAGIAN-BAGIAN TUMBUHAN DAN FUNGSINYA

Nama :

Kelas :

LIVEWORKSHEETS

# BAGIAN 1

Amatilah gambar tanaman dibawah ini, kemudian tuliskan bagian bagian apa saja yang ada di gambar tumbuhan tersebut!




LIVEWORKSHEETS

# BAGIAN 2

Tuliskan fungsi bagian-bagian tumbuhan yang sudah kamu tulis sebelumnya pada bagian 1, pada kolom yang tersedia.

1

2

3

4

5

LIVEWORKSHEETS

Nama : Kelas :

# Lembar Kerja Ilmu Pengetahuan Alam

## Tema: Tumbuhan

**Instruksi:**

Bacalah setiap pertanyaan dengan cermat. Lingkari jawaban yang menurut kamu benar!

**1. Bagian tumbuhan yang berfungsi menyerap air dan nutrisi dari tanah adalah ...**

A. Daun B. Batang C. Akar D. Bunga

**2. Bagian tumbuhan yang berwarna hijau dan melakukan proses fotosintesis adalah ...**

A. Akar B. Batang C. Daun D. Biji

**3. Bagian tumbuhan yang berfungsi mendukung agar tumbuhan bisa berdiri tegak adalah ...**

A. Akar B. Batang C. Daun D. Bunga

**4. Bunga pada tumbuhan umumnya tumbuh di bagian ...**

A. Ujung batang B. Daun C. Akar D. Biji

**5. Bagian tumbuhan yang mengandung benih untuk tumbuhnya tanaman baru adalah ...**

A. Daun B. Batang C. Biji D. Akar

LIVEWORKSHEETS

# FUNGSI BAGIAN TUMBUHAN

Bagian Mana yang Berfungsi?

Nama :

Kelas :

Pilih benda yang lebih panjang dari pasangannya.

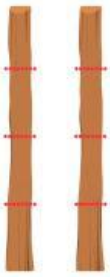

- Menopang tumbuhan
- Tempat berkembang biak
- Tempat membuat makanan
- Menyerap air

LIVEWORKSHEETS

Nama: ..... Kelas: .....

# SIKLUS TUMBUHAN

Gunting dan tempel tahapan siklus hidup tumbuhan dengan tepat!





BENIH KECAMBAH SEMAI TUMBUHAN

LIVEWORKSHEETS

Nama: Kelas:

# Mengenal Anggota Tubuh

Tariklah garis dari gambar ke namanya yang sesuai!

Hidung

Bibir

Telinga

Rambut

Mata

Gigi

LIVEWORKSHEETS

Nama: Kelas:

# Mengenal Anggota Tubuh

**Tariklah garis dari gambar ke namanya yang sesuai!**

- Siku
- Kaki
- Jari Kaki
- Tangan
- Jari Tangan
- Lidah

LIVEWORKSHEETS