كتابة المعادلات بصيغة الميل والمقطع

اكتب معادلة المستقيم المار بالنقطة المعطاة والمعلوم ميله في كل مما يأتي:

١)

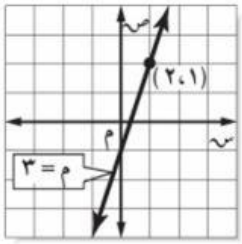

٢)

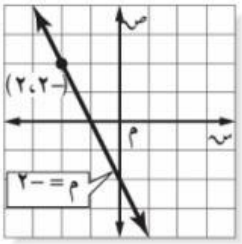

٣)

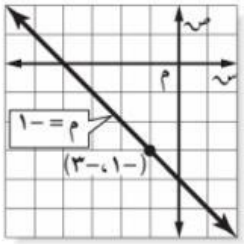

ص = ٣ س – ١	ص = ٢س – ٢	ص = – س – ٤
ص = ٣س + ٣	ص = –٢ س – ٢	ص = – س + ٣
ص = –٢ س + ٣	ص = س + ٢	ص = –٣س + ٣

LIVEWORKSHEETS