26/01/2015

ورقة عمل

نظريّة فيثاغورس

(1) رتّبوا الأعداد التّالية من الصغير إلى الكبير (من اليسار إلى اليمين).

$\frac{1}{2}$ ، $\sqrt{361}$ ، 11.5 ، $\sqrt{25}$ ، $\sqrt{121}$ ، 18.7 ، $\sqrt{1}$

(2) سجّلوا إشارة مناسبة ($<$ ، $>$ أو $=$)، كي تحصلوا على ادّعاءٍ صحيح.

(أ) $4+\sqrt{169}$ ____ $\sqrt{289}$

(ب) $\sqrt{49}-5$ ____ $\sqrt{36}$

(ج) $\sqrt{400}$ ____ $2\cdot\sqrt{100}$

(د) $\sqrt{9}+4$ ____ $\frac{1}{2}\cdot\sqrt{49}$

(3) في كلّ واحدٍ من البنود التّالية أُكتبوا عددًا مناسبًا كي تحصلوا على ادّعاءٍ صحيح.

(أ) $\sqrt{64}=\sqrt{9}+$ ____

(ب) $\sqrt{225}=\sqrt{___}+5$

(ج) $\frac{1}{3}\cdot\sqrt{81}<\sqrt{___}$

(د) $\sqrt{100}+\sqrt{121}>25-$ ____

(4) في كلّ واحدٍ من البنود التّالية سجّلوا إشارة مناسبة ($<$ ، $>$ أو $=$) كي تحصلوا على ادّعاءٍ صحيح.

(أ) $\sqrt{1}$ ____ $\sqrt{49}:7$

(ب) $\sqrt{36}$ ____ $\sqrt{25}+1$

(ج) $\sqrt{289}-17$ ____ $\sqrt{0}$

(د) $\frac{1}{5}\cdot\sqrt{625}$ ____ $\sqrt{16}+\sqrt{9}$

(5) حلّوا التّمارين التّالية. اِحرصوا على ترتيب العمليّات الحسابيّة.

(أ) $10\cdot\sqrt{9}-9\cdot\sqrt{1}=$

(ب) $\sqrt{5^2-2^2\cdot 6}=$

(ج) $\sqrt{196}:(-7)+\sqrt{225}:(-3)=$

(د) $\frac{1}{10}\cdot\sqrt{25}+\frac{1}{2}\cdot\sqrt{36}=$

LIVEWORKSHEETS

(6) معطى قالب العدد التّالي $\sqrt{x+15}$.
عوّضوا كلّ قيمة على حدة واحسبوا قيمة العدد الناتج في القالب العدديّ المعطى.

(أ) $x=(-15)$ (ب) $x=106$ (ج) $x=3$

(7) معطى في الرسم من الجهة اليسرى مربّعان.
مساحة المربّع "أ" هي 144 سم^2.
محيط المربّع "ب" هو 50 سم.
أيّ المربّعين طول ضلعه أكبر ؟

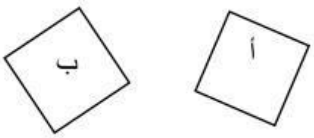

(8) إلى مربّعٍ مساحته 225 سم^2 أُلصِق
مثلّثٌ ارتفاعه 9 سم (أُنظروا إلى الرسم).
(أ) ما النسبة بين طول ضلع المربّع
وارتفاع المثلّث ؟
(ب) اِحسبوا مساحة المثلّث.

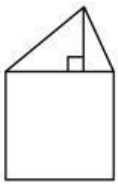

(9) أمامكم 3 مربّعات.

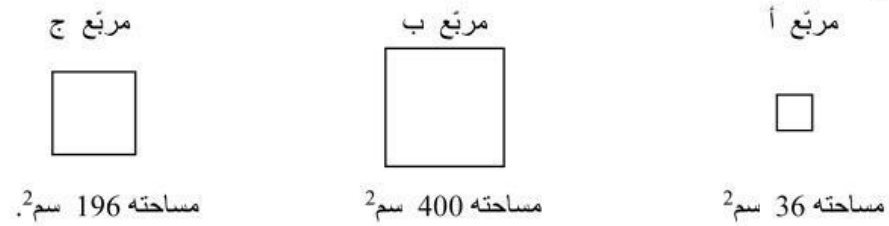

(أ) في كلّ واحدٍ من المربّعات الثلاثة اِحسبوا النسبة بين طول ضلع المربّع ومحيطه.
(ب) ما النسبة بين طول أصغر ضلعٍ من بين أضلاع هذه المربّعات وبين طول أكبر ضلع من بينها ؟

(10) في كلّ واحدٍ من البنود التّالية اِحسبوا قيمة x .
القياسات التي على الرسوم معطاةٌ بالسم.

(أ)

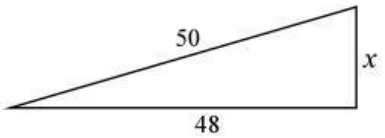

(ب)

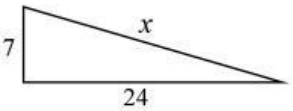

(د)

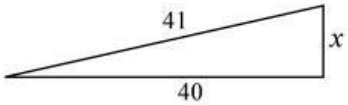

(هـ)

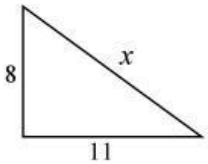

LIVEWORKSHEETS

(11) معطى المستطيل ABCD .
القياسات التي على الرسوم معطاةٌ بالسم.
(أ) اِحسبوا طول الضلع BC .
(ب) اِحسبوا محيط المستطيل.

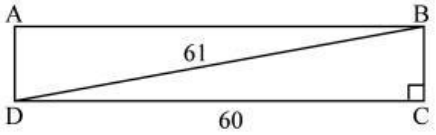

(12) مساحة المستطيل ABCD 420 سم^2.
طول أحد أضلاعه 35 سم.
(أ) اِحسبوا طول الضلع المجاور له.
(ب) اِحسبوا طول القطر BD .
(ج) ما محيط المثلّث ΔBCD ؟

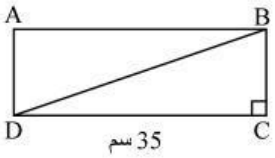

(13) في المستطيل ABCD معطى:
12.5 سم = AP ،
15 سم = AD .
(أ) ما طول القطر AC ؟
(ب) اِحسبوا طول الضلع DC .
(ج) ما محيط المثلّث ΔAPD ؟

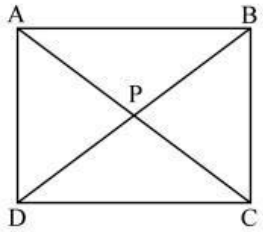

(14) في المستطيل ABCD معطى:
17 سم = CE ، 8 سم = BC ،
E هي منتصف الضلع AB .
(أ) اِحسبوا طول EB .
(ب) اِحسبوا طول AB .
(ج) اِحسبوا طول القطر AC .

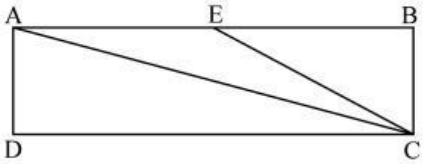

(15) في الرسم معطى المثلّث ΔABC .
القياسات التي على الرسوم معطاةٌ بالسم.
(أ) اِحسبوا طول القائم AB .
(ب) اِحسبوا طول القطعة AD .
(ج) اِحسبوا طول الوتر DC
في المثلّث ΔADC .

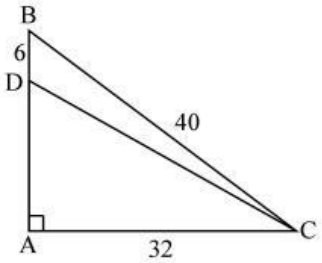

LIVEWORKSHEETS

(16) في الرسم معطى المثلّث ΔABD .
القياسات التي على الرسوم معطاةٌ بالسم.

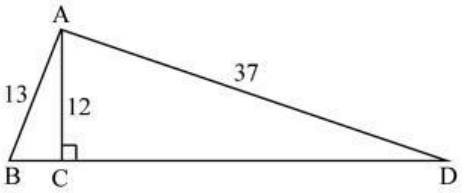

(أ) اِحسبوا طول الضلع BD في ΔABD .
(ب) ما النسبة بين طول القطعة BC
وطول القطعة CD .
(ج) بكم ضعفٍ مساحة المثلّث ΔACD
أكبر من مساحة المثلّث ΔABC ؟

(17) ΔABC هو مثلّث متساوي السّاقين.
مساحته 120 سم^2.
طول الارتفاع على القاعدة 20 سم.

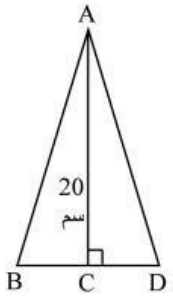

(أ) اِحسبوا طول القطعة BC .
(ب) اِحسبوا طول القاعدة BD .
(ج) اِحسبوا طول السّاق AB .

(18) ΔABC هو مثلّث متساوي السّاقين.
محيطه هو 50 سم.
طول السّاق AB هو 17 سم.

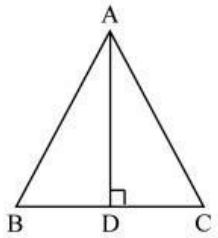

(أ) اِحسبوا طول القاعدة BC .
(ب) اِحسبوا طول BD .
(ج) اِحسبوا طول AD .

(19) معطى في الرسم من الجهة اليسرى المثلّث ΔABC .
القياسات التي على الرسوم معطاةٌ بالسم.

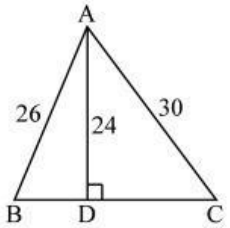

(أ) اِحسبوا طول CD .
(ب) اِحسبوا طول BC .
(ج) اِحسبوا مساحة المثلّث ΔABD .
(د) ما النسبة بين مساحة المثلّث ΔABC
ومساحة المثلّث ΔACD ؟

(20) معطى في الرسم من الجهة اليسرى المستطيل ABCD .
القياسات التي على الرسوم معطاةٌ بالسم.

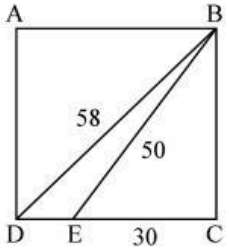

(أ) اِحسبوا طول الضلع BC .
(ب) اِحسبوا طول الضلع AB .
(ج) اِحسبوا طول القطعة DE .
(د) اِحسبوا مساحة المثلّث ΔBDE .
(هـ) اِحسبوا محيط المثلّث ΔBCD .

LIVEWORKSHEETS

(21) معطى في الرسم من الجهة اليسرى مثلّث قائم الزاوية ومتساوي السّاقين ABC .

(أ) أُكتبوا تعبيرًا لمساحة المثلّث.

(ب) إذا كانت مساحة المثلّث 200 سم^2، فاحسبوا طول السّاق AB .

(ج) اِحسبوا طول الوتر AC .

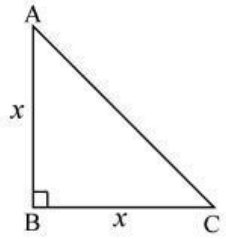

(22) في الشّكل الرّباعيّ ABCD معطى:

$AB = AD$ ، $ABC = ADC = 90°$.

(أ) برهنوا أنّ $\Delta ABC \cong \Delta ADC$.

(ب) إذا أُعطيَ أنّ $BAC = 26°$ ، فما مقدار الزاوية DAC ؟ علّلوا.

(ج) إذا كان معطى أنّ $BC = CD$ (بدلًا من المعطى $AB = CD$)، فهل $\Delta ABC \cong \Delta ADC$ ؟

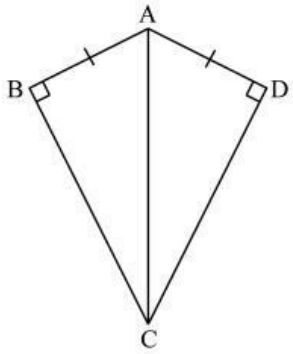

(23) في كلّ واحدٍ من الرسوم التّالية حدّدوا هل المثلّثات متطابقة حسب نظريّة التّطابق الرّابعة أم لا ؟ علّلوا إجابتكم.

القياسات التي على الرسوم معطاةٌ بالسم.

(أ)

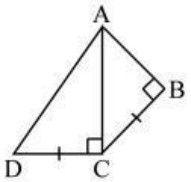

(ب)

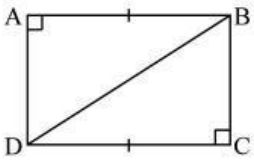

(ج)

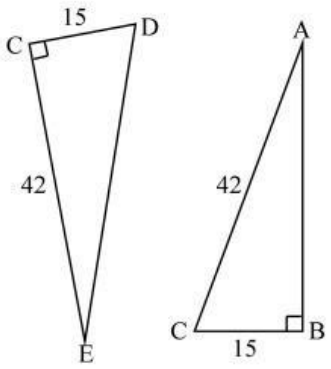

(د)

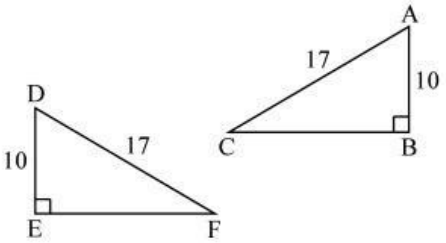

بالنّجاح!

LIVEWORKSHEETS

أجوبة نهائيّة

(1) $\sqrt{361}$ ، 18.7 ، 11.5 ، $\sqrt{121}$ ، $\sqrt{25}$ ، $\sqrt{1}$ ، $\frac{1}{2}$

(2) (أ) $=$ (ب) $>$ (ج) $=$ (د) $<$

(3) (أ) $\sqrt{64} = \sqrt{9} + \mathbf{5}$ (ب) $\sqrt{225} = \sqrt{\mathbf{100}} + 5$

(ج) مثال: $\frac{1}{3} \cdot \sqrt{81} < \sqrt{\mathbf{10}}$. (د) مثال، $\sqrt{100} + \sqrt{121} > 25 - \mathbf{5}$.

(4) (أ) $=$ (ب) $=$ (ج) $=$ (د) $<$

(5) (أ) 21 (ب) 1 (ج) -7 (د) 3.5

(6) (أ) 0 (ب) 11 (ج) $\sqrt{18} \approx 4.24$

(7) مربّع ب.

(8) (أ) 5:3 (ب) 67.5 سم^2.

(9) (أ) 1:4 (ب) 3:10

(10) (أ) $x =$ 14 سم (ب) $x =$ 25 سم

(ج) $x =$ 9 سم (د) $x =$ $\sqrt{185} \approx$ 13.6 سم

(11) (أ) BC = 11 سم (ب) $P_{ABCD} =$ 142 سم

(12) (أ) 12 سم. (ب) BD = 37 سم (ج) $P_{\Delta BCD} =$ 84 سم

(13) (أ) AC = 25 سم (ب) DC = 20 سم (ج) $P_{\Delta APD} =$ 40 سم

(14) (أ) EB = 15 سم (ب) AB = 30 سم

(ج) AC = $\sqrt{964} \approx$ 31.05 سم

(15) (أ) AB = 24 سم (ب) AD = 18 سم

(ج) DC = $\sqrt{1,348} \approx$ 36.72 سم

(16) (أ) BD = 40 سم (ب) 1:7 (ج) 7 أضعاف.

(17) (أ) BC = 6 سم (ب) BD = 12 سم

(ج) AB = $\sqrt{436} \approx$ 20.88 سم

(18) (أ) BC = 16 سم (ب) BD = 8 سم

(ج) AD = 15 سم

(19) (أ) CD = 18 سم (ب) BC = 28 سم

(ج) $S_{\Delta ABD} =$ 120 سم^2 (د) 14:9

(20) (أ) BC = 40 سم (ب) AB = 42 سم

(ج) DE = 12 سم (د) $S_{\Delta BDE} =$ 240 سم^2

(هـ) $P_{\Delta BCD} =$ 140 سم

(21) (أ) $\frac{1}{2}x^2$ (ب) AB = 20 سم

(ج) AC = $20\sqrt{2} \approx$ 28.28 سم

(22) (أ) إفحصوا مع المعلّم في الصّفّ. (ب) DAC = 26° (ج) إفحصوا مع المعلّم في الصّفّ.

(23) (أ) كلّا. (ب) نعم. (ج) كلّا. (د) نعم.

LIVEWORKSHEETS

גבי יקואל

משבצת

www.mishbetzet.co.il

טלפון: 04-8200929

ספרי לימוד וספרי מבחני מתכונת במתמטיקה

◊ לכל הכיתות ◊ לכל השאלונים ◊ לכל הרמות

LIVEWORKSHEETS