Вариант II

Часть 1

А1. Тупой угол изображен на рисунке

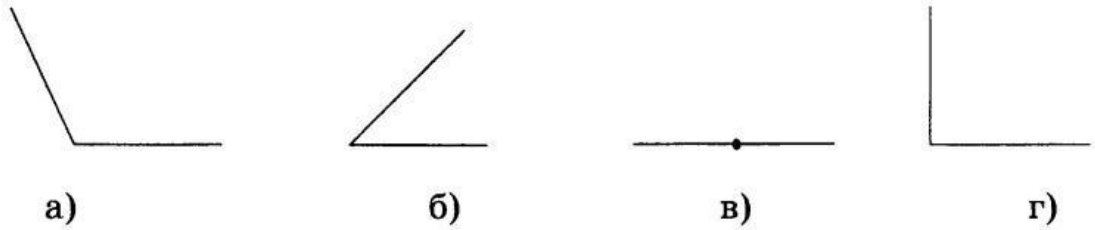

а) ☐
б) ☐
в) ☐
г) ☐

А2. Перпендикулярные прямые изображены на рисунке

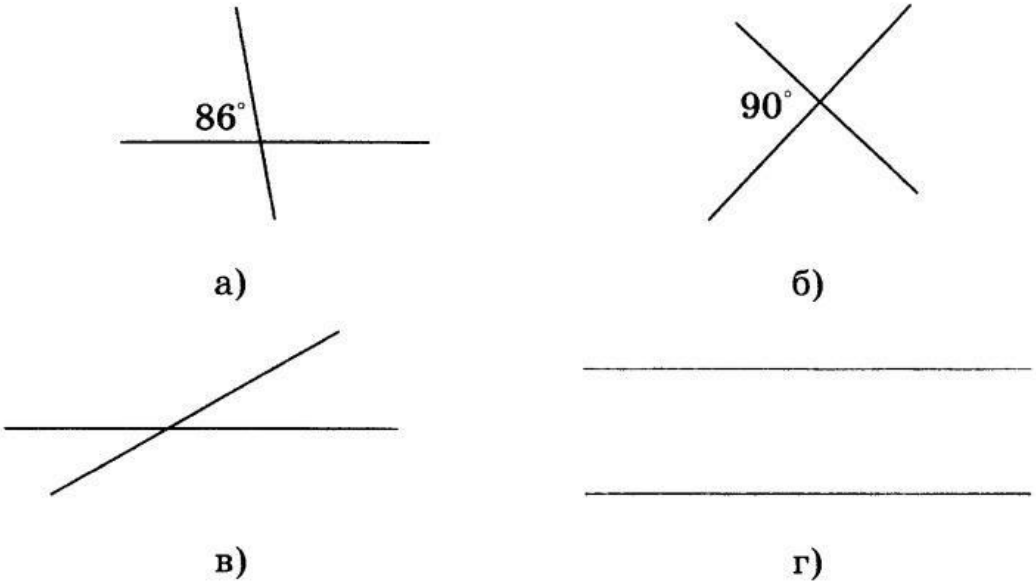

а) ☐
б) ☐
в) ☐
г) ☐

А3. Равные фигуры изображены на рисунке

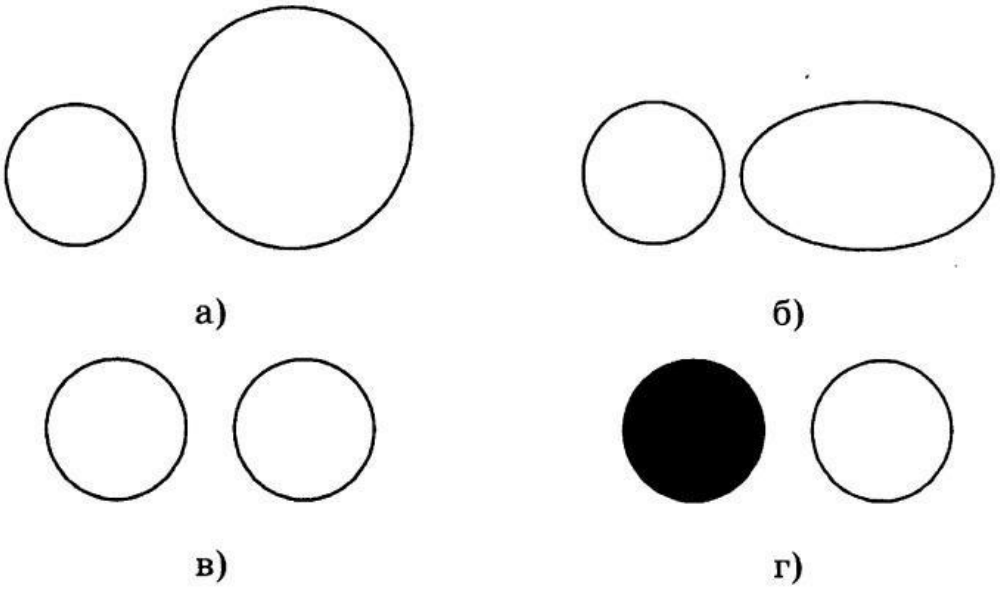

а) ☐
б) ☐
в) ☐
г) ☐

LIVEWORKSHEETS

А4. Если точка B — середина отрезка AC, то

а) $AC + CB = AC$;

б) $AB = AC$;

в) $AB = 2AC$;

г) $AC = 2AB$.

А5. Точка A делит отрезок BC на два отрезка. $AB = 6$ см, $AC = 9$ см. Тогда BC будет равен

а) 15 см;

б) 3 см;

в) 6 см;

г) 9 см.

А6. Один из углов, образованных при пересечении двух прямых, — острый. Тогда остальные углы будут

а) острый и тупые;

б) тупые и прямой;

в) острые;

г) тупые.

А7. Луч OE делит угол COB на 2 угла. $\angle COE = 26^\circ 54'$, $\angle COB = 55^\circ 46'$. Тогда $\angle EOB$ равен

а) $28^\circ 92'$;

б) $28^\circ 52'$;

а) 82°;

а) $82^\circ 40'$.

Часть 2

В1. На рисунке изображена фигура MN, которая называется

_____

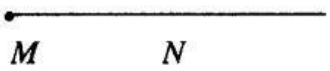

LIVEWORKSHEETS