@ikawiryawulandari

SISTEM EKSKRESI MANUSIA

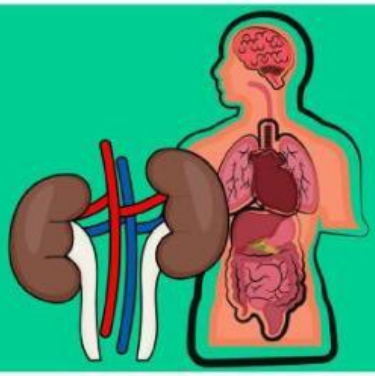

Kerjakan berkelompok!

Kelas VIII (delapan)

SOAL PILIHAN GANDA

1. Dibawah ini yang **bukan** termasuk organ sistem ekskresi adalah ...
   A. Hati
   B. Kulit
   C. Jantung
   D. Ginjal
2. Zat berikut yang tidak dihasilkan oleh hati adalah...
   A. Glukosa
   B. Empedu
   C. Urea
   D. Albumin

SOAL ISIAN SINGKAT

3. Ginjal menghasilkan .....

4. Kulit menghasilkan .....

SOAL BENAR SALAH

GINJAL SEBELAH KIRI LETAKNYA LEBIH TINGGI DARIPADA GINJAL SEBELAH KANAN.	BENAR	SALAH
LAPISAN PERTAMA KULIT DISEBUT HIPODERMIS	BENAR	SALAH

LIVEWORKSHEETS

LIVEWORKSHEETS

SOAL MENJODOHKAN

GINJAL

PARU-PARU

KULIT

HATI

DRAG AND DROP

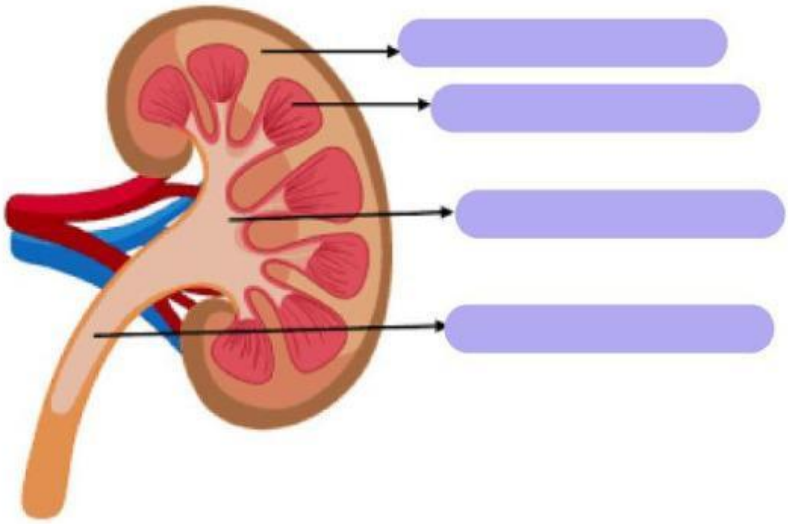

PELVIS RENALIS

MEDULA RENALIS

KORTEKS RENALIS

URETER

LIVEWORKSHEETS

LIVEWORKSHEETS

PILIHAN

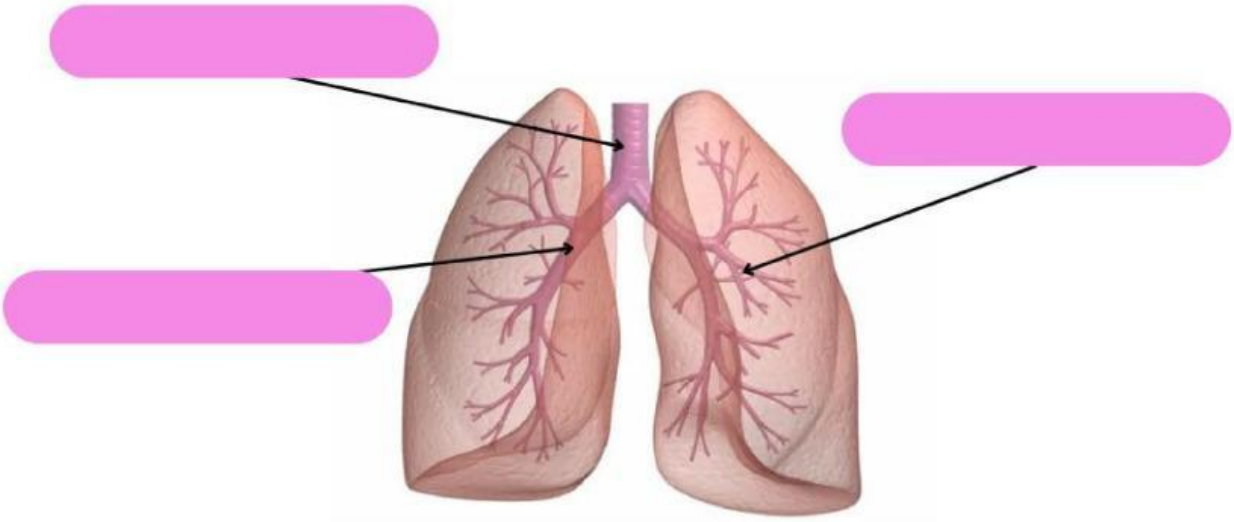

LIVEWORKSHEETS

LIVEWORKSHEETS