PENILAIAN ULANGAN HARIAN 2
MATEMATIKA KELAS IX
SMP HANG TUAH 1 JAKARTA

NAMA : .....

KELAS : .....

1. Perhatikan gambar berikut!

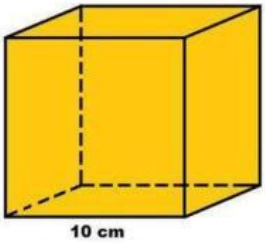

Berapakah luas permukaan kubus pada gambar di samping ?

Diketahui : .....

.....

.....

Ditanyakan : .....

.....

.....

Jawab : .....

.....

.....

2. Sebuah balok memiliki lebar 5 cm dan tinggi 3 cm. Jika luas permukaannya adalah 142 cm^2, berapa panjang balok tersebut?

Diketahui : .....

.....

.....

Ditanyakan : .....

.....

.....

.....

.....

Jawab : .....

.....

.....

3. Sebuah prisma, alasnya berbentuk segitiga siku-siku. Jika tinggi segitiga 16 cm, panjang alas 30 cm, dan tinggi prisma 18 cm. Berapa luas permukaannya ?

Diketahui : .....

.....

.....

Ditanyakan : .....

.....

Jawab : .....

.....

.....

.....

.....

.....

.....

.....

LIVEWORKSHEETS

4. Perhatikan gambar berikut!

Sebuah dus kemasan cokelat berbentuk prisma segitiga dengan ukuran seperti gambar berikut.

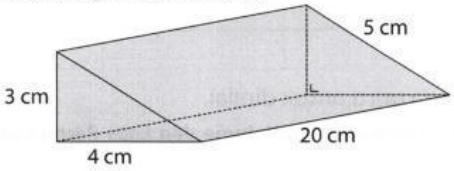

Tentukan luas permukaan dus kemasan cokelat tersebut!

Diketahui :	Jawab :
Ditanyakan :	

5. Perhatikan gambar berikut!

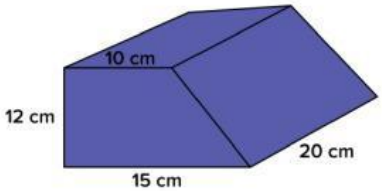

Diketahui :	Jawab :
Ditanyakan :	

LIVEWORKSHEETS