TERCER GRADO

MATEMÁTICA

ANTES Y DESPUÉS

1. Completa según convenga:

_____	2 006	_____
1 999	_____	2 001
3 459	_____	3 461
16 700	_____	_____
9 999	_____	_____
_____	10 000	_____
_____	13 269	_____
_____	_____	20 001
_____	_____	39 560
34 567	_____	_____
87 654	_____	_____
13 971	13 972	_____
69 039	_____	_____
_____	_____	4 733
_____	_____	27 890

Visita: Webdeldocente.com
LIVEWORKSHEETS

TERCER GRADO

MATEMÁTICA

Aproximando números: ¿cerca o lejos?

1. Observa el siguiente camino:

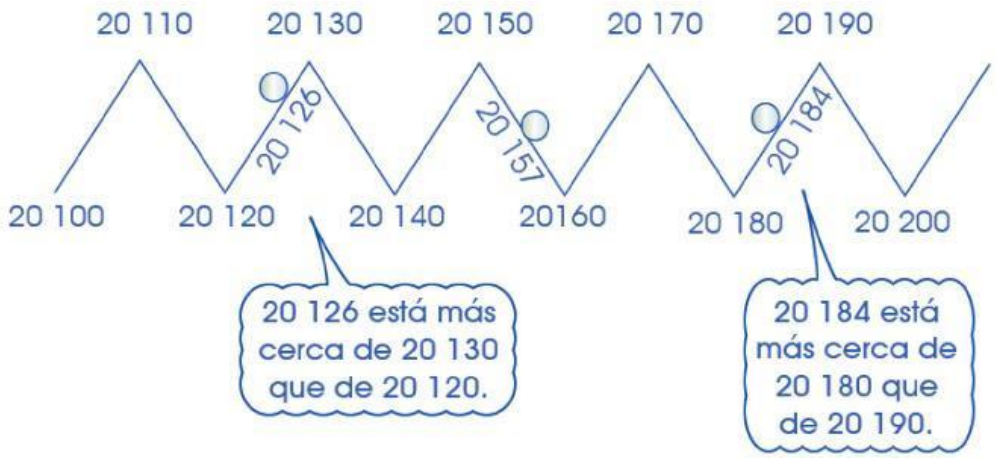

2. Fíjate en la figura; entre qué decenas están 20 126; 20 157 y 20 184, luego completa.

a) 20 126 está entre 20 120 y 20 130, y la decena más próxima es 20130.

b) 20 184 está entre _____ y _____, y la decena más próxima es _____.

c) 20 157 está entre _____ y _____, y la decena más próxima es _____.

3. En cada serie, encierra las decenas más cercanas de los números que están dentro de los cuadrados:

a)	428	-	410	420	430
b)	476	-	450	470	480
c)	16	-	10	20	30
d)	1 242	-	1 230	1 240	1 250
e)	827	-	810	820	830
f)	723	-	710	720	730



Visita: Webdeldocente.com

LIVEWORKSHEETS

TERCER GRADO

MATEMÁTICA

4. Observa la siguiente recta numérica y completa los cuadros:

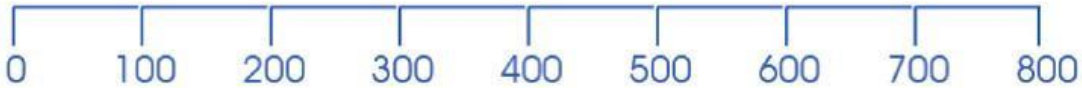

Número	¿Entre qué centenas se encuentra?	¿Cuál es la centena más próxima?
243		
372		
599		
112		

Número	¿Entre qué centenas se encuentra?	¿Cuál es la centena más próxima?
172		
639		
327		
281		

5. Aproxima a la centena los siguientes números:

369 : _____

4 678 : _____

9 999 : _____

3 299 : _____

10 001 : _____

3 364 : _____

7 899 : _____

49 999 : _____

6. Aproxima a la unidad de millar los siguientes números:

31 643 : _____

23 957 : _____

8 432 : _____

45 036 : _____

4 523 : _____

52 325 : _____

1 243 : _____

37 345 : _____

Visita: Webdeldocente.com

LIVEWORKSHEETS