1. Marca con una **X** la opción que **NO** corresponde a una de las etapas de la evolución del hombre:

Homo sapien	Homo habilis	Homo sabius	Australopithecus	Homo erectus
☐	☐	☐	☐	☐

2. Relaciona cada imagen uniendo con una línea con la palabra correspondiente al uso que el hombre primitivo le dio al fuego según sus necesidades:

Defenderse de los animales



Calentarse



Cocinar alimentos

Iluminar las noches

LIVEWORKSHEETS

3. Teniendo en cuenta la evolución del hombre y sus avances, une con una línea al Homo Sapiens con el tipo de vivienda que le corresponde:

Homo Sapiens

VIVIENDA (HABITAT)



4. Escoge la respuesta correcta según la forma de vida de los primeros habitantes:

- Se organizaban en pequeños grupos:

  NOMADAS SEDENTARIOS

- Se movían de un lugar a otro por los cambios de estación:

  NOMADAS SEDENTARIOS

- Se dedicaban a cazar y recolectar lo que encontraban:

  NOMADAS SEDENTARIOS

- Criaban ganado y cultivaban la tierra:

  NOMADAS SEDENTARIOS

- Sus viviendas eran más resistentes a los cambios del clima:

  NOMADAS SEDENTARIOS

- Sus viviendas eran fabricadas con ramas, paja o pieles de animales:

  NOMADAS SEDENTARIOS

LIVEWORKSHEETS

5. Escoge la opción que **NO** corresponde a la forma de vida senderaría:

Cultivaron la tierra ☐ Recolectaban frutas ☐ Construyeron casa fuertes ☐

6. Escoge la opción que corresponde a la forma de vida nómada:

Cultivaron la tierra ☐ Criaban animales ☐ Se movían de un lugar a otro ☐

7. Une con una línea la imagen según corresponda con la forma de vida:





NOMADAS

SEDENTARIOS

8. Escoge la respuesta correcta:

La razón por la cual el ser humano paso del nomadismo al sedentarismo:

Descubrió la pesca

Se cansó de caminar

Descubrió el fuego

Descubrió la agricultura

LIVEWORKSHEETS

9. Escoge la respuesta correcta:

Las primeras comunidades humanas estaban organizadas en:

Hordas Pandillas Tribus	Clanes Familias Tribus	Hordas Clanes Tribus	Hordas Pandillas Amigos

10. Escoge la respuesta correcta:

Las tribus estas formadas por:

Mis amigos	**Clanes**	**Hordas**	**Pandillas**

11. Escribe los números del 1 al 3 para organizar la aparición de las primeras comunidades humanas desde la primera a la última:

	CLANES
	HORDAS
	TRIBUS

12. Escoge la respuesta correcta:

La comunidad que se forma solo por instinto y la necesidad de búsqueda de alimento y defensa ante los animales fue:

	CLANES
	HORDAS
	TRIBUS

LIVEWORKSHEETS