LEMBAR KERJA PESERTA DIDIK

MATEMATIKA

LIVEWORKSHEETS

Nama :

Kelas :

Membandingkan Pecahan dengan Penyebut Sama

Bandingkan pecahan dari gambar yang diarsir berikut dengan mengisi tanda “< dan >” pada kotak kosong!

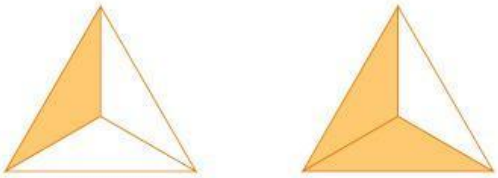

$\frac{1}{3} < \frac{2}{3}$

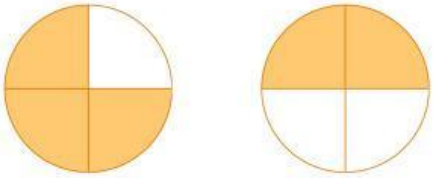

$\frac{\dots}{\dots}$ ..... $\frac{\dots}{\dots}$

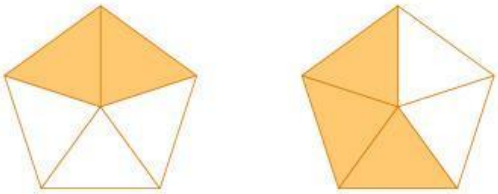

$\frac{\dots}{\dots}$ ..... $\frac{\dots}{\dots}$

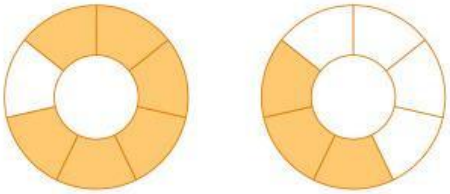

$\frac{\dots}{\dots}$ ..... $\frac{\dots}{\dots}$

Bandingkan pecahan berikut dengan tanda “< dan >”!

$\frac{4}{5}$ ..... $\frac{3}{5}$ $\quad$ $\frac{3}{7}$ ..... $\frac{5}{7}$ $\quad$ $\frac{7}{9}$ ..... $\frac{6}{9}$

$\frac{5}{8}$ ..... $\frac{7}{8}$ $\quad$ $\frac{5}{10}$ ..... $\frac{4}{10}$ $\quad$ $\frac{10}{12}$ ..... $\frac{11}{12}$

LIVEWORKSHEETS

Nama :

Kelas :

Mengurutkan Pecahan dengan Penyebut Sama

Kerjakan soal pecahan dibawah ini, lalu buatkan alasan singkat atas jawaban yang didiskusikan!

NO	PECAHAN	KETERANGAN	JAWABAN & ALASAN
1	5/4, 3/4, 7/4, 11/4, 9/4,	urutkan dari terkecil hingga terbesar	
2	1/2, 9/10, 5/4	apakah ini pecahan dengan penyebut yang sama?	
3	8/6, 2/6, 3/6, 5/6	urutkan dari terbesar hingga terkecil	

LIVEWORKSHEETS