BANGUN RUANG SISI LENGKUNG
(Luas Selimut Tabung, Kerucut dan Bola)

NAMA :

KELAS :

A. Perhatikan video di bawah ini

B.

B. Pilihlah salah satu jawaban di bawah ini

1. Rumus luas sisi tabung adalah....

   A. 2µrt C. 2µr (r + t)

   B. µrs D. µr (r + s)

2. Rumus luas sisi kerucut adalah....

   A. 2µrt C. 2µr (r + t)

   B. µrs D. µr (r + s)

3. Rumus luas sisi bola adalah....

   A. 2µrt C. 2µr (r + t)

   B. µrs D. µr (r + s)

4. Pilihlah nama yang sesuai dengan simbol s yang ada pada bangun di bawah ini!

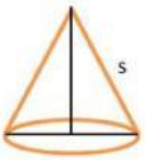

LIVEWORKSHEETS

LIVEWORKSHEETS

5. buatlah garis yang sesuai dengan hasil dari gambar berikut!

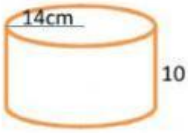

L= 1.508,2cmcm^2

L= 308 cm^2

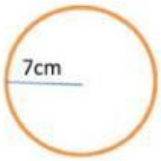

L= 616 cm^2

6. Tariklah rumus yang sesuai dengan gambar!

$L = \frac{1}{2}\, a \,.\, t$

L = p . l

L = μr^2

LIVEWORKSHEETS

LIVEWORKSHEETS