Thứ ..... ngày ..... tháng .... năm 2025

HỆ THỐNG GIÁO DỤC
LÝ THÁI TỔ

PHIẾU LUYỆN TOÁN TUẦN 5 – SỐ 2

Họ và tên :……Lớp 1A.....

Bài 1: Điền số

□ < 2 1 > □ □ > 9 2 > □ > 0

Bài 2: Điền số

1 + ….. = 4	1 + ….. = 5	1 + ….. = 6	5 + ….. = 5
….. + 2 = 5	….. + 2 = 4	….. + 3 = 6	….. + 2 = 4
2 + ….. = 6	2 + ….. = 4	2 + ….. = 5	….. + 0 = 3

Bài 3: Viết phép so sánh

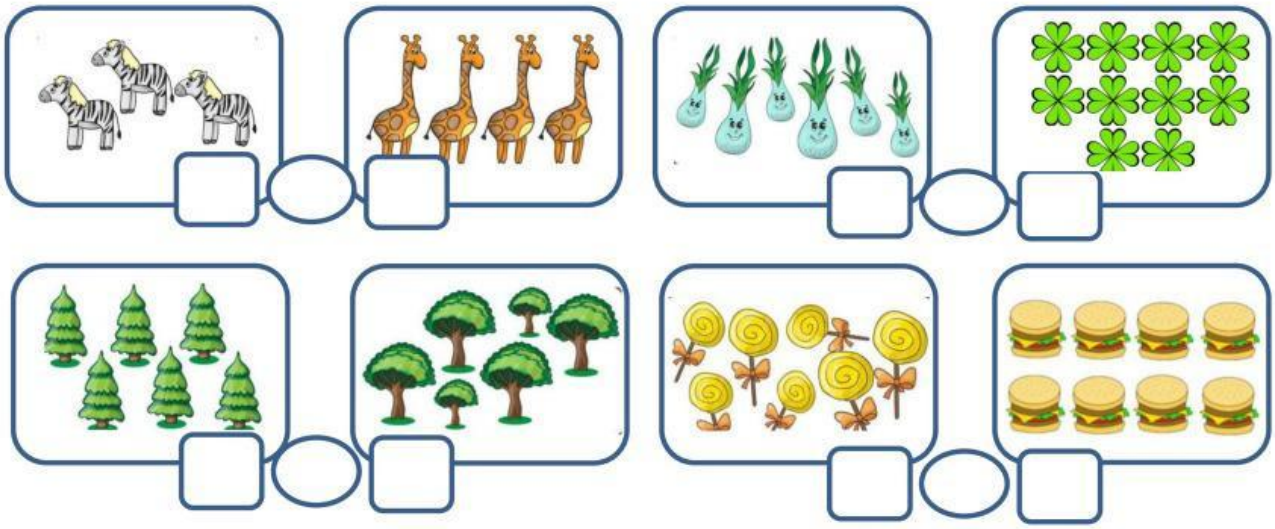

Bài 4: Điền số vào ô trống

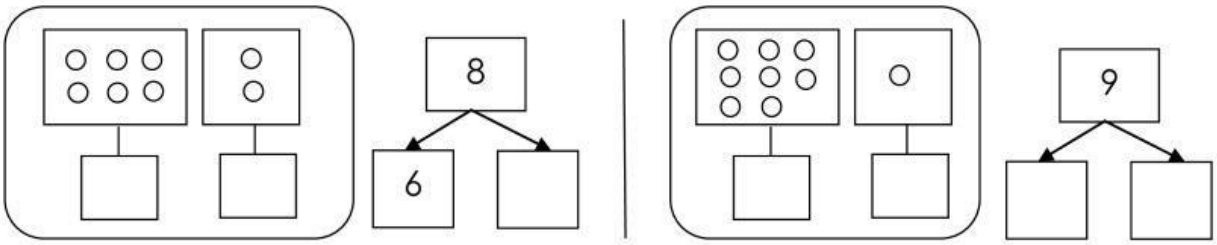

Bài 5: Điền số

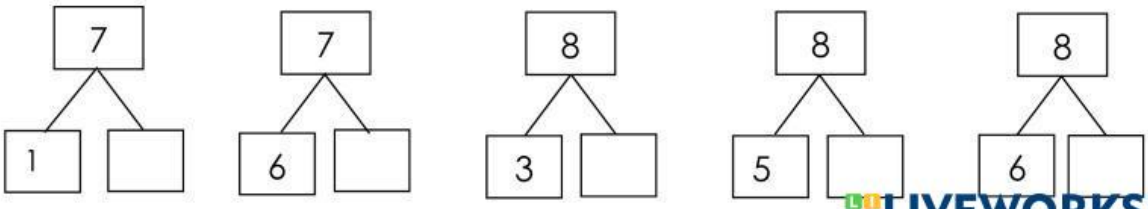

LIVEWORKSHEETS

Bài 6: **Tìm xe cho bạn**

Bài 7: **Nối ô trống với số thích hợp**

4 + 2	>	

5 + 4	=	

5 6 7 8 9 10

LIVEWORKSHEETS