التحول | التكاثر | الخلية | البيئة | الاستجابة | الورقة | الاكسجين

ضعي المصطلح المناسب في المكان المناسب:

١) ....أن ينتج المخلوق الحي أفراد جديده من نوعه..

٢) .....قدرة المخلوق الحي على التفاعل مع ما يحيط به

٣) .....المكان الذي يعيش فيه المخلوق الحي..

٤) .....غاز يوجد في الماء والهواء يحتاج اليه المخلوق الحي ليعيش.

٥) .....وحدة بنائية تكون جسم المخلوق الحي.

٦) .....تركيب في النبات هيأه الله لصنع الغذاء

٧) .....سلسلة من التغيرات التي يمر بها المخلوق الحي أثناء نموه

اختاري الإجابة الصحيحة مما يلي

١- تركيب في النبات يقوم بعملية البناء الضوئي لصنع الغذاء :							
أ	الورقـة	ب	الجذر	ج	الساق	د	الزهرة
٢- تركيب في النبات يقوم بامتصاص الماء والأملاح وتثبيت النبات في التربة :							
أ	الورقـة	ب	الجذر	ج	الساق	د	الزهرة
٣- تركيب في النبات يشكل قوام النبات وينقل الماء والأملاح والغذاء الى جميع أجزاء النبات							
أ	الورقـة	ب	الجذر	ج	الساق	د	الزهرة
٤- تركيب في النبات يقوم بتكوين الثمار والبذور							
أ	الورقـة	ب	الجذر	ج	الساق	د	الزهرة
٥- تركيب ينمو ليصبح نباتا جديدًا							
أ	الورقـة	ب	الجذر	ج	الساق	د	البذرة

معلمة المادة : امل فقيري

LIVEWORKSHEETS

مراجعة علوم ثالث ١



الورقة

الثمار

الجذور

الساق

الزهرة

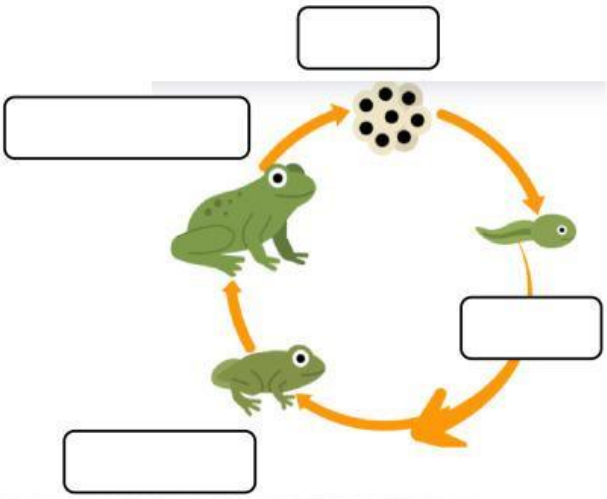

ابوذنيبة

بيضة

ضفدع مكتمل النمو

ضفدع صغير

رتبي دورة حياة الخنفساء من ١- ٤

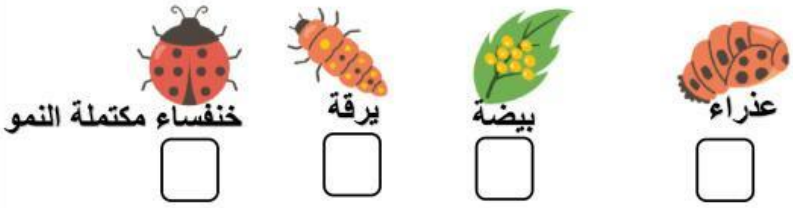

الخصائص التي تشترك فيها المخلوقات

ما الحاجات المخلوقات الحية ؟

معلمة المادة : امل فقيري

LIVEWORKSHEETS