FICHA REPASO MATEMÁTICAS

1. **ESCRIBE DENTRO DE CADA PELOTA EL NÚMERO QUE CORRESPONDE.**

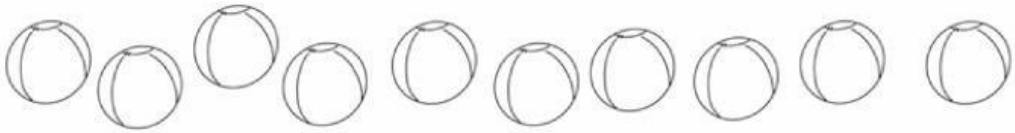

2. **INDICA EL NÚMERO QUE FALTA EN MEDIO DE LOS DOS.**

1 - ☐ - 3 2 - ☐ - 4 3 - ☐ - 5

4 - ☐ - 6 6 - ☐ - 8 5 - ☐ - 7 7 - ☐ - 9

3. **CUENTA Y ESCRIBE EL NÚMERO.**

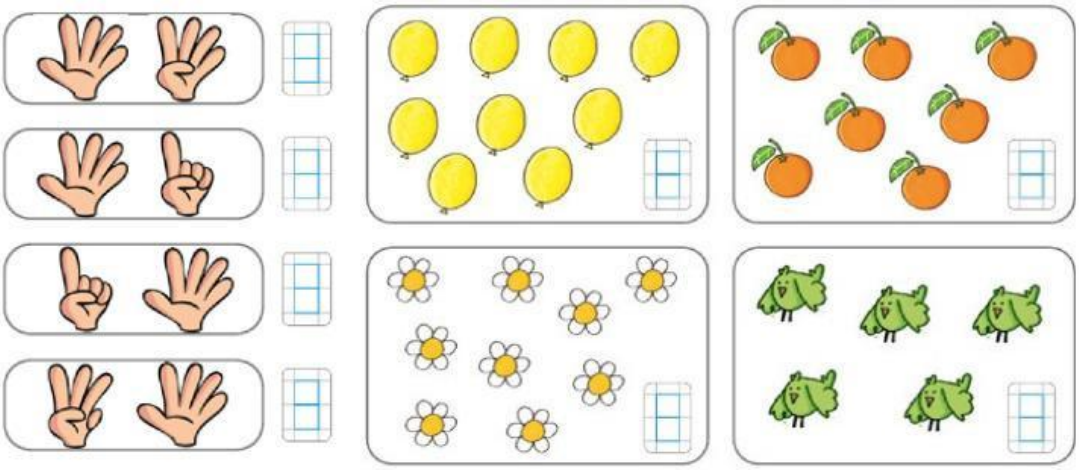

4. **COMPLETA CON NÚMEROS Y CALCULA LA SUMA:**

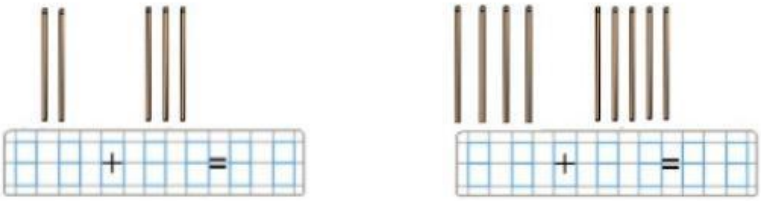

5. **SIGUE LA SERIE:**

2 - 2 - 3 - 2 - 2 - ☐

1 - 3 - 5 - 1 - 3 - ☐

LIVEWORKSHEETS

6. MARCA LA MANO DONDE HAYA MUCHOS PALILLOS.

7. MARCA LA MANO DONDE HAYA POCOS PALILLOS.

8. MARCA LA MANO DONDE NO HAYA NINGÚN PALILLO.

9. MARCA EL LÁPIZ MÁS PEQUEÑO.

10. COMPLETA LAS CASITAS. PUEDES UTILIZAR COLORES SI LO NECESITAS.

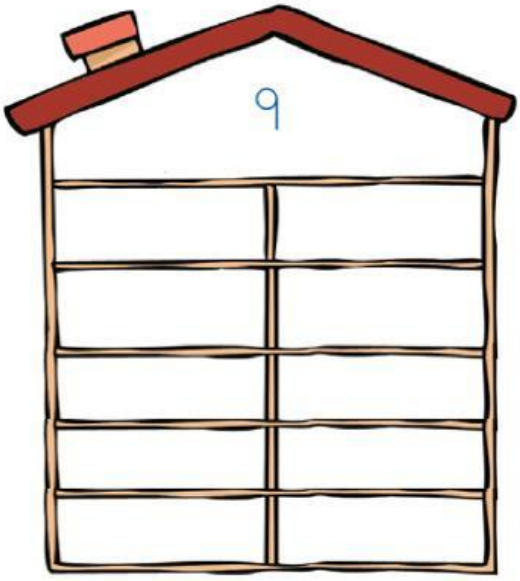

LIVEWORKSHEETS